UNIVERSAL
LIBRARY
OU_224747
UNIVERSAL
LIBRARY

الحمد للہ والمنۃ

ہمبلن ہمتھہ صاحب مہندس کی اقلیدس مختصر کے پہلے دو مقالے

جنمین اشکال ہندسیہ کے ثبوت مین صرف علامات

و مخففات کو دخل دیا ہے

سررشتہ تعلیم اودھ مین مولوی ابو الحسن صاحب بک پورٹر نے ترجمہ کیا اور

بار دوم

مطبع منشی نولکشور مقام لکھنؤ مین چھپی

بماہ اپریل سنہ ۱۸۷۶ع

دیباچہ

اس رسالہ کی تالیف سے مولف کی یہ غرض ہے کہ اقلیدس کی ترتیب قائم رکھے اور جو باتین اوس سے چھوٹ گئی ہین وہ بیان کرے اور مختصر حاشیے مطالب دقیق کی تشریح کے واسطے لکھے اور نہایت مشکل شکلون کو سہل تر طریقے سے ثابت کرے۔

یہ رسالہ اصل عبارت یونانی سے موافق اقلیدس مؤلفہ آگسٹ و پیرڈ کے لکھا گیا ہے اور پروفسر ڈی مورگن صاحب مرحوم نے جو مفید باتین لکھی ہین اور وہ کتاب مسمّی بہ کمپینین لو دی برٹش المانک مین مذکور ہین اونھین بھی مؤلف نے مرعی و ملحوظ رکھا ہے۔

اکثر اشخاص کو یہ مرغوب ہے کہ علم ہندسہ مین الفاظ کے مقام پر علامات استعمال کیے جائین اور مؤلف نے بڑے معتبر لوگون سے سنا ہے کہ جو علامتین اس رسالہ مین مستعمل ہوئی ہین وہ مدارس عالیہ

اکسفرڈ و کیمبرج[1] کے امتحانات مین جایز و مقبول ہین

مولف نے اکثر اقلیدس کے طریقۂ استدلال کی پیروی کی ہے لکن اور طرق استدلال کو جو اوس سے سہل تر اور واضح تر ہین ترک نہین کیا ہے اور مولف کا یہ قصد ہے کہ پہلے مقالہ کی پانچوین اور ساتوین شکل کہ مشکل ہے اور طریقون سے ثابت کرے اور اوس مین بھی راقم نے کوشش کی ہے کہ اکثر اشکال کو جیسی شکل ۲ و ۱۳ و ۳۵ مقالہ اول کی اور شکل ۱۳ مقالہ دوم کی ایسے طریقے سے ثابت کرے کہ طالب العلم کو دقت اور انتشار کم ہو دوسرے مقالہ کی شکل ۴ و ۵ و ۶ و ۷ و ۸ مین مولف نے اقلیدس کے طریقہ بیان و استدلال مین بڑا تصرف کیا ہے اور ان اشکال سے **اقطار** کو اور اونکے دعوے کی عبارت سے **اعلام** کو حذف کر دیا ہے

تیسرے مقالہ مین راقم نے اس سے زیادہ جرأت کی ہے اور اقلیدس کے سلسلۂ بیان سے عدول کیا ہے اس واسطے کہ اس مقالہ مین خواص دائرہ سے بحث کی ہے اور اسی بحث سے چند مسائل اہم جنکا ذکر اس رسالہ کی فوائد و تنبیہات مین ہے واضح ہوتے ہین ان مسائل اہم سے راقم کی مراد قاعدہ **تطبیق** ہے جس سے

---

[1] راقم کے نزدیک یہ امر بالکل طے ہو چکا ہے اوسکا غذات امتحان علم ہندسہ پر ممتحنین مدرسہ عالیہ کیمبرج نے یہ دو اشتہار لکھدیے ہین

پہلے امتحان کے کاغذات پر یہ لکھا ہے۔ ان سوالات کے جوابات مین ایسی علامات و مخففات جو سمجھ مین آجائین مستعمل ہو سکتی ہین

پھر دوسرے امتحان کے کاغذات پر لکھا ہے۔ اقلیدس کے سوالات کے جواب مین یہ علامت (ـــ) نہ لکھی جائے لکن اب کے مربع کیواسطے فقط اسکا مخفف لع اب لکھ سکتے ہین اور سطح جو اب اور س د سے گھری ہو اسکا مخفف لع اب س د لکھ سکتے ہین ۱۲

مساوات مقادیر معلوم ہوتی ہے اور **زاویہ** کو یہ خیال کرنا ہی کہ وہ ایسی مقدار ہے جو بنا حدّ و نہایت بڑھ سکتی ہے اور اون **قاعدون** کا بیان کرنا ہے جو **محل** اور **تناسب** مقادیر سے متعلق ہین۔

مثالین خاص کرکے مدرسہ عالیہ کیمبرج کے کاغذات امتحان سے بکمال احتیاط منتخب کی گئی ہین اور سہل اور مسلسل لکھی گئی ہین تاکہ پہلے ہی سے طالب علم کو خود اشکال[1] حل کرنے کی رغبت پیدا ہو۔

مؤلف چاہتا ہے کہ اُن دوستون کا شکریہ ادا کرے جنکے مضامین سے اس رسالہ کو رونق ہوئی اور اون سے زیادہ مدد کا سائل ہے

دستخط۔ جان ہیمبلن اسمتھ
مقام کیمبرج ۱۸۷۱ع

اصول علم ہندسہ

مقدمہ

جب پتھر چٹان سے تراشا جاتا ہے تو اوسے جسم مُصمَتْ[2] کہتے ہین اور جب سنگ تراش اوسکی شکل بناتا ہے اور وہ کیفیت اوسکی پیدا کرتا ہے جسے **تناسب شکل** کہتے ہین تو جب اوسے شکل مُصمَت کہتے ہین۔

فرض کرو کہ اس پتھر کی شکل ایسی ہے کہ اوسکے چھہ ضلعے مستوی[3]

واضح ہو کہ اس کتاب سے مولف و مترجم دونون کا یہ مقصود ہے کہ طالب علمون کو اشکال اقلیدس لکھنے کا طریقہ موجز و مختصر معلوم ہو جائے اور اسی غرض سے صاحب ڈائرکٹر بہادر نے اسکی طبع و ترویج کا حکم فرمایا ۱۲ منہ

[2] یعنی ٹھوس

[3] یعنی چپٹے

ہین اور ہر ضلع دوسرے کا ٹھیک جواب ہے اس طرح سے کہ جو شخص اس تھمہ کے ایک گوشہ کی طرف منہ کرکے کھڑا ہو تو تینون ضلعے اوسے ایسے دکھائی دین جیسے شکل مرقومہ بالا مین ہے

اس شکل کے ہر ضلع کو سطح کہتے ہین اور جب یہ صاف اور شفاف کیجاتی ہے تو اسے سطح مستوی کہتے ہین —

اور اسکے تیز اور خوب اُبھرے ہوئے سرے جہان پر دو ضلعے ملتے ہین خطوط کہلاتے ہین اور جس جگہ پر انمین سے تین سرے ملتے ہین اوسے نقطہ کہتے ہین

مقدار اوس چیز کو کہتے ہین جو ایسے اجزا سے بنی ہو جو اوس سے کسی حیثیت سے مشابہ ہون مثلاً خط ایک مقدار ہے اس واسطے کہ اوسے یہ خیال کرسکتے ہین کہ ایسے اجزا سے مرکب ہے جو خود خطوط ہین

طول عرض (یعنی چوڑائی) اور دبز (یعنی عمق وارتفاع) یہ خواص جسم ابعاد کہلاتے ہین

حدود مرقومہ ذیل سے اجسام مصمتہ و سطوح و خطوط و نقاط مین فرق معلوم ہوجائے گا —

جسم مصمت مین تین بُعد ہوتے ہین طول و عرض و عمق

سطح مین دو بُعد ہوتے ہین طول و عرض

خط مین ایک بُعد ہوتا ہے طول

نقطہ مین کوئی بُعد نہین ہوتا

مقالہ اول اقلیدس

حدود

۱ - نقطہ وہ ہے جسکے اجزا نہون

یہ مثل اسکی ہے کہ کہین کہ نقطہ وہ چیز ہے جسکی کچھ مقدار نہو کیونکہ اوسکی یہ تعریف کرتے ہین کہ نقطہ وہ چیز ہے جو اجزا صغیرہ مین نہ منقسم ہو سکے

۲ — خط طول ہے بغیر عرض کے

لکن خط مرئی بغیر عرض کے متصور نہین ہو سکتا تاہم خطوط کو عرض سے خالی فرض کرکے اونکی نسبت بحث کر سکتے ہین اور یہی اقلیدس کی غرض ہے

۳ - خطوط محدودہ کے اطراف نقطے ہین

نقطہ سے جگہہ معلوم ہوتی ہے مثلاً وہ جگہہ جہان سے خط شروع ہوتا ہے یا جہان پر منتہی ہوتا ہے یا جہان پر وہ دوسرے خط سے ملتا ہے یا اوسے قطع کرتا ہے

۴ - خط مستقیم وہ ہے جو اپنے نقاط اطراف مین ہموار واقع ہو یعنی اونچا نیچا نہو

۵ — سطح وہ ہے جسمین فقط طول و عرض ہو

۶ — سطح کے اطراف خطوط ہین

۷ — سطح مستوی وہ ہے کہ اگر اوسمین دو نقطے فرض کرین اور اونکے درمیان مین ایک خط مستقیم کھینچین تو وہ خط بالکل سطح مین رہے

مثلاً سبلے - ہنڈ ہوئے پنسل کے اطراف سطوح مستویہ ہین لکن باقی سطح اوس پنسل کی سطح مستوی نہین ہے اس واسطے کہ اوسمین دو نقطے ایسے فرض ہو سکتے ہین کہ جو خط اونہین ملاتا ہے وہ پنسل کی سطح پر نہ واقع ہو

مقدمہ مین ہمنے سطح اور خط اور نقطے کی مثالین باعتبار اوس علم کے دین جو اوس ظاہریہ کے وسیلے سے حاصل ہوتا ہے نہ باعتبار اونکی اصل حقیقت کے

سطوح وخطوط ونقاط ہندسیہ کو اون سطوح وخطوط ونقاط کے تصویرات خیالی سمجھنا چاہیے جنہین ہم تجربہ اور مشاہدہ سے دریافت کرتے ہین تاہم از روی علم ہندسہ کے ان چیزون کو ممکن الوجود تصور کرنا چاہیے یعنی

(۱) سطح بغیر جسم کے

(۲) خط بغیر سطح کے

(۳) نقطہ بغیر خط کے

۸ — جب دو خط مستقیم ایک دوسرے سے ملین مگر ایک سیدھ پر نہون تو ان دونون کے میل کو زاویہ کہتے ہین

جب ایک نقطہ دو مستقیم خطون مین مشترک ہو تو اوس نقطے پر ایک زاویہ یا کئی زاویے پیدا ہوتے ہین اور اوس نقطہ کو راس الزاویہ (یا راس الزوایہ) کہتے ہین اور اون دو خطون کو سُوق[1] الزاویہ (یا سُوق الزوایا) تعبیر کرتے ہین

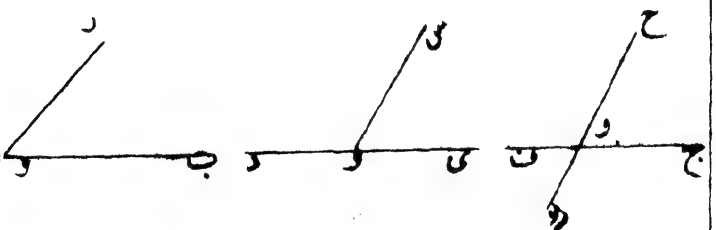

مثلاً اگر خط دا و دب ایک ہی نقطہ و پر منتہی ہون تو اونسے ایک زاویہ بنتا ہے جسے زاویہ د یا زاویہ ادب یا ب دا کہتے ہین انمین سے جو حرف راس الزاویہ پر ہے وہ اون حرفون کے بیچ مین ہوتا ہے جو ساقین پر ہین

اور اگر خط س و خط د ی سے ایک نقطہ پر د ی مین ملے اس طرح سے کہ

[1] جمع ساق بمعنی ٹانگ ۱۲

نقطہ دونون خطون مین مشترک ہو تو خط س و خط دی کے ساتھہ زاویہ
س و د و س و ی پیدا کرتا ہے اور چونکہ ان زاویون کی ایک ساق س و دونون مین
مشترک ہے لہذا انہین زوایاے متصلہ کہتے ہین
اور اگر خط ف ج و ح ك ایک دوسرے کو نقطہ و پر قطع کرین تو ان دونون خطون
سے چار زاویے پیدا ہوتے ہین یعنی ف١ و ح ح٢ و ج ج٣ و ك
ك٤ و ف ان مین سے زاویہ ج و ح و ف و ك راس کے مقابل زاویے
کہلاتے ہین اور علی ہذا القیاس زاویہ ف و ح و ج و ك
جب تین یا زیادہ خطوط مستقیم مین جیسے و ا و ب و س و د ایک ہی نقطہ
و مشترک ہو تو جو زاویہ ان مین سے ایک خط و د

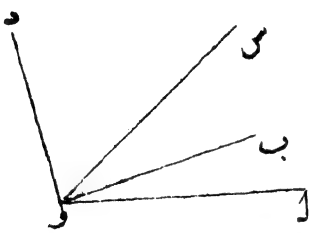

و ا کے ساتھہ پیدا کرتا ہے اوسے یہ سمجھنا چاہیے کہ زوایاے ا و ب و ب
و س و س و د سے بنا ہے یعنی زاویہ ا و د کو کل کہہ سکتے ہین جسکے اجزا
زوایاے ا و ب و ب و س و س و د ہین لہذا ہر زاویہ کو مقدار کہہ سکتے ہین اسواسطے
کہ ہر زاویہ کو یہ سمجھہ سکتے ہین کہ وہ کئی اجزا سے مرکب ہے جو خود زاویے ہین
جاننا چاہیے کہ زاویے کی مقدار کسی اعتبار سے ساقین کے طول پر نہین
موقوف ہے جنسے وہ محدود ہے
آگے چلکے ہم بیان کرین گے کہ اقلیدس نے جو زاویے کی تعریف کی ہے اوس سے

زاویہ کی مقدار بہت محدود ہو جاتی ہے اور اوس تعریف کو بڑھانے سے بڑے نتائج پیدا ہوتے ہین —

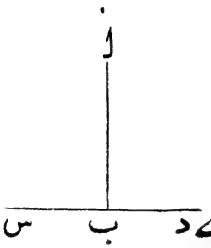

۹ — جب ایک خط مستقیم (جیسے اب) دوسرے خط مستقیم (جیسے س د) سے ملکر زوایاے متصلہ ایک دوسرے کے برابر پیدا کرے تو ان مین سے ہر ایک زاویہ کو زاویہ قائمہ کہتے ہین اور اون دونون خطون مین سے ہر ایک خط کو دوسرے کا عمود کہتے ہین

۱۰ — زاویہ منفرجہ وہ ہے جو زاویہ قائمہ سے بڑا ہو



۱۱ — زاویہ حادہ وہ ہے جو قائمہ سے چھوٹا ہو

۱۲ — شکل اوسے کہتے ہین جو ایک حد یا کئی حدود سے گھری ہو

۱۳ — دائرہ اوس شکل مسطح کو کہتے ہین جسے ایک خط نے جسے محیط کہتے ہین گھیرا ہو اور اوسکے بیچ مین ایک نقطہ ایسا ہو کہ اوس سے محیط تک جتنے خط کھینچین سب آپس مین برابر ہون اس نقطہ کو مرکز کہتے ہین

۱۴ — جو خط مرکز دائرہ سے محیط تک کھینچا جائے اوسے نصف قطر دائرہ کہتے ہین

۱۵ — قطر دائرہ وہ خط مستقیم ہے جو مرکز مین سے گذر کر محیط پر دونو طرف منتہی ہو

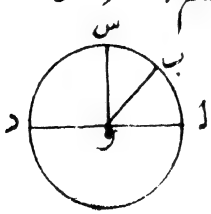

مثلاً اس شکل مین و دائرہ اب س د کا مرکز ہے اور وا وب وس ود یہ سب نصف قطر دائرہ ہین اور ا و د خط مستقیم قطر دائرہ ہے اس سے ثابت ہوا کہ نصف قطر دائرہ قطر کا نصف ہوتا ہے

۱۶ — نصف دائرہ وہ شکل ہے جو قطر سے اور محیط کے اوس حصہ سے جو قطر نے قطع کیا ہے گھری ہو

۱۷ — اشکال مستقیمۃ الاضلاع وہ شکلین ہین جو خطوط مستقیمہ سے گھری ہون

۱۸ — مثلث وہ شکل مسطح ہے جسے تین خط مستقیم گھیرے ہون

۱۹ — ذو اربعۃ الاضلاع وہ شکل مسطح ہے جسے چار خط گھیرے ہون

۲۰ — ذو اضلاع کثیرہ وہ شکل مسطح ہے جسے چار سے زیادہ خط مستقیم گھیرے ہون جب شکل ذو اضلاع کثیرہ کے سب ضلع اور سب زاویے باہم برابر ہون تو اوسے ذو الاضلاع الکثیرۃ المتساویہ والزوایا المتساویہ کہتے ہین

۲۱ — مثلث متساوی الاضلاع وہ ہے جسکے سب اضلاع برابر ہون

۲۲ — مثلث متساوی الساقین وہ ہے جسکے دو ضلع برابر ہون اسکے تیسرے ضلع کو قاعدہ کہتے ہین — اضلاع مثلث مین سے ایک ضلع کو قاعدہ کہتے ہین تاکہ اوسمین اور اور دو ضلعون مین فرق معلوم ہو خاص کر کہ جب اون دونون ضلعون کا ذکر اوپر ہوا ہو تو قاعدہ کا لفظ ضرور استعمال کرتے ہین —

۲۳ — مثلث قائم الزاویہ وہ ہے جسکے زاویون مین سے ایک زاویہ قائمہ ہو

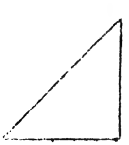

اس مثلث مین زاویہ قائمہ کے ضلع مقابل کو وتر قائمہ کہتے ہین

۲۴ — مثلث منفرج الزاویہ وہ ہے جسمین ایک زاویہ منفرجہ ہو

آگے چلکے ہم ثابت کرین گے کہ مثلث مین فقط ایک زاویہ قائمہ کے برابر یا اوس سے بڑا ہو سکتا ہے

۲۵ — مثلث حاد الزاویہ وہ ہے جسکے سب زاویے حادّے ہون

۲۶ — خطوط مستقیمہ متوازیہ وہ ہین جو ایک ہی سطح مستوی مین ہون اور اونھین دونون طرف چاہین ہمیشہ کھینچتے چلے جائین لکن وہ کبھی باہم نہ ملین

- واضح ہو کہ اقلیدس نے چھ[1] اصول موضوعہ مقرر کیے ہین — اصول موضوعہ وہ قواعد ہین جنہین اشکال ہندسیہ بنانے کے واسطے اور مقادیر ہندسیہ کی خواص بیان کرنیکے لیے صحیح تسلیم کر لیا ہو

اصول موضوعہ

فرض کرو

۱ — کہ ایک خط مستقیم کسی نقطہ سے دوسرے نقطے تک کھنچ سکتا ہے

۲ — خط محدود کسی بُعد تک بالاستقامۃ بڑھ سکتا ہے

۳ — دائرہ کسی مرکز سے اور کسی بعد پر اوس مرکز سے کھنچ سکتا ہے

۴ — زوایائے قائمہ سب آپسمین برابر ہوتے ہین

۵ — دو خط مستقیم ایک جگہہ کو نہین گھیر سکتے

۶ — اگر ایک خط مستقیم اور دو خطوط مستقیمہ سے اس طرح ملے کہ اوس خط

[1] یاد رہے کہ اقلیدس نے پہلے تین اصول کو اصول موضوعہ قرار دیا ہے اور پچھلے تین اصول موضوعہ کو علوم متعارفہ مین داخل کیا ہو لکن جبکہ ہمنے اصول موضوعہ کی یہ تعریف کی کہ وہ قواعد ہین جنہین اشکال ہندسیہ بنانیکے واسطے اور مقادیر ہندسیہ کی خواص بیان کرنیکے لیے صحیح تسلیم کر لیا ہے تو اس تعریف سے ظاہر ہے کہ یہ پچھلے تین اصول بھی اصول موضوعہ مین داخل کرنے چاہیین کیونکہ یہ ظاہر ہے کہ یہ تینون اصول امور نظریہ ہین بدیہیہ نہین ہین ۱۲

کی ایک طرف کے دو زوایا سے داخلہ کا مجموع دو قائمون سے کم ہو تو اگر ان دونون خطون کو بڑھاتے چلے جائین تو آخر کو یہ اوسی طرف باہم ملجائین گے جسطرف کہ وہ زاویے ہین جنکا مجموع دو قائمون سے کم ہے

جس لفظ کا ترجمہ اصول موضوعہ ہے اوسکی معنی اصل یونانی مین درخواست ہی پہلے تین اصول موضوعہ مین اقلیدس کچہ الات ہندسیہ کا استعمال بلحاظ چند قیود کے خط اور دائرے کھینچنے کے واسطے بیان کرتا ہے

مثلاً پہلی اور دوسری اصل موضوع سے اوسکی یہ غرض ہے کہ ایک سیدھی لکڑی سے جسے رُولر کہتے ہین خطوط مستقیمہ کھینچے جائین لکن قید یہ ہے کہ اوس لکڑی مین حصے نہ بنے ہون جنسے خطوط کی مقدار معلوم ہو جائے

تیسری اصل موضوع سے اقلیدس کی یہ غرض ہے کہ دائرہ پرکار سے کھینچا جاے اور اوسکا مرکز ایک خط مفروض کی ایکطرف پر ہو اور اوسکا محیط اوس خط کے دوسری طرف سے گذر جائے لکن قید یہ ہے کہ پرکار ایسا نہو جس سے ابعاد خطوط مشخص ہو جائین

اصل چہارم و پنجم مین سہل باتین علم ہندسہ کی مذکور ہین اور اقلیدس چاہتا ہے کہ انہین بلا دلیل تسلیم کرلے

اصل ششم - ایک شکل نظری ہے جو ایک سہل تر اصل سے مستنبط ہو سکتی ہے جیسا کہ آگے چلکے ثابت کیا جائیگا - طالب علم کو لازم ہی کہ جبتک وہ مقالہ اول کی سترہوین شکل تک نہ پہونچے جبتک اس اصل کے تعرض نکرے

بعد اصول موضوعہ کے اقلیدس نو علوم متعارفہ بیان کرتا ہے کہ وہ امور بدیہیہ ہین اور اونہین اقلیدس کلیات عامہ کہتا ہے کہ وہ (باستثناء آٹھوین کلیہ کے) سب قسم کے مقادیر و اجسام مین جاری ہو سکتے ہین اور مثل اصول موضوعہ کے مقادیر ہندسیہ سے کچہ مخصوص نہین ہین

علوم متعارفہ

۱ — کئی چیزین جو ایک چیز کے برابر ہون وہ آپسمین بھی برابر ہین

۲ — اگر مساوی چیزین اشیاء متساویہ پر زیادہ کیجائین تو اونکے مجموعے بھی باہم مساوی ہون گے

۳ — اگر مساوی چیزین اشیاے متساویہ سے گھٹائی جائین تو مقادیر باقیہ باہم برابر ہون گی

۴ — اگر متساوی چیزون پر غیر متساوی چیزین بڑھائی جائین تو اونکے مجموعے غیر متساوی ہون گے

۵ — اگر مساوی چیزین غیر متساوی چیزون مین سے گھٹائی جائین تو مقادیر باقیہ غیر متساوی ہون گی

۶ — جو چیزین ایک ہی چیز کے مضاعف (دوگنی) ہون وہ باہم برابر ہین

۷ — جو چیزین ایک ہی چیز کی نصف ہون وہ بھی آپس مین برابر ہین

۸ — جو مقدارین ایک دوسرے پر منطبق ہو جائین یعنی ایک ہی جگہ مین سما جائین وہ باہم برابر ہین

۹ — کل اپنے اجزا سے بڑا ہوتا ہے

ان کلیات عامہ کو اقلیدس اپنے مطلوب کی دلیل گردانتا ہے اور اوسکے کلام کا مآل یہ ہے کہ اصول موضوعہ کو تسلیم کرنے کا آپ کو اختیار ہے لکن علوم متعارفہ آپ کو ضرور تسلیم کرنے پڑین گے

اقلیدس نے علم ہندسہ کو بہت سے اشکال سے ثابت کیا ہے ان مین سے بعض اشکال نظریہ کہلاتے ہین بعض اشکال عملیہ لکن خود اقلیدس نے یہ تقسیم اشکال کی نہین کی ہے

شکل نظری اوس قیاس کو کہتے ہین جو ایسے مقدمات سے مستنبط یا ثابت ہو سکے جو پیشتر مسلم یا ثابت ہو چکے ہون

شکل عملی اوس شکل کو کہتے ہین جسمین اون اصول کے بموجب جو سابق مین مسلم یا ثابت ہو چکے ہون کوئی چیز بنانی پڑے

نتیجہ صحیح اوس شکل نظری یا شکل عملی کو کہتے ہین جو اوس شکل سے بہ آسانی مستنبط ہو سکے جس سے وہ متعلق ہے

ہمنے اقلیدس کے پہلے مقالہ کو تین فصلون پر تقسیم کیا ہے اور اس تقسیم کی وجہ آیندہ منکشف ہو جائیگی

بیان اون علامات[1] و مخففات کا جو مقالہ اول مین مستعمل ہوئے ہین

علامت	کسکی علامت ہے
∵	اسواسطے کہ
∴	پس یا لہذا
=	برابر ہین یا برابر ہے اسکے
∟	زاویہ
△	مثلث
⊙	دائرہ
○	محیط

[1] واضح ہو کہ یہ علامات تو بجنسہ مطابق اصل کتاب کے اس ترجمہ مین استعمال کیے گئے ہین اسواسطے کہ انکے اکثر اشکال کا عمل بہت سہل اور مختصر ہو گیا ہے اور انمین کسی کو دھوکا نہین ہو سکتا لیکن مخففات کا مترجم نے فقط ترجمہ کر دیا ہے اونھین استعمال نہین کیا کیونکہ اون مین دھوکا ہوتا ہے اور کلکتہ یونی ورسٹی نے اونھین جائز نہین رکھا فقط شکل متوازی الاضلاع قائم الزاویہ یا سطح کا مخفف لع استعمال کیا ہے اسواسطے طالب علم خوب یاد رکھین ۱۲

ا	خطوط متوازیہ
▱	شکل متوازی الاضلاع
⊥	عمود
لث لع	مثلث متساوی الاضلاع
جہ	زاویہ خارجہ
لہ	زاویہ داخلہ
طہ	نقطہ
یم لع	شکل مستقیم الاضلاع
مہ	زاویہ قائمہ
بع	مربع
ح	حدود
صہ	اصول موضوعہ
فہ	علوم متعارفہ
هب[1]	وہو المطلوب
هف[2]	ہذا خلف
لم	وہ امر جو پیشتر مسلم کر لیا ہو یا صحیح مان لیا ہو

[1] یہ ہر شکل کے آخر مین لکھا جاتا ہے اسکے معنی یہ ہین کہ مطلب ثابت ہوا ۱۲

[2] یہ بعض اشکال کے آخر مین لکھا جاتا ہے اسکے معنی یہ ہین کہ یہ محال یا خلاف قیاس ہے ۱۲

نقطہ

فصل اوّل مثلث کے خواص کے بیان مین

شکل اوّل عملی

ایک خط مستقیم معلوم پر مثلث متساوی الاضلاع بناؤ

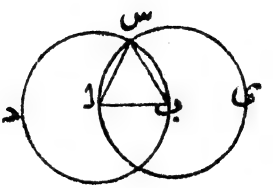

فرض کرو کہ ا ب خط مستقیم معلوم ہے

مطلوب یہ ہے کہ ایک △ متساوی الاضلاع ا ب پر بناؤ

ا کو مرکز قرار دیکر ا ب کے بعد پر ⊙ ب س د کھینچو (عہ ۳)

پھر ب کو مرکز قرار دیکر ب ا کے بعد پر ⊙ ا س ی کھینچو (عہ ۳)

نقطہ س سے جہان پر دایرے تقاطع کرتے ہین خط س ا و س ب کھینچو (عہ ۱)

تو اب ا ب س △ متساوی الاضلاع ہو جائیگا

کیونکہ ∵ ا ⊙ ب س د کا مرکز ہے

∴ ا س = ا ب (ح ۱۳)

اور ∵ ب ⊙ ا س ی کا مرکز ہے

∴ ب س = ا ب (ح ۱۳)

لیکن ∵ ا س ب س ہر ایک = ا ب

∴ ا س = ب س (قضیہ ۱)

پس ثابت ہوا کہ ا س و ا ب و ب س سب باہم برابر ہیں اور △ متساوی الاضلاع ا ب س ا ب پر بنایا گیا۔ ہب

شکل دوم عملی

نقطہ معلومہ سے ایک خط مستقیم ایسا کھینچو جو خط مستقیم معلوم کے برابر ہو

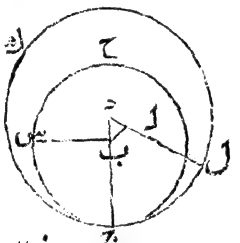

فرض کرو کہ ا نقطہ معلومہ ہے اور ب س خط مستقیم معلوم ہے

مطلوب یہ ہے کہ ا سے ایک خط مستقیم ب س کے برابر کھینچو

ا سے ب تک خط مستقیم ا ب کھینچو

ا ب پر △ متساوی الاضلاع ا ب د بناؤ (ش ۱)

مرکز ب سے ب س کے بعد پر ⊙ س ج ح کھینچو (عہ ۳)

د ب کو خارج کرو کہ ⊙ س ج ح سے نقطہ ج پر ملے

مرکز د سے د ج کے بعد پر ⊙ ج ک ل کھینچو (عہ ۳)

د ا کو خارج کرو کہ ⊙ ج ک ل سے نقطہ ل پر ملے

تو ا ل = ب س ہوگا

کیونکہ ∵ ب ⊙ س ج ح کا مرکز ہے

∴ ب س = ب ج (ح ۱۳)

اور ∵ د ⊙ ج ک ل کا مرکز ہے

∴ د ل = د ج (ح ۱۳)

اور ان دونون کے اجزا یعنی د ا و د ب باہم برابر ہین (ح ۳۱)

∴ باقی ا ل = باقی ب ج (فہ ۳)

لکن ب س = ب ج

∴ ا ل = ب س (فہ ۱)

پس نقطہ ا سے ایک خط مستقیم ا ل = ب س کے کھینچا گیا ہب

شکل سوم عملی

دو[1] خطوط مستقیمہ معلومہ مین جو بڑا خط ہے اوسمین سے ایک جزو چھوٹے خط کے برابر قطع کرو

فرض کرو کہ ا ب و س د خطوط مستقیمہ معلومہ مین سے ا ب بڑا خط ہے

مطلوب یہ ہے کہ ا ب مین سے ایک جزو س د کے برابر قطع کرو

نقطہ ا سے خط ا ی = س د کھینچو (ش ۲ م ۱)

مرکز ا سے ا ی کے بعد پر ⊙ ی ف ح کھینچو

تو ا ف = س د کے ہوگا

کیونکہ ∵ ا ⊙ ی ف ح کا مرکز ہے

∴ ا ف = ا ی

لکن ا ی = س د

∴ ا ف = س د (فہ ۱)

---

[1] اسپر کوئی صاحب معترض نہون کہ جمع کا اطلاق دو پر کیونکر ہو سکتا ہے مترجم نے جمع منطقی مراد لی ہے اور تمام کتاب مین جمع کا اطلاق مافوق الواحد پر کیا ہے ۱۲ مترجم

پس ز ب مین سے ایک جزو ز ف = س د کے قطع کیا گیا - ہب

مثالین

۱ - ثابت کرو کہ اگر شکل اول مین نقطہ ا و ب سے خطوط مستقیمہ دوسرے نقطہ تقاطع دائرتین تک کھینچے جائین تو ایک اور مثلث متساوی الاضلاع ا ب پر بنجائیگا

۲ - بموجب عمل ش ۱ کے ایک خط مستقیم معلوم پر مثلث متساوی الساقین بناؤ جسکے اضلاع متساویہ مین سے ہر ایک ضلع ایک خط مستقیم معلوم کے برابر ہو

۳ - ش ۲ مین اوس صورت کی شکل کھینچو جسمین نقطۂ معلومہ نقطہ ب سے منطبق ہو جاے -

۴ - ش ۳ کے عمل کے بموجب دو خطوط معلومہ مین سے جو چھوٹا خط ہو اوسے اتنا خارج کرو کہ وہ بڑے خط کے برابر ہو جاے

شکل چہارم نظری

اگر دو مثلثون مین سو ایک مثلث کے دو ضلعے برابر ہون دوسری مثلث کے دو ضلعون کے ہر ایک اپنے نظیر کے اور زاویے درمیانی ان ضلعون کے بھی آپسمین برابر ہون تو ان مثلثون کے قاعدے بھی باہم برابر ہون گے اور یہ دو مثلث بھی برابر ہون گے اور اونکے اور زاویے بھی جنکے مقابل برابر ضلعے ہین برابر ہونگے ہر ایک اپنے نظیر کے -

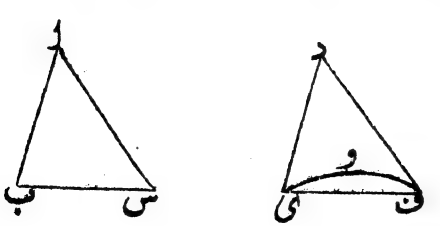

فرض کرو کہ △ ا ب س و د ی ف مین ا ب = د ی اور ا س = د ف اور

∠ ب ا س = ∠ ی د ف

تو ب س = ی ف کے ہوگا اور △ ا ب س = △ د ی ف اور باقی زاویے جو برابر ضلعوں کے مقابل ہیں باہم برابر ہوں گے یعنی ∠ ا ب س = ∠ د ی ف اور ∠ ا س ب = ∠ د ف ی

اس واسطے کہ اگر △ ا ب س △ د ی ف پر اسطرح چسپاں کیا جائے کہ نقطہ ا نقطہ د پر منطبق ہو جائے اور ا ب د ی پر واقع ہو

تو ∵ ا ب = د ی ∴ ب ی پر منطبق ہو جائے گا

اور ∵ ا ب د ی پر منطبق ہے اور ∠ ب ا س = ∠ ی د ف بموجب فرض کے

∴ ا س د ف پر واقع ہوگا

∵ ا س = د ف کے ∴ س ف پر منطبق ہوگا

∴ ب ی پر منطبق ہوگا اور س ف پر

∴ ب س ی ف پر منطبق ہو جائیگا

اسواسطے کہ اگر ب س ی ف پر منطبق نہو تو ب س علیحدہ واقع ہوگا جیسے ی و ف تو دو خط مستقیم ب س ی ف ایک جگہ کو گھیر لینگے یہ غیر ممکن ہے (ع ۵)

∴ ب س ی ف پر منطبق ہو جائیگا ∴ اوسکی برابر ہوگا (فہ ۸)

اور △ ا ب س ..... △ د ی ف کے

اور ∠ ا ب س ..... ∠ د ی ف کے

اور ∠ ا س ب ..... ∠ د ف ی کے

ہب +

فائدہ اول دربیان قاعدہ تطبیق مقادیر ہندسیہ

بموجب فائدہ ۸ کے دو مقادیر ہندسیہ اوسوقت باہم برابر ہوتے ہین جبکہ وہ اس طرح سے رکھے جائین کہ ایک کے حدود دوسرے کے حدود پر منطبق ہوجائین

مثلاً دو خط مستقیم اوسوقت آپسمین برابر ہوتے ہین جبکہ وہ اس طرح سے رکھے جائین کہ اونکے نقاط اطراف باہم منطبق ہوجائین اور دو زاویے جب باہم برابر ہوتے ہین جبکہ وہ اس طرح سے رکھے جائین کہ اونکے راس محلاً منطبق ہوجائین اور اونکے ساقین جہتاً منطبق ہوجائین اور دو مثلث اوسوقت مساوی ہوتے ہین جبکہ وہ اس طرح سے رکھے جائین کہ اونکے اضلاع جہت اور مقدار مین منطبق ہوجائین

جاننا چاہیے کہ یہ قاعدہ تطبیق مقادیر ہندسیہ کی مساواۃ دریافت کرنیکے واسطے جب جاری ہوگا جبکہ یہ فرض کرلین کہ زاویہ یا مثلث کو ایک جگہ سے نقل کرکے دوسرے مقام پر اس طرح سے رکھ سکتے ہین کہ اوسکے حدود کے اوضاع نہ بدلنے پائین — اور یہ بھی فرض کرنا چاہیے کہ اگر ایک جزء خط مستقیم کا دوسرے خط مستقیم کے کسی جزء پر منطبق ہو تو اور اجزاء ان خطوط کے جہتاً منطبق ہوجائین گے یا یون کہیے کہ جب خطوط مستقیمہ دو نقطون پر منطبق ہون تو بعد الاخراج بھی وہ منطبق ہون گے

اس قاعدہ تطبیق سے یہ فائدہ بھی ہے کہ اسکے بموجب ایسے مقادیر کا مقابلہ و موازنہ کرسکتے ہین جو ایک ہی قسم کے ہون لکن غیر متساوی ہون **مثلاً** فرض کرو کہ ا ب س و د ی ف دو زاویے معلوم ہین

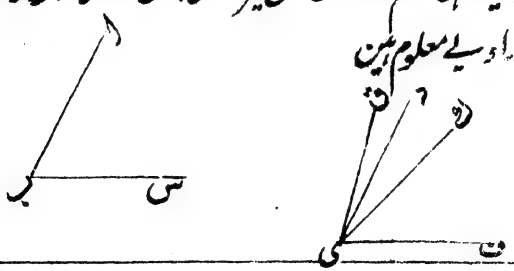

لہ اسینے علوم متعارفہ مین سے آٹھوان علم متعارف ۱۲

اور فرض کرو کہ ساق ب س ساق ی ف پر رکھی گئی اور اس ب راس ی پر تو اب اگر ساق ب ا ساق ی د سے جہتہً منطبق ہو جاے تو زاویہ ا ب س زاویہ د ی ف کے برابر ہوگا

لکن اگر ساق ب ا ی د اور ی ف کے درمیان ی ك کی جہت مین واقع ہو تو ا ب س د ی ف سے چھوٹا ہوگا

اور اگر ب ا ی ق کی جہت مین واقع ہو اور ی د اور ی ق اور ی ف کے درمیان مین ہو جاے تو ا ب س د ی ف سے بڑا ہوگا

فائدہ دوم در بیان شروط مساواۃ دو مثلث

ہر مثلث کے چھہ جزء ہوتے ہین تین ضلعے اور تین زاویے

اقلیدس نے چار صورتون مین ایک مثلث کی مساواۃ کلی دوسری مثلث سی ثابت کی ہے بشرطیکہ اجزاء مرقومۂ ذیل دونون مثلثون کے برابر ہون

۱ — دو ضلعے اور اونکے درمیان کا زاویہ (ش ۴ ۱ ۴)

۲ — دو زاویے اور اونکے بیچکا ضلع (ش ۲۶ ۱ ۴)

۳ — ہر ایک کے تین ضلعے (ش ۸ ۱ ۴)

۴ — دو زاویے اور ایک زاویہ کے مقابل کا ضلع (ش ۲۶ ۱ ۴)

جن شکلون مین یہ صورتین ثابت کی گئی ہین وہ پہلے مقالہ مین بہت ضروری امہات ہین

پہلی صورت تو ہمنے ش ۴ مین ثابت کی

قاعدہ تطبیق سے دوسری اور تیسری صورت کا عمل اوس سے سہل ہو جاتا ہے جو **اقلیدس** نے لکھا ہے اور یہ بھی فائدہ ہے کہ ان دونون صورتون کو پہلی صورت سے مناسبت زیادہ ہو جاتی ہے **لہذا ہم اقلیدس** کی ۵ و ۶ و ۷ و ۸ شکلون کی جگہہ پر تین شکلین بیان کرتے ہین اور اونکا نام الف ب س رکھتے ہین

جن اشکال کے عوض مین یہ شکلین لکھی ہین وہ اس رسالے کے آخر مین مرقوم ہین۔
ہماری وضع کی ہوئی شکل الف اقلیدس کی (ش ۵ م ۱) کے مرادف ہے
..... ب ..... (ش ۲۶ صورت اول م ۱) کے
..... س ..... (ش ۸ م ۱) کے

شکل الف نظری

اگر مثلث کے دو ضلعے برابر ہون تو اونکے مقابل کے زاویے بھی برابر ہون گے

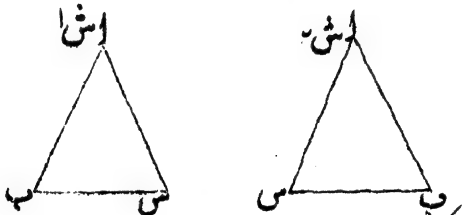

فرض کرو کہ اب س مثلث متساوی الساقین مین اس = اب (ش ۱)
تو ∠ اب س = ∠ اس ب ہوگا
خیال کرو کہ △ اب س کو اوٹھایا اور اولٹا کرکے اوسے پھر رکھدیا جیسے ش ۲ ہے
اور زاویے پر کے نقطون کا نام اَ بَ سَ رکھا
تو △ اب س و اَ سَ بَ مین
∵ اب = اَ سَ اور اس = اَ بَ اور ∠ ب اس = ∠ سَ اَ بَ
∴ ∠ اب س = ∠ اَ سَ بَ (ش ۴ م ۱)
لیکن ∠ اَ سَ بَ = ∠ اس ب
∴ ∠ اب س = ∠ اس ب - ہب (فہ ۱)

نتیجہ صریح

اس شکل سے ثابت ہوسکتا ہے کہ ہر مثلث متساوی الاضلاع متساوی الزوایا بھی ہے

تنبیہ

جب مثلث کے ایک ضلع اور دو اضلاع سے تمیز کرنے کے واسطے قاعدہ کہتے ہین تو اس ضلع کے مقابل کے زاویہ پر کے نقطہ کو راس المثلث کہتے ہین

شکل ب نظری

اگر دو مثلثون مین سے ایک مثلث کے دو زاویے دوسرے کے دو زاویون کے برابر ہون ہر ایک اپنے نظیر کے اور جو اضلاع ان زوایاے متساویہ سے متصل ہون وہ بھی باہم برابر ہون تو دونون مثلث سب باتون مین برابر ہون گے

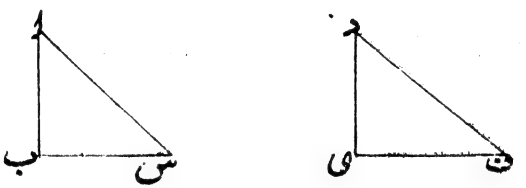

فرض کرو کہ △ ا ب س و د ی ف مین

∠ ا ب س = ∠ د ی ف اور ∠ ا س ب = ∠ د ف ی اور ب س = ی ف

تو ا ب = د ی اور ا س = د ف اور ∠ ب ا س = ∠ ی د ف ہوگا

اسواسطے کہ اگر △ د ی ف △ ا ب س پر چسپان کیا جاے اس طرح سے کہ ی ف ب پر منطبق ہو جاے اور ی ف ب س پر واقع ہو

تو ∵ ی ف = ب س ∴ ف س پر منطبق ہو جائیگا

اور ∵ ∠ د ی ف = ا ب س ∴ ی د ب ا پر واقع ہوگا

∴ د ب ا پر بغیر اخراج یا بعد الاخراج واقع ہوگا

پھر ∵ ∠ د ف ی = ∠ ا س ب ∴ ف د س ا پر واقع ہوگا

∴ د س ا پر بغیر اخراج یا بعد الاخراج واقع ہوگا

∴ د ا پر کہ یہی نقطہ ب ا اور س ا مین مشترک ہے منطبق ہوگا

∴ د ی ا ب پر منطبق ہوگا ∴ اوسکے برابر ہوگا

اور د ف ..... اس کے

اور ∠ ی د ف ..... ∠ ب ا س کے

∴ دونون مثلث ہر بات مین برابر ہین — ہب

نتیجہ صریح

شکل الف کے عمل کے بموجب یہ شکل نظری ثابت ہو سکتی ہے
کہ اگر ایک مثلث کے دو زاویے برابر ہون تو اونکے مقابل کے اضلاع بھی برابر
ہون گے (اقلیدس ش ۶ م ۱)

شکل س نظری

اگر دو مثلثون مین سے ایک مثلث کے تین ضلعے دوسرے کے تین ضلعون کے برابر
ہون ہر ایک اپنے نظیر کے تو دونون مثلث سب باتون مین برابر ہونگے
گے

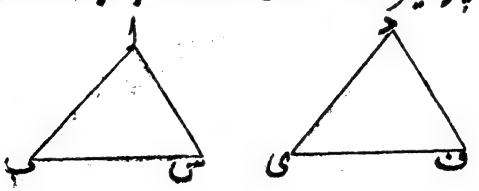

فرض کرو کہ △ ا ب س و د ی ف کے تینون ضلعے اپنے اپنے نظیر کے برابر ہین
یعنے ا ب = د ی اور ا س = د ف اور ب س = ی ف

تو یہ مثلث سب باتون مین برابر ہون گے

خیال کرو کہ △ د ی ف کو اولٹکر △ ا ب س پر اس طرح چسپان کیا کہ ی ف

ب س پر منطبق ہوگیا اور د راس الزاویہ ضلع ب س پر واقع ہوا جو اوس ضلع کے مقابل ہے جسپر ا واقع ہوا ہے اور ا د کو ملا دیا

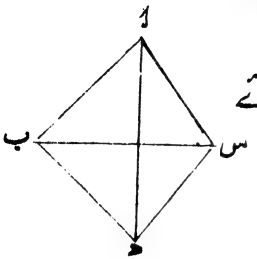

تو اس مین تین صورتین نکلین گی

صورت اوّل یہ ہے کہ ا د ب س کو قطع کر جائے

تو △ ا ب د مین ∵ ب د = ب ا ∴ ∠ ب ا د = ∠ ب د ا (ش الف)

اور △ ا س د مین ∵ س د = س ا ∴ ∠ س ا د = ا س د

∴ مجموع ∠ ب ا د و س ا د = مجموع ∠ ب د ا و س د ا

یعنی ∠ ب ا س = ∠ ب د س

لہذا اصل مثلثون کو ملاحظہ کیجیے تو معلوم ہو جائیگا کہ

∠ ب ا س = ∠ ی د ف

∴ بموجب ش ۴ کے یہ مثلث سب باتون مین باہم برابر ہین

صورت دوم یہ ہے کہ جو خط دونون مثلثون کو راس کو ملاتا ہو وہ ب س کو نہ قطع کرے

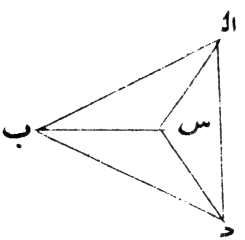

پس △ ا ب د مین ∵ ب د = ب ا ∴ ∠ ب ا د = ∠ ب د ا

اور △ ا س د مین ∵ س د = س ا ∴ ∠ س ا د = ∠ س د ا

لکن چونکہ کل زاویے ب ا د و ب د ا باہم برابر ہین

اور زاونکے اجزا یعنے زاویے س ا د و س د ا بھی باہم برابر ہین

∴ باقی زاویے ب ا س و ب د س بھی باہم برابر ہین (فہ ۳)

پس جسطرح سے کہ پہلی صورت مین ہوا اوسی طرح اس صورت مین بھی اصل مثلثون کی مساوات ثابت ہوسکتی ہے

صورت سوم یہ ہے کہ ا س و س د ایک ہی سیدھ پر ہون

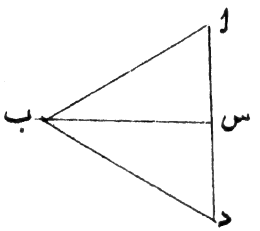

تو △ ا ب د مین ∵ ب د = ب ا ∴ ا ب ا د = ∠ ب ا د

یعنے ∠ ب ا س = ∠ ب د س

پس جس طرح سے کہ پہلی صورت مین کیا اوسی طرح اس صورت مین بھی اصل مثلثون کی مساواۃ ثابت ہوسکتی ہے - ہب

شکل نہم

زاویہ معلومہ کی تنصیف کرو

فرض

فرض کرو کہ اس زاویہ معلومہ ہے

مطلوب یہ ہے کہ ∠ ب ا س کی تنصیف کرو

ب ا مین ایک نقطہ د فرض کرو

اس مین سے ا ی = ا د قطع کرو اور د ی کو وصل کرو

د ی کی اوس طرف پر جو ا کے مقابل ہے △ متساوی الاضلاع د ف ی بناؤ

ا ف کو وصل کرو تو ا ف ∠ ب ا س کی تنصیف کریگا

اس واسطے کہ △ ا ف د و ا ف ی مین

∵ ا د = ا ی اور ا ف مشترک ہے اور ف د = ف ی

∴ ∠ د ا ف = ∠ ی ا ف (شکل س)

یعنے ∠ ب ا س ا ف سے تنصیف ہوگیا — ہب

مثالین

۱ — اس شکل کو ش ہ اور ش الف سے ثابت کرو شکل س کو دخل ندو

۲ — اگر وہ مثلث متساوی الاضلاع جو اس شکل مین بنایا گیا ہو اس طرح سے بنایا جاے کہ اوسکا راس زاویہ معلومہ کی طرف ہو تو یہ ثابت کرو کہ ایک صورت مین عمل باطل ہوگا اور دو صورتون مین عمل صحیح ہوگا

تنبیہ

جو خط کسی زاویہ کو دو مساوی جزؤن مین تقسیم کردے اوسے مُنصِّفِ زاویہ کہتے ہین

شکل دہم عملی

خط مستقیم معلوم محدود کی تنصیف کرو

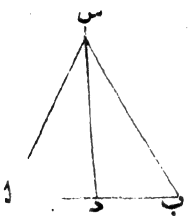

فرض کرو کہ اب خط مستقیم معلوم ہے

مطلوب یہ ہے کہ اب کی تنصیف کرو

اب پر △ متساوی الاضلاع اس ب بناؤ

∠ اس ب کو خط س د سے تنصیف کرو کہ وہ اب سے د پر ملجائے

تو اب د پر تنصیف ہو جائے گا

اسواطیکہ △ اس د و ب س د مین

∵ اس = ب س اور س د مشترک ہے اور ∠ اس د = ∠ ب س د

∴ ا د = ب د (ش ۴ ا)

∴ اب د پر تنصیف ہو گیا — ہب

مثالین

۱ — جو خط مستقیم کہ مثلث متساوی الساقین کے راس کے زاویہ کی تنصیف کرے وہ اوسکے قاعدہ کی بھی تنصیف کریگا

۲ — جو خط مستقیم مثلث متساوی الساقین کی راس کی زاویہ سے نکلکر اوسکی قاعدہ کی

تنصیف کرے وہ راس الزاویہ کی بھی تنصیف کرے گا

۳ — ایک خط مستقیم معلوم محدود کو ایک نقطہ تک اسطرح خارج کرو کہ جزء مخرج ایک ثلث ہو اوس خط کا جو کل خط معلوم اور جزء مخرج سے بنا ہے

شکل یازدھم عملی

خط مستقیم معلوم مین نقطہ معلومہ سے ایک خط مستقیم کھینچو جو اوس خط معلوم پر زاوئے قائمے پیدا کرے

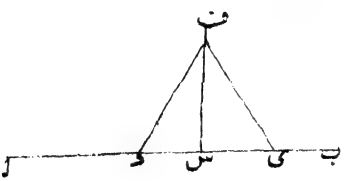

فرض کرو کہ ا ب خط مستقیم معلوم ہے اور اوسمین س نقطہ معلومہ ہے

مطلوب یہ ہے کہ نقطہ س سے ایک خط مستقیم کھینچو جو اب پر زاوی قائمی پیدا کرے

اس مین ایک نقطہ د فرض کرو اور س ب مین سے س ی س د کے برابر قطع کرو

د ی پر △ متساوی الاضلاع د ف ی بناؤ

ف س کو وصل کرو تو ف س ا ب پر زاوی قائمی پیدا کریگا

اسواسطیکہ △ د س ف و ی س ف مین

∵ د س = س ی اور س ف مشترک ہے اور ف د = ف ی

∴ ∠ د س ف = ∠ ی س ف (شکل س)

اور یہ متصل زاوئے ہین

∴ ہر ایک ا مین سے قائمہ ہے

پس ف س ا ب پر زاوئے قائمے پیدا کرتا ہے — ہب

مثالین

۱ — یہ ثابت کرو کہ شکل ۹ مین اف و ی د باہم تقاطع کرکے زاویے قائمے پیدا کرتے ہین اور ی د اف سے تنصیف ہوتا ہے

۲ — جو دو خط کہ اب و اس اضلاع مثلث متساوی الاضلاع کی تنصیف کرکے دو زاویے قائمے بناتے ہین اگر وہ دونون خط نقطہ و پر ملین تو یہ ثابت کرو کہ وا و و ب و و س باہم برابر ہین

شکل دوازدہم عملی

غیر محدود خط مستقیم معلوم پر نقطہ معلومہ سے کہ اوس سے باہر ہو عمود کھینچو

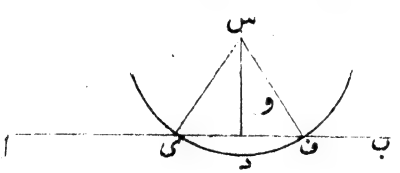

فرض کرو کہ اب غیر محدود خط مستقیم معلوم ہے اور س نقطہ معلومہ اوس سے باہر ہے

مطلوب یہ ہے کہ س سے عمود اب پر کھینچو

اب کے دوسری طرف ایک نقطہ د فرض کرو

مرکز س سے س د کے بعد پر ایک ⊙ کھینچو جو اب کو نقطہ ی و ف پر قطع کرے

ی ف کو و پر تنصیف کرو اور س ی و س و و س ف کو وصل کردو

تو س و اب پر عمود ہوگا

اس واسطے کہ △ س و ی و س و ف مین

ی و = ف و اور س و مشترک ہے اور س ی = س ف

∴ ∠ س و ی = ∠ س و ف (شکل س)

∴ س و ا ب پر عمود ہے - ہب (۹۷)

مثالین

۱ - اگر یہ خط مستقیم معلوم غیر محدود نہ ہوتا تو کس دلیل سے عمل باطل ہو جاتا

۲ - اگر کسی مثلث کے راس سے عمود نکلکر قاعدہ کی تنصیف کرے تو وہ مثلث متساوی الساقین ہوگا

۳ - جو خط کہ مثلث متساوی الاضلاع کے نقاط الزوایا سے اضلاع مقابل کے وسط کے نقطون تک کھینچے جائین وہ خط باہم برابر ہون گے

متفرق مثالین ش۱ سے ش۱۲ تک

۱ - ش۲ کی وہ صورت کھینچو جسمین کہ نقطہ ا

(۱) خط ب س کے نیچے اور اوسکے دہنی طرف واقع ہو

(۲) خط ب س کے نیچے اور اوسکے بائین طرف واقع ہو

۲ - زاویۂ معلومہ کو چار برابر حصون مین تقسیم کرو

۳ - مثلث متساوی الساقین کے قاعدہ پر کے زاویے ب و س خطوط مستقیمہ ب د و س د سے تنصیف ہوے ہین اور یہ خطوط د پر ملے ہین تو اب ثابت کرو کہ ب د س بھی مثلث متساوی الساقین ہے

۴ - مثلث متساوی الاضلاع کے ضلعون ب س س ا ا ب مین نقطے د ی ف اسطرح فرض کیے کہ ب د = س ی = ا ف تو اب ثابت کرو کہ د ی ف بھی مثلث متساوی الاضلاع ہے

۵ - خط مستقیم معلوم مین ایسا نقطہ بتلاؤ جو دو معلوم نقطون سے متساوی البعد ہو اول جبکہ وہ نقطے خط کے ایک ہی طرف ہون دوم جبکہ وہ اوسکے اطراف مقابل مین ہون

۶ - ا ب س ایک مثلث ہے اسکے ایک ضلع ب ا مین بغیر اخراج یا بعد الاخراج ایک نقطہ د ایسا دریافت کرو کہ ب د = س د کے ہو

۷ - ا ب س مثلث متساوی الساقین کے برابر ضلعون ا ب ا س کو ف ج

نقطون تک خارج کیا اس طرح سے کہ اف = اج اور ب ج و س ف کو وصل کر دیا اور ح اونکا نقطہ تقاطع ہے تو اب ثابت کرو کہ ب ح = س ح اور یہ بھی ثابت کرو کہ زاویہ اخط اح سے تنصیف ہو گیا ہے

۸ — ب اس و ب د س مثلث متساوی الساقین ایک ہی قاعدہ ب س کی مقابل طرفون پر واقع ہین تو ثابت کرو کہ جو خط مستقیم ا سے د تک کھینچا جائے و د ب س پر زاویے قائمے پیدا کرے گا

۹ — ش ۳ مین خط ا ی کے جہتون مین کھنچ سکتا ہے

۱۰ — اگر مثلث کے دو ضلعے خارج کیے جائین اور اوسکے قاعدہ کے دوسرے طرف کے زاویے برابر ہون تو ثابت کرو کہ وہ مثلث متساوی الساقین ہے

۱۱ — ا ب س و ا ب د دو مثلث ہین اور ایک ہی قاعدہ ا ب کی ایک طرف پر واقع ہین اور ہر مثلث کا راس دوسرے کے باہر ہے اس صورت مین اگر ا س = ا د تو ثابت کرو کہ ب س = ب د نہین ہو سکتا

۱۲ — ا ب خط مستقیم مین ایک نقطہ س فرض کرکے اوس سے س د ا ب پر عمود نکالا اور مرکز ا سے ا ب کے بعد پر دائرہ کھینچا جو س د سے نقطہ د پر ملتا ہے اور ا د سے ا ی = ا س قطع کیا تو ثابت کرو کہ ا ی ب زاویہ قایمہ ہے

شکل سیزدہم نظری

ایک خط مستقیم دوسرے خط مستقیم پر ایک جہت مین جو زاویے پیدا کرتا ہے یا وہ دو قایمے ہوتے ہین یا برابر دو قائمون کے



فرض کرو کہ اب س د کی ایک جہت مین ∠ اب س و اب د پیدا کرتا ہی
تو یہ زاویے یا دو قائمے ہون گے ∠
یا برابر دو قائمون کے ∠

صورت اوّل

اگر ∠ اب س = ∠ اب د جیساکہ ش ۱ مین ہے
تو ہر ایک ان مین سے قائمہ ہے (ح ۹)

صورت دوم

اگر ∠ اب س = ∠ اب د نہین ہے جیساکہ ش ۲ مین ہے
تو ب سے ب ی ⊥ س د پر کھینچو (ش ۱۱ م ۱)
تو مجموع ∠ اب س و ∠ اب د = مجموع ∠ ی ب س ی ب ا
اب د اور مجموع ∠ ی ب س و ی ب د = مجموع ∠ ی ب س ی ب ا اب د
∴ مجموع ∠ اب س و اب د = مجموع ∠ ی ب س ی ب د
∴ مجموع ∠ اب س و اب د = مجموع ایک قائمہ اور ایک قائمہ
∴ مجموع ∠ اب س و اب د = دو قائمون کے ۔ ہب

مثال

۱ ۔ شکل ذو اربعۃ الاضلاع مین مقابل کے نقاط الزوایا سے خطوط مستقیمہ نکلکر نقطہ ق پر تقاطع کرتے ہین تو ثابت کرو کہ نقطہ ق پر کے زاویون کا مجموع چار قائمون کے برابر ہے

(تنبیہ ۱) جب دو زاویون سے ملکر ایک قائمہ بنتا ہے تو اون مین سے ہر ایک دوسرے کا متمم کہلاتا ہے مثلاً ش ۲ مین ∠ اب د ∠ اب ی کا متمم ہے

(تنبیہ ۲) جب دو زاویون سے ملکر دو قائمے بنتے ہین تو اونمین سے ہر ایک دوسرے کا

ضمیمہ کہلاتا ہے مثلاً ان دونون شکلون مین ∠ اب د ∠ اب س کا ضمیمہ ہے

شکل چہاردہم نظری

اگر ایک نقطہ پر کسی خط مستقیم کے دو اور خط مستقیم اوسکے مقابل کی سمتون سے آکر دو متصل زاویے برابر دو قائمون کے پیدا کرین تو یہ دو خط ایک ہی خط مستقیم مین ہون گے

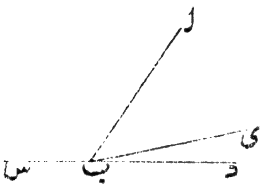

فرض کرو کہ خط مستقیم اب کے نقطہ ب پر ب س و ب د دو خط مستقیم اب کے مقابل سمتون سے آکر اب س و اب د زوایا سے متصلہ = دو قائمون کے پیدا کرتے ہین

تو ب د اور ب س ایک ہی خط مستقیم مین ہونگے

اس واسطے کہ اگر یہ دو خط ایک ہی خط مستقیم مین نہین ہین تو فرض کرو کہ ب ی اور ب س ایک ہی خط مستقیم مین ہین

تو ∠ اب س و اب ی ملکر = دو قائمون کے (ش ۱۳ م ۱)

اور ∠ اب س و اب د ملکر = دو قائمون کے بموجب فرض کے

∴ مجموع ∠ اب س و اب ی = مجموع ∠ اب س و اب د

اب متساوین مین ہر ایک مین سے ∠ اب س نکال ڈالو

∴ ∠ اب ی = ∠ اب د (ف ۳)

یعنے چھوٹا زاویہ = بڑے زاویہ یہ محال ہے

∴ ب ی اور ب س ایک ہی خط مستقیم نہین ہے

اسی طرح سے یہ بھی ثابت ہو سکتا ہے کہ سوا ب د کے اور کوئی خط مستقیم ب س سے ملکر ایک خط مستقیم نہین ہے

∴ ب د اور ب س ملکر ایک ہی خط مستقیم ہے — ہب

مثال

ثابت کرو کہ اس شکل کے دعوے مین مقابل کی سمتون ان الفاظ کا ہونا ضرور ہے

شکل پانزدہم نظری

اگر دو خط مستقیم متقاطع ہون تو اس کے مقابل زاویے آپس مین برابر ہون گے

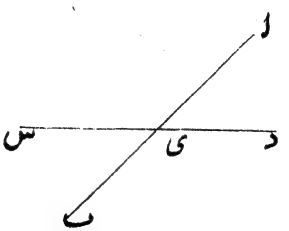

فرض کرو کہ خط مستقیم ا ب و س د نقطہ ی پر تقاطع کرتے ہین

تو ∠ ا ی س = ∠ ب ی د اور ∠ ا ی د = ∠ ب ی س

کیون ∵ ا ی س د سے ملا ہے

اور ∵ د ی ا ب سے ملا ہے

∴ مجموع ∠ ب ی د و ا ی د = دو قائمون کے (ش ۱۳ م ۱)

∴ مجموع ∠ ا ی س و ا ی د = مجموع ∠ ب ی د و ا ی د

∴ ∠ ا ی س = ∠ ب ی د (فہ ۳۵)

اسیطرح سے یہ بھی ثابت ہوسکتا ہے کہ ∠ ا ی د = ∠ ب ی س — ہب

نتیجہ صریح ۱

اس سے یہ ظاہر ہے کہ اگر دو خط مستقیم باہم متقاطع ہون تو نقطہ تقاطع پر جو چار زاویے پیدا ہون گے وہ ملکر چار قائمون کے برابر ہون گے

نتیجہ صریح ۲

جتنے زاویے کئی خطوط مستقیمہ کے ایک نقطہ پر ملنے سے پیدا ہون وہ سب ملکر چار قائمون کے برابر ہونگے

مثال ۱ — یہ ثابت کرو کہ ا ی د و ب ی س کے خطوط منصفہ ملکر ایک ہی خط مستقیم ہے

مثال ۲ — اگر دو خط مستقیم نقطہ ی سے نکلکر ا ی و ا س پر دو قائمے پیدا کرین اور یہ دونون س د کے اوپر واقع ہون تو یہ ثابت کرو کہ ان دونون خطون کے درمیان کا زاویہ ا ی د کے برابر ہوگا

مثال ۳ — اگر ا ب و س د نقطہ ی پر متقاطع ہون تو یہ ثابت کرو کہ دو مثلث ا ی د و ب ی س بہمہ وجوہ برابر ہین

فائدہ سوم

زاویہ کی تعریف جس طرح اقلیدس نے کی ہے

اقلیدس کہتا ہے کہ زاویہ کو یہ سمجھیے کہ وہ میلان ہے دو خطوط مستقیمہ کا جو باہم ملجائین لکن ایک ہی خط مستقیم مین نہ واقع ہون

پس اس تعریف سے معلوم ہوتا ہے کہ اقلیدس کے نزدیک کوئی زاویہ ایسا نہیں ہے جو مقدار مین دو قائمون کے برابر ہو

اقلیدس نے جو زاویہ کی تعریف کی ہے اگر اوسے اس طرح سے بڑہائین تو فائدے سے خالی نہوگا

حدّ تام زاویہ

فرض کرو کہ د ق ی ایک خط مستقیم غیر متحرک ہے اور ق ب ایک اور خط ہے کہ وہ ق نقطہ ساکن کے گرد گھوم رہا ہے اور پہلے یہ خط خط ق ی پر منطبق ہے

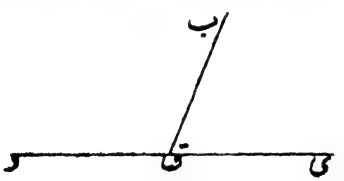

تو جب ق ب اوس مقام پر پہونچ جاتے جو اس شکل مین بنا ہے تو یہ کہین گے کہ ق ب نے زاویہ ی ق ب پیدا کیا

اور جب ق ب اتنا گھومے کہ ق د پر منطبق ہو جاے تو یہ کہین گے کہ ق ب نے ایسا زاویہ پیدا کیا ہے جو دو قائمون کے برابر ہے

اس تعریف سے ش ۱۳ بآسانی ثابت ہو سکتی ہے اس واسطے کہ ب ق چاہیے جس مقام پر ہو یہ جو زاویے د ی کے ساتھ پیدا کریگا وہ ملکر دو قائمونکے برابر ہونگے

اور اس تعریف سے یہ بھی ظاہر ہے کہ شکل ۵ مین ∠ ا ی د = ∠ ب ی س اس واسطے کہ ان مین سے ہر ایک کا ضمیمہ ایک ہی ∠ ا ی س ہے

آگے چلکے ہم یہ ثابت کرینگے کہ یہ تعریف زاویہ کی اس قدر بڑھ سکتی ہے کہ وہ زاویے بھی اس مین داخل ہو جائین جو دو قائمون سے بڑے ہون

شکل شانزدہم نظری

اگر مثلث کا ایک ضلع خارج کیا جاوے تو زاویہ خارجہ ہر ایک مقابل کے زاویہ داخلہ سے بڑا ہوگا

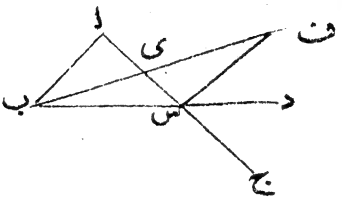

فرض کرو △ اب س کا ضلع ب س د تک خارج کیا گیا

تو ∠ اس د ∠ س اب یا ∠ اب س سے ضرور بڑا ہوگا

اس کو ی پر تنصیف کرو اور ب ی کو ملا دو

پھر ب ی کو ف تک خارج کرو اور ی ف کو ب ی کے برابر کر لو اور ف س کو ملا دو

تو △ ب ی ا و ف ی س مین

∴ ب ی = ف ی اور ی ا = ی س اور ∠ ب ی ا = ∠ ف ی س (ش ۱۴ ا)

∴ ∠ ی س ف = ∠ ی ا ب (ش ۴ م ا)

اب چونکہ ∠ اس د ∠ ی س ف سے بڑا ہے

∴ ∠ اس د ∠ ی ا ب سے بھی بڑا ہے

یعنی ∠ اس د ∠ س ا ب سے بڑا ہے

علی ہذا القیاس اگر اس ج تک خارج کیا جائے تو یہ ثابت ہو سکتا ہے کہ

∠ ب س ج > ∠ اب س سے بڑا ہے

اور ∠ ب س ج = ∠ اس د (ش ۱۵ م ۱)

∴ ∠ اس د > ∠ اب س سے بڑا ہے ۔ (ش ۹)

مثالین

۱۔ یہ ثابت کرو کہ ایک نقطہ سے دو خطوط مستقیمہ متساویہ سے زیادہ نکلکر ایک خط مستقیم معلوم سے نہین مل سکتے

۲۔ اگر کسی نقطہ سے خط مستقیم نکلکر خط مستقیم معلوم کے ساتھ ایک زاویہ حادہ اور ایک منفرجہ پیدا کرے اور اگر اوسی نقطہ سے ایک عمود خط معلوم پر کھینچا جائے تو وہ عمود زاویہ حادہ کی جہت مین واقع ہوگا

شکل مفتہم نظری

مثلث کے دو زاویے ملکر دو قائمون سے چھوٹے ہوتے ہین

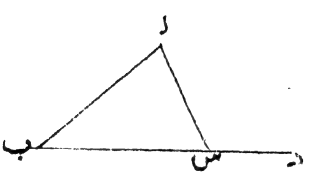

فرض کرو کہ اب س ایک △ ہے

تو دو زاویے اسکے ملکر دو قائمون سے چھوٹے ہونگے

ب اس کو د تک خارج کرو

تو ∠ اس د بڑا ہے ∠ اب س سے (ش ۱۶ م ۱)

∴ ∠ اس د و ∠ اس ب ملکر بڑے ہین ∠ اب س و ∠ اس ب س

لکن ∠ اس د و ∠ اس ب ملکر = دو قائمون کے (ش ۱۳ م ۱)

∴ ∠ اب د و ∠ اس ب ملکر دو قائمون سے چھوٹے ہین

علی ہذا القیاس یہ بھی ثابت ہوسکتا ہے کہ ∠ اب س و ∠ ب اس ملکر دو قائمون سے چھوٹے ہین اور ب اس د اس ب بھی ملکر دو قائمون سے چھوٹے ہین

فائدہ چہارم

چھٹی اصل موضوع کے بیان مین

ش ۱۷ سے معلوم ہوتا ہے کہ اگر دو خط مستقیم ب م و س ن جو نقطہ ا پر ملتے ہین ایک اور خط مستقیم د ی سے نقطہ و و ف پر ملین

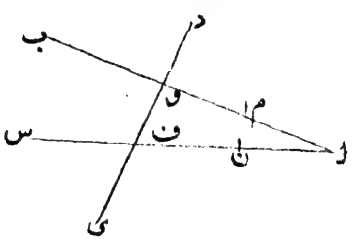

تو زاویے م و ف و ن ف و ملکر دو قائمون سے چھوٹے ہون گے

چھٹی اصل موضوع کا یہ دعوے ہے کہ اگر ایک خط د ی اور دو خطون ب م و س ن سے ملکر ایک ہی جہت مین دو زاویے داخلے م و ف و ن ف و دو قائمون سے کم پیدا کرین تو اگر ب م و س ن د ی کی اوسی جہت مین خارج کیے جائین جس مین زاویے م و ف و ن ف و ہین تو وہ دونون خط باہم ملجائین گے

پس چھٹی اصل موضوع ۱۷ شکل کا عکس ہے

آیندہ ہم بیان کرین گے کہ کیا سبب ہے کہ یہ اصل موضوع ایسی جلد نہین ثابت ہوسکتی جیسے یہ شکل ثابت ہوتی ہے

شکل ہیجدہم نظری

اگر مثلث کا ایک ضلع دوسرے ضلع سے بڑا ہو تو اس بڑے ضلع کے مقابل کا زاویہ دوسرے ضلع کے مقابل کے زاویہ سے بڑا ہوگا

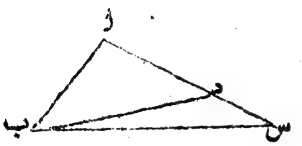

فرض کرو کہ ∠ اب س مین اس اب سے بڑا ہو

تو ∠ اب س ∠ اس ب سے ضرور بڑا ہوگا

اس مین سے اد = اب قطع کرو اور ب د کو ملا دو

تو ∵ اب = اد

∴ ∠ ادب = ∠ اب د (ش ۵ ف ۱)

اور ∵ س د کہ ایک ضلع △ ب د س کا ہے اتک خارج کیا گیا ہے

∴ ∠ ادب ∠ اس ب سے بڑا ہے (ش ۱۶ ف ۱)

اور ∵ ∠ اب د بھی ∠ اس ب سے بڑا ہے

تو ∠ اب س ∠ اس ب سے بہت بڑا ہوا — ہب

مثال — ثابت کرو کہ اگر کسی مثلث کے دو زاویے باہم برابر ہون تو اونکے مقابل کے ضلعے بھی باہم برابر ہون گے (ش ۶ ف ۱)

شکل نوزدہم نظری

اگر مثلث کا ایک زاویہ دوسرے زاویہ سے بڑا ہو تو پہلے زاویہ کے مقابل کا ضلع دوسرے زاویہ کے مقابل کے ضلع سے بڑا ہوگا

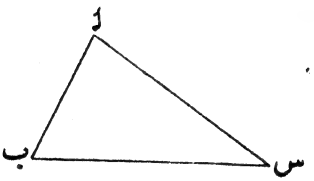

فرض کرو کہ △ اب س مین ∠ اب س ∠ اس ب سے بڑا ہے

تو اس اب سے ضرور بڑا ہوگا

اسواسطے کہ اگر اس اب سے بڑا نہین ہے

تو اس یا = اب یا اب سے چھوٹا ہے

اس = اب نہین ہوسکتا اسواسطیکہ اس صورت مین

∠ اب س = ∠ اس ب کے ہوجاوے گا حالانکہ یہ امر نہین ہے

اور نہ اس اب سے چھوٹا ہوسکتا ہے اسواطیکہ اسصورت مین (ش ۱۸ م ۱)

∠ اب س ∠ اس ب سے چھوٹا ہوجاے گا حالانکہ یہ امر نہین ہے

∴ اس اب سے بڑا ہے — ہب

مثالین

۱ — مثلث منفرج الزاویہ مین سب سے بڑا ضلع زاویہ منفرجہ کے مقابل ہوتا ہے

۲ — ب ا س مثلث متساوی الساقین کا قاعدہ ب س نقطہ د خارج کیا گیا تو ثابت کرو کہ ا د اب سے بڑا ہے

۱۲ — سب سے چھوٹا خط جو نقطہ معلومہ سے خط مستقیم معلوم تک کھنچ سکتا ہے وہ عمود ہے اور اور خطوط مین جو خط عمود سے زیادہ قریب ہو وہ اوس سے چھوٹا ہے جو عمود سے بعید تر ہے

شکل بستم نظری

مثلث کے دو ضلعے ملکر تیسرے ضلع سے بڑے ہوتے ہین

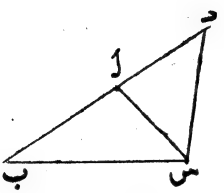

فرض کرو کہ ا ب س ایک △ ہے

اسکے دو ضلعے ملکر تیسرے ضلع سے بڑے ہون گے

ب ا کو د تک خارج کرو اور ا د کو اس کے برابر کرلو اور د س کو ملا دو

تو ∵ ا د = ا س

∴ ∠ ا س د = ∠ ا د س یعنی ∠ ب د س (شکل الف)

اب ∵ ∠ ب س د ∠ ا س د سے بڑا ہے

∴ ∠ ب س د ∠ ب د س سے بھی بڑا ہے (ش ۱۹ م ۱)

لکن ∵ ب د = مجموع ب ا و ا د

یعنے ب د = مجموع ب ا و ا س

∴ ب ا و ا س ملکر ب س سے بڑے ہین

اسی طرح سے یہ بھی ثابت ہو سکتا ہے کہ

اب و ب س ملکر اس سے بڑے ہین

اور ب س و س ا ملکر . . . . . اب سے - ہب

مثالین

۱ — یہ ثابت کرو کہ شکل ذوار بعۃ الاضلاع کے تین ضلعے ملکر چوتھے ضلع سے بڑے ہین

۲ — یہ ثابت کرو کہ ایک ضلع مثلث کا اور دو ضلعون کے تفاوت سے بڑا ہے

۳ — اگر مثلث کا ایک ضلع تنصیف کیا جائے تو اور دو ضلعونکا مجموع اوس خط کے دو چند سے زیادہ ہوگا جو راس المثلث اور نقطہ تنصیف کو ملاتا ہے

شکل بست و یکم نظری

اگر مثلث کے ایک ضلع کے دو طرفون سے دو خط مستقیم ایک نقطہ تک مثلث کے اندر کھینچیں تو یہ خط ملکر مثلث کے اور دو ضلعون سے چھوٹے ہونگے مگر اونکے درمیان کا زاویہ بڑا ہوگا

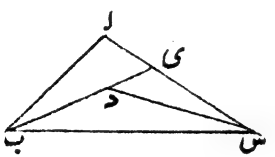

فرض کرو کہ ا ب س △ ہے اور اوسکے اندر ایک نقطہ د سے دو خط مستقیم ب س تک کھینچو تو ب د د س ملکر ب ا ا س سے چھوٹے ہونگے لکن ∠ ب د س ∠ ب ا س سے بڑا ہوگا

ب د کو خارج کرو کہ ا س سے ی پر ملجائے

تو ∵ ب ا ا ی ملکر ب ی سے بڑے ہین (ش ۲۰ م ۱)

انمین سے ہر ایک پر ی س زیادہ کرو

تو ب ا ا س ملکر ب ی و ی س سے بڑے ہین

پھر ∵ د ی ی س ملکر د س سے بڑے ہین

انمین سے ہر ایک پر ب د زیادہ ٹرو

تو ب ی ی س ملکر ب د د س سے بڑے ہین

اور یہ ثابت ہو چکا ہے کہ ب ا ا س ملکر ب ی ی س سے بڑے ہین

∴ ب ا ا س ملکر ب د د س سے بڑے ہین

پھر ∵ ∠ ب د س ∠ د ی س سے بڑا ہے (ش ۱۶ م ۱)

اور ∠ د ی س ∠ ب ا س سے بڑا ہے (ش ۱۶ م ۱)

∴ ∠ ب د س ∠ ب ا س سے بڑا ہے — ہب

مثال ۱ — مثلث ا ب س کے قاعدہ ا ب پر ا د ی ب شکل ذو اربعۃ الاضلاع ایسی بنائی کہ وہ بالکل مثلث کے اندر ہے تو اب یہ ثابت کرو کہ مثلث کے ضلعو ا س س ب ملکر شکل ذو اربعۃ الاضلاع کے ا د د ی ی ب ضلعو نسے بڑے ہین

مثال ۲ — یہ ثابت کرو کہ مجموع اون خطوط مستقیمہ کا جو مثلث کے زاویونکو ایک نقطہ سے مثلث کے اندر ملادین چھوٹا ہوگا مجموع اضلاع مثلث سے اور بڑا ہوگا نصف مجموع اضلاع مذکورہ سے

شکل بست و دوم عملی

ایک ایسا مثلث بناؤ جسکے اضلاع تین خطوط معلومہ کے برابر ہون کہ اونمین سے دو خط ملکر تیسرے سے بڑے ہین

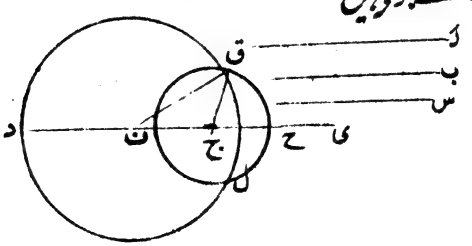

فرض کرو کہ اب س تین خطوط مستقیمہ ہین اور انمین سے دو خط ملکر تیسرے سے بڑے ہین

تو مطلوب یہ ہے کہ ایک △ بناؤ کہ اوسکے اضلاع = اب س باالتناظر ہون

دی ایک غیر محدود خط مستقیم فرض کرو

دی مین د ف = ا اور ف ج = ب اور ج ح = س بناؤ

مرکز ف سے ف د کے بُعد پر ⊙ د ق ل کھینچو

اور مرکز ج سے بُعد ج ح پر ⊙ ح ق ل کھینچو

ف ق ج ق کو وصل کر دو

تو △ ق ف ج کے اضلاع = اب س باالتناظر ہین

اسواسطیکہ ف ق = ف د (ح ۱۳)

∴ ف ق = ا

اور ج ق = ج ح (ح ۱۳)

∴ ج ق = س

اور ف ج = ب

∴ △ ق ف ج موافق مطلوب کے بنگیا — ہب

مثال ایسا مثلث متساوی الساقین بناؤ کہ وہ زاویہ معلومہ کے برابر ہو

شکل بست و سوم عملی

خط مستقیم معلوم مین نقطہ معلومہ پر ایک زاویہ بناؤ کہ وہ زاویہ معلومہ کے برابر ہو

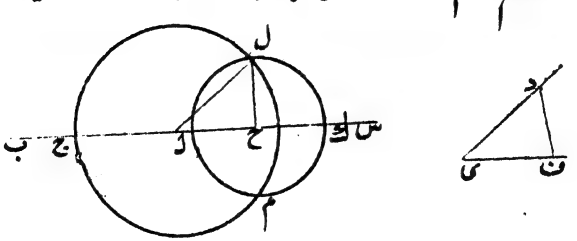

فرض کرو کہ ا نقطہ معلومہ ہے اور ب س خط مستقیم معلوم ہے اور د ی ف ل معلومہ

تو مطلوب یہ ہے کہ ا پر ایک زاویہ = ∠ د ی ف بناؤ

ی د اور ی ف مین دو نقطے د ف فرض کرو اور د ف کو ملا دو

اگر ضرورت ہو تو ا ب کو خارج کرو اور اوسمین سے ا ج = د ی قطع کرو

اس کو بشرط ضرورت خارج کرکے اوس مین سے ا ح = ف د قطع کرو

ح س کو بشرط ضرورت خارج کرکے اوسمین سے ح ك = ف د قطع کرو

مرکز ا سے ا ج کے بعد پر ⊙ ج ل م کھینچو

مرکز ح سے ح ك کے بعد پر ⊙ ل ك م کھینچو

ل د و ح ل کو وصل کر دو

تو ∵ ل ا = ا ج ∴ ل ا = د ی

اور ∵ ح ل = ح ك ∴ ح ل = ف د

تو △ ل ا ح د ی ف مین

∵ ل ا = د ی اور ا ح = ی ف اور ح ل = ف د

∴ ∠ ل ا ح = ∠ د ی ف (شکل س)

∴ نقطہ ا پر موافق مطلوب کے زاویہ ل ا ح بنا دیا۔ ہب

فائدہ پنجم

اس مقام پر ہم ایسی شکل نظری کا ثبوت لکھتے ہین کہ وہ ش ۲۴ کے اثبات کے واسطے ضرور ہے اور مقالہ سوم کے بہت سے اشکال مین جاری ہو سکتا ہے

شکل د نظری

جو خط مستقیم راس المثلث سے قاعدے تک کھینچا جاے وہ اعظم ضلعین سے چھوٹا ہوگا اور اگر ضلعین برابر ہون تو ہر ضلع سے چھوٹا ہوگا

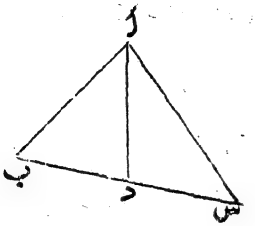

فرض کرو کہ مثلث اب س مین ضلع اس اب سے چھوٹا نہین ہے
ب س مین ایک نقطہ د فرض کرو اور ا د کو ملا دو
تو ا د اس سے ضرور چھوٹا ہوگا
کیون ∵ اس اب سے چھوٹا نہین ہے
∴ ∠ اب د ∠ ا س د سے چھوٹا نہین ہے (شکل الف ش ۱۸ م ۱)
لکن ∠ ا د س ∠ اب د سے بڑا ہے (ش ۱۶ م ۱)
∴ ∠ ا د س ∠ ا س د سے بڑا ہے
∴ ا س ا د سے بڑا ہے — ہب

شکل بست و چہارم نظری

اگر دو مثلثون مین سے ایک مثلث کے دو ضلعے دوسرے کے دو ضلعون کے برابر ہون ہر ایک اپنے نظیر کے لکن اس مثلث کے ان دو ضلعون کا زاویہ درمیانی دوسری مثلث کے اون ضلعون کے زاویہ درمیانی سے جو پہلی مثلث کے دو ضلعون کے برابر ہین بڑا ہو تو جس مثلث کا زاویہ درمیانی بڑا ہی اوسکا قاعدہ دوسرے مثلث کے قاعدہ سے بڑا ہوگا

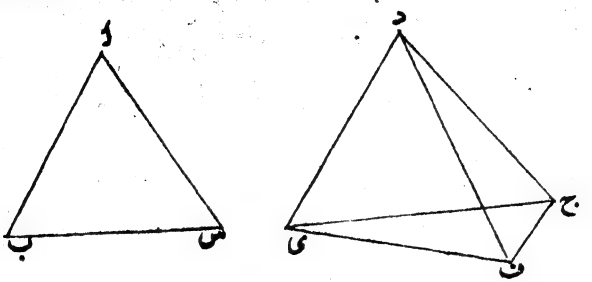

فرض کرو کہ △ اب س دی ف مین

اب = دی اور اس = دف

لکن ∠ب اس ∠ ی دف سے بڑا ہے

تو ب س ی ف سے بڑا ہوگا

فرض کرو کہ دی دف ضلعون مین دی دف[1] بڑا نہین ہے

ی د خط مستقیم مین نقطہ د پر ∠ ی دج = ∠ ب اس بناؤ (ش ۲۳ م ۱)

اور دج = اس یا دف کر لو اور ی ج ج ف کو وصل کر دو

تو ∵ اب = دی اور اس = دج اور ∠ ب اس = ∠ ی دج

∴ ب س = ی ج (ش ۴ م ۱)

[1] یہ خط سمسن صاحب مہندس مشہور نے بڑھایا ہے تاکہ اقلیدس کی دلیل مین جو نقص ہے وہ دفع ہو جائے اگر یہ شرط نہو تو اس شکل کی تین صورتین ثابت کرنی پڑینگی اور بنا بر اس شرط کے یہ ثابت ہو سکتا ہے کہ ف ی ج ج کے نیچے واقع ہوگا اسواسطے کہ چونکہ دف دی سے چھوٹا نہین ہے اور دج دف کے برابر کھینچا ہے لہذا دج دی سے چھوٹا نہین ہے پس بموجب شکل د کے خط نقطہ د سے نکلکر ی ج سے ملیگا وہ دج سے چھوٹا ہوگا اور چونکہ دف دج کے برابر ہے تو دف ی ج کے بلا ضرور بڑھ جائیگا۔ اس شکل کو حل کرنے کا ایک اور طریقہ اس رسالہ کے آخر مین مذکور ہے

پھر ∵ دج = دف

∴ ∠ دفج = ∠ دجف (شکل الف)

∴ ∠ یفج ∠ دجف سے بڑا ہے

لہذا ∠ یفج ∠ یجف سے بہت بڑا ہے

∴ یج یف سے بڑا ہے (ش ۱۹ م ۱)

لکن یج = بس

∴ بس یف سے بڑا ہے - ہب

شکل بست و پنجم نظری

اگر دو مثلثون مین سے ایک مثلث کے دو ضلعے دوسری کے دو ضلعون کے برابر ہون ہر ایک اپنے نظیر کے لکن ایک مثلث کا قاعدہ دوسرے کے قاعدہ سے بڑا ہو تو جسکا قاعدہ بڑا ہے اوسکے ضلعون کا درمیانی زاویہ بھی دوسری مثلث کے اون اضلاع کے زاویہ درمیانی سے بڑا ہوگا جو پہلے مثلث کے اضلاع کے برابر ہین

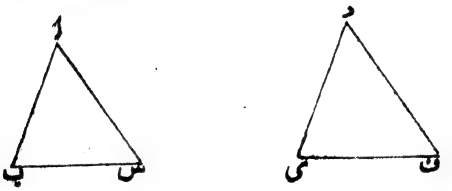

فرض کرو کہ △ ا ب س د ی ف مین

اب = دی اور اس = دف

اور فرض کرو کہ ب س ی ف سے بڑا ہے

تو ∠ ب اس ∠ ی دف سے بڑا ہوگا

اس واسطے کہ ∠ ب ا س یا ∠ ی د ف سے بڑا ہے یا اوسکے برابر ہے یا اوس سے چھوٹا ہے

∠ ب ا س = ∠ ی د ف نہین ہوسکتا

کیونکہ اس صورت مین بموجب (ش ۴ م ۱) کے ب س = ی ف ہو جائیگا حالانکہ یہ امر نہین ہے

اور ∠ ب ا س ∠ ی د ف سے چھوٹا بھی نہین ہوسکتا

کیونکہ اس صورت مین بموجب (ش ۲۴ م ۱) کے ب س ی ف سے چھوٹا ہو جائیگا

حالانکہ یہ امر نہین ہے

∴ ∠ ب ا س ∠ ی د ف سے بڑا ہے — ہب

شکل بست و ششم نظری

اگر دو مثلثون مین سے ایک مثلث کے دو زاویے دوسرے کے دو زاویون کے برابر ہون ہر ایک اپنے نظیر کے اور ان زوایاے متساویہ کے مقابل کا ایک ایک ضلع دونون مثلثون مین برابر ہو تو یہ مثلث بہمہ وجوہ باہم برابر ہون گے

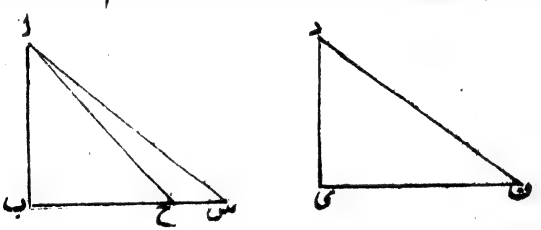

فرض کرو کہ △ ا ب س د ی ف مین

∠ ا ب س = ∠ د ی ف اور ∠ ا س ب = د ف ی اور ا ب = د ی

تو ب س = ی ف اور ا س = د ف اور ∠ ب ا س = ∠ ی د ف

فرض کرو کہ △ د ی ف کو △ ا ب س پر چسپان کیا

اس طرح سے کہ د آ پر منطبق ہو گیا اور د ی ا ب پر واقع ہوا

تو ∵ دی = اب ∴ ی ب پر منطبق ہوگا

اور ∵ ∠ دی ف = ∠ اب س ∴ ی ف ب س پر واقع ہوگا

تو اب ف س پر ضرور منطبق ہوگا اس واسطے کہ اگر ایسا نہو

تو فرض کرو کہ ف ب اور س کے درمیان مین نقطہ ح پر واقع ہو ا ح کو ملا دو

تو ∵ ∠ ا ح ب = ∠ د ف ی (ش ۴۴ ا)

∴ ∠ ا ح ب = ∠ ا س ب

یعنی ∠ خارجہ = ∠ داخلہ مقابل کے یہ غیر ممکن ہے

∴ ف ب اور س کے درمیان مین نہ واقع ہوگا

علی ہذا القیاس یہ ثابت ہو سکتا ہی کہ ف ب س پر بعد الاخراج نہ واقع ہوگا

∴ ف س پر منطبق ہوگا اور ∵ ب س = ی ف

∴ ا س = د ف و ∠ ب ا س = ∠ ی د ف (ش ۴۴ ا)

∴ یہ دو مثلث[1] بہمہ وجوہ برابر ہین۔ ہب

[1] اس چھبیسوین شکل مین اقلیدس نے دو صورتین شامل کی ہین کہ اون مین دو مثلث بہمہ وجوہ برابر ہوتے ہین یعنے جبکہ اجزاء مرقومہ ذیل دونون مثلثون کے برابر ہون

۱ — دو زاویے اور اونکے درمیان کا ضلع

۲ — دو زاویے اور ایک زاویہ کے مقابل کا ضلع

ان دونون صورتون مین سے ایک صورت تو ہم شکل ب مین ثابت کر چکے ہین پس اب فقط دوسری صورت کا ثابت کرنا باقی رہگیا اس صورت کو ہمنے قاعدہ تطبیق سے ثابت کیا۔

اقلیدس نے جو اس چھبیسوین شکل کا ثبوت لکھا ہے وہ اس رسالہ کے آخر مین مرقوم ہے ۱۲

متفرق مثالین ش۱ سے ش۲۶ تک

۱ — اب س مثلث متساوی الساقین کے قاعدہ ب س مین م نقطہ وسط ہے اور ن اس مین ایک نقطہ ہے تو اب ثابت کرو کہ م ب اور م ن مین جو تفاوت ہے وہ اب اور ان تفاوت سے کم ہے

۲ — مثلث اب س مین زاویہ ا ایک خط مستقیم سے منصیف ہوا جو ب س سے د پر ملتا ہے تو ثابت کرو کہ ب اب د سے بڑا ہے اور س اس د سے

۳ — اب و اس دو خط مستقیم نقطہ ا پر ملتے ہین اور د ایک نقطہ معلومہ ہے د سے ایسا خط مستقیم کھینچو کہ وہ اب و اس سے برابر اجزا قطع کرے

۴ — ایک نقطہ معلومہ سے ایسا خط مستقیم کھینچو کہ وہ دو خطوط مستقیمہ سے جو باہم مل گئے ہین مساوی زاویے پیدا کرے —

۵ — ب اس زاویہ معلومہ کی تنصیف کی تو اب اگر س اکو ج تک خارج کرین اور زاویہ ب اج کی تنصیف کرین تو دو خطوط متقاطعہ باہم زاویے قائمہ پیدا کرینگے

۶ — راس المثلث سے دو خط مستقیم قاعدہ تک کھینچے اس طرح سے کہ ایک خط زاویہ الراس کی تنصیف کرتا ہے اور دوسرا خط قاعدہ کی تو اب ثابت کرو کہ ان دو خطون مین سے یہ پچھلا خط بڑا ہے

۷ — یہ ثابت کرو ش۱۷ بغیر خارج کرنے ضلع مثلث کے ثابت ہو سکتی ہے

۸ — ش ۱۸ کو اس ترکیب سے ثابت کرو کہ اد = اب قطع کر لو اور ایک خط ای کھینچو کہ وہ ∠ ب اس کی تنصیف کرے اور ب س سے ی پر ملے اور دی کو ملاؤ

۹ — ش ۳۰ بدون اخراج احد الاضلاع مثلث تنصیف احد الزوایا ثابت کرو

۱۰ — مثلث کے دو زاویے اور ایک ضلع متصل زاویتین معلوم ہے پورا مثلث بناؤ

۱۱- یہ ثابت کرو کہ اگر مثلث کے زاویہ درمیانی کو ایک خط مستقیم تنصیف کرے اور اوس خط کے ایک نقطہ سے عمود نکلکر مثلث کے دو ضلعون پر گرین تو یہ عمود باہم برابر ہون گے

اس فصل کے آخر مین ہم ایک شکل بیان کرتے ہین کہ اقلیدس نے اوسے نہین ثابت کیا اس شکل مین بھی دو مثلث بہمہ وجود برابر ہون گے

شکل ی نظری

اگر دو مثلثون مین سے ایک مثلث کا ایک زاویہ دوسرے کے زاویہ کے برابر ہو اور اس زاویہ کے متصل ضلعے ہر ایک مثلث مین برابر ہون تو اگر تیسرا زاویہ دونون مین حادّہ ہو یا منفرجہ ہو یا ایک اونمین سے قائمہ ہو تو یہ مثلث بہمہ وجوہ برابر ہون گے

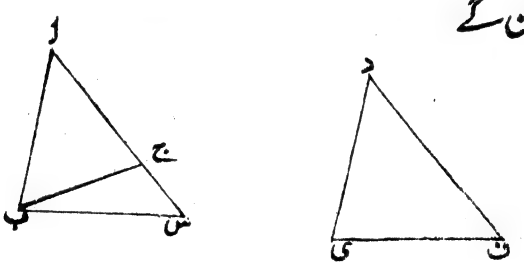

فرض کرو کہ ∠ ا ب س د ی ف مین ∠ ب ا س = ∠ ی د ف اور ا ب = د ی اور ب س = ی ف اور فرض کرو کہ ∠ ا س ب د ف ی دونون حادّے ہین یا دونون منفرجے ہین یا ایک اون مین سے قائمہ ہے

تو △ ا ب س د ی ف بہمہ وجوہ برابر ہون گے

اسواسطیکہ اگر ا س = د ف نہین ہے تو ا ج کو د ف کے برابر قطع کرلو اور ب ج کو ملا دو تو ا ب △ ب ا ج ی د ف مین

∵ ب ا = ی د اور ا ج = د ف اور ∠ ب ا ج = ∠ ی د ف

∴ ب ج = ی ف اور ∠ ا ج ب = ∠ د ف ی

لکن ب س = ی ف ∴ ب ج = ب س

∴ ∠ ب س ج = ∠ ب ج س

اوّلاً یہ فرض کرو کہ ∠ ا س ب و ∠ د ف ی دونون حادّ ہین

تو ∠ ا ج ب حادّہ ہے ∴ ∠ ب ج س منفرجہ ہے (ش ۱۳ ا ۱)

∴ ∠ ب س ج منفرجہ ہے یہ خلاف فرض ہے

ثانیاً — فرض کرو کہ ∠ ا س ب و ∠ د ف ی دونون منفرجے ہین

تو ∠ ا ج ب منفرجہ ہے ∴ ∠ ب ج س حادّہ ہے

∴ ∠ ب س ج حادّہ ہے یہ خلاف فرض ہے

ثالثاً — فرض کرو کہ ہر مثلث کا تیسرا زاویہ آ س ب د ف ی قائمہ ہے

تو اگر ∠ ا س ب قائمہ ہے

تو ∠ ب ج س بھی قائمہ ہے

∴ ∠ ب س ج و ∠ ب ج س ملکر = ۲ قائمونکے یہ غیر ممکن ہے (ش ۱۷ ا ۱)

پھر اگر ∠ د ف ی قائمہ ہے

تو ∠ ا ج ب قائمہ ہے ∴ ∠ ب ج س قائمہ ہے

لہذا ∠ ب س ج بھی قائمہ ہے

∴ ∠ ب س ج و ∠ ب ج س ملکر = ۲ قائمونکے یہ غیر ممکن ہے (ش ۱۷ ا ۱)

لہذا ا س = د ف

اور △ ا ب س دی ف بہمہ وجوہ برابر ہین — ہسب

شکل ی کے دعوے مین اگر ان الفاظ کی عوض یا ایک اون مین سے قائمہ ہو یہ الفاظ لکھین دونون قائمے ہون تو یہ صورت ش ۲۶ سے متحد ہو جائیگی

۴۳۷۸

نتیجہ صریح

اس شکل کی پہلی صورت سے یہ شکل نظری مستنبط ہوتی ہے

اگر دو مثلث قائم الزاویہ مین سے ایک مثلث کا وتر قائمہ اور ایک ضلع دوسرے کے وتر قائمہ اور ایک ضلع کے برابر ہو ہر ایک اپنے نظیر کے تو یہ مثلث بہمہ وجوہ برابر ہونگے

فصل دوم دربیان مسئلہ خطوط متوازیہ

جن اشکال مین اقلیدس نے خطوط متوازیہ سے بحث کی ہے اونکے پیشتر اور بعد کے اشکال سے علیحدہ ہمنے اونھین بیان کیا ہے تاکہ جو مشکلین اور دقتین اس تفریق سے پیدا ہوتی ہین اور جسطرح اقلیدس نے اونھین حل کیا ہے طالب علم پر خوب منکشف ہو جائین

پہلے ہم کچھ مصطلحات کی توضیح کرتے ہین جو اس فصل مین مستعمل ہوئی ہین پس جاننا چاہیے کہ اگر ایک خط مستقیم ی ف اور دو خطوط مستقیمہ اب س د کو قطع کرے تو اس سے آٹھ زاویے پیدا ہونگے انمین سے ہر ایک زاویہ کا ایک خاص نام رکھا گیا ہے

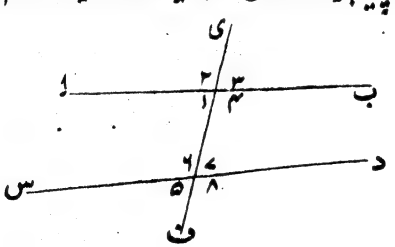

زاویے ۳ ۴ ۶ ۷ زاویاے داخلہ کہلاتے ہین

اور زاویے ۱ ۲ ۵ ۸ زوایاے خارجہ کہلاتے ہین

اور زاویے ۲ ۷ زوایاے متبادلہ کہلاتے ہین

اور زاویے ۴ و ۶ بھی زوایاے متبادلہ کہلاتے ہین
اور دو دو زاویے یعنی ۱ و ۵ اور ۲ و ۶ اور ۴ و ۸ اور ۳ و ۷ یہ زوایاے متماثلہ کہلاتے ہین

شکل بست و ہفتم نظری

اگر ایک خط مستقیم اور دو خط مستقیمہ پر واقع ہو اور زوایاے متبادلہ برابر پیدا کرے تو یہ دو خط مستقیم متوازی ہونگے

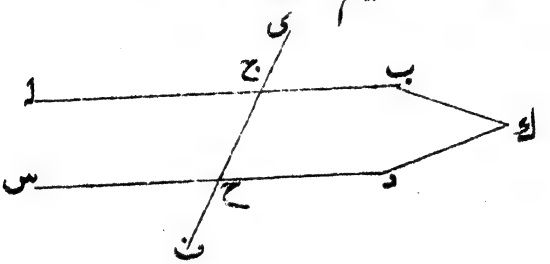

فرض کرو کہ ی ف خط مستقیم اب س د خطوط مستقیمہ پر واقع ہوا
اور اج ح و ج ح د زوایاے متبادلہ برابر پیدا کئے
تو اب ∥ اس د
اسواسطے کہ اگر اب ∥ اس د نہین ہے تو یہ دونون خط بعد الاخراج یا ب د
کی طرف مل جائینگے یا اس کی جانب
ان دونونکو ب د کی طرف خارج کرو کہ یہ ك پر ملجائین
تو اب ج ح ك △ ہے
اور ∠ اج ح ∠ ج ح د سے بڑا ہے (ش ۱۶ م ۱)
لکن بموجب فرض کہ ∠ اج ح = ∠ ج ح د
یہ غیر ممکن ہے

∴ اب س د بعد الاخراج ب د کیطرف نہین مل سکتے

علی ہذا القیاس یہ بھی ثابت ہو سکتا ہے کہ اب س د بعد الاخراج اس کیطرف بھی نہ ملین گے

∴ اب س د کا متوازی ہے۔ ہب (ح ۲۶)

شکل بست و ہشتم نظری

اگر ایک خط مستقیم اور دو خطوط مستقیمہ پر واقع ہو اور زاویہ خارجہ برابر مقابل کے زاویہ داخلہ کے ایک جہت مین پیدا کرے یا زوایاے داخلہ ایک جہت مین دو قائمون کے برابر پیدا کرے تو وہ دو خط مستقیم متوازی ہون گے

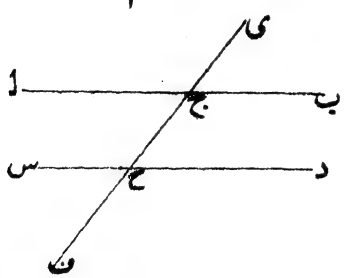

فرض کرو کہ ی ف خط مستقیم اب س د خطوط مستقیمہ پر واقع ہوا اور

۱۔ ∠ ی ج ب = ∠ ج ح د پیدا کیا

۲۔ ∠ ب ج ح ج ح د ملکر = دو قائمون کے پیدا کیے

بہر صورت اب ∥ س د ہوگا

۱۔ بموجب فرض کے ∵ ∠ ی ج ب = ∠ ج ح د

اور یہ معلوم ہے کہ ∠ ی ج ب = ∠ ا ج ح (ش ۱۵ م ۱)

∴ ∠ ا ج ح = ∠ ج ح د

اور یہ زوایاے متبادلہ ہین

∴ ب ا ا س د (ش ۲۷ م ۱)

۲ — ∴ ∠ ب ج ح ج ح د ملکر = دو قائمون کے بموجب فرض کو

اور ∠ ب ج ح ا ج ح ملکر = دو قائمون کے (ش ۱۳ م ۱)

∴ ∠ ب ج ح ا ج ح ملکر = مجموع ∠ ب ج ح ∠ ج ح د

∴ ∠ ا ج ح = ∠ ج ح د

∴ ا ب ا ا س د — ہب (ش ۲۷ م ۱)

فائدہ ششم

چھٹی اصل موضوع کے بیان مین

ستر ہوین اشکل کے **فائدہ** مین ہمنے بیان کیا کہ **اقلیدس** نے جو چھٹی اصل موضوع مقرر کی ہے وہ ش ۱۷ کا عکس ہے

اکثر مہندسین حال نے اس اصل موضوع کی جگہ پر اصل مرقوم ذیل تجویز کی ہے کہ یہ زیادہ قریب القیاس ہے

اگر دو خط مستقیم متقاطع ہون تو وہ **دونو** ایک خط مستقیم کو متوازی نہین ہو سکتے

اگر یہ فرض کرلین تو چھٹی اصل موضوع کو شکل نظری ٹھراکر اس طرح ثابت کر سکتے ہین

فرض کرو کہ خط ی ف خطوط ا ب و س د پر واقع ہوا

اور ∠ ب ج ح ج ح د ملکر دو قائمون سے چھوٹے پیدا کئے

تو ا ب و س د بعد الاخراج ب د کیطرف ملجائین گے

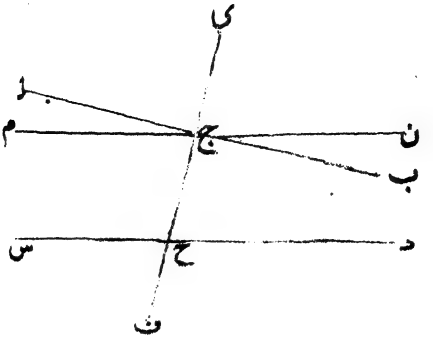

اسواسطیکہ اگر یہ نہ ہو تو فرض کرو کہ اب س د متوازی ہین

تو ∵ ∠ اج ح و ب ج ح ملکر = دو قائمون کے (ش ۱۳ م ۱)

اور ∠ ج ح د ب ج ح ملکر دو قائمون سے چھوٹے ہین

∴ ∠ اج ح بڑا ہے ∠ ج ح د سے

اب ∠ م ج ح = ∠ ج ح د بنا لو اور م ج کو ن تک خارج کرو

تو ∵ ∠ م ج ح ج ح د زوایاے متبادلہ برابر ہین

∴ م ن ∥ س د (ش ۲۷ م ۱)

پس خط م ن و اب کہ باہم متقاطع ہین یہ دونون س د کو متوازی ہوین یہ غیر ممکن ہے

∴ اب و س د متوازی نہین ہین

یہ بھی ظاہر ہے کہ یہ خطوط ب د کی جہت مین ملجائینگے اسواسطیکہ ج ب درمیان ج ن و ج د کے واقع ہے — ہب

شکل بست و نہم نظری

اگر ایک خط مستقیم دو خطوط مستقیمہ متوازیہ پر واقع ہو تو وہ برابر زوایاے متبادلہ پیدا کریگا اور زاویہ خارجہ مقابل کے زاویہ داخلہ کے برابر ایک جہت مین پیدا کریگا اور

اسی طرح سے دو زاویے خارجے ایک جہت مین ملکر دو قائمون کے برابر ہون گے

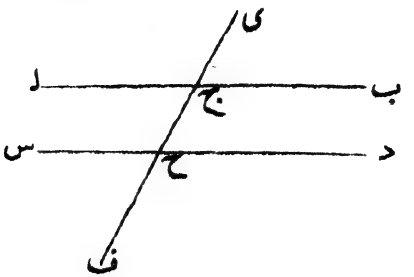

فرض کرو کہ ی ف خط مستقیم اب و س د خطوط مستقیمہ متوازیہ پر واقع ہوا تو ضرور ہے کہ

۱ــ ∠ ا ج ح = ∠ ج ح د متبادلہ

۲ــ ∠ ی ج ب خارجہ = ∠ ج ح د داخلہ

۳ــ ∠ ب ج ح ج ح د ملکر = دو قائمون کے

۱ــ فرض کرو کہ ∠ ا ج ح = ج ح د نہین ہے تو ∠ ا ج ح بڑا ہے ∠ ج ج د سے

انہین سے ہر زاویے پر ∠ ب ج ح زیادہ کرو

تو ∠ ا ج ح ب ج ح ملکر ∠ ج ح د ب ج ح سے بڑے ہین

اب چونکہ ∠ ا ج ح ب ج ح ملکر = دو قائمون کے (ش ۱۳ م ۱)

∴ ∠ ج ح د ب ج ح ملکر دو قائمون سے چھوٹے ہین

∴ اگر اب و س د ب د کیطرف خارج کیے جائین تو باہم ملجائین گے (عہ ۱۲)

لکن وہ نہین مل سکتے ∵ وہ متوازی ہین

∴ ∠ ا ج ح ∠ ج ح د سے بڑا نہین ہے

علی ہذا القیاس یہ ثابت ہو سکتا ہے کہ

∠ ا ج ح ∠ ج ح د سے چھوٹا نہین ہے

∴ ∠ ا ج ح = ∠ ج ح د

۲ — ∴ ∠ ی ج ب = ∠ ا ج ح (ش ۱۵ م ۱)

او ∠ ج ح د = ∠ ا ج ح ثابت ہو چکا ہے

∴ ∠ ی ج ب = ∠ ج ح د

۳ — ∴ ∠ ج ح د = ∠ ی ج ب ثابت ہو چکا ہے

انمین سے ہر ایک پر ∠ ب ج ح زیادہ کرو

∴ ∠ ب ج ح ج ح د ملکر = ∠ ب ج ح ی ج ب

لکن ∠ ب ج ح ی ح ب ملکر = دو قائمون کر (ش ۱۳ م ۱)

∴ ∠ ب ج ح ج ح د ملکر = دو قائمون کے ۔ ہب

مثالین

۱ — اگر ایک نقطہ سے جو دو خطوط مستقیمہ متوازیہ سے متساوی البُعد ہو دو خطوط مستقیمہ کھینچے جائین اور وہ خطوط مستقیمہ متوازیہ کو قطع کرین تو یہ خطوط متقاطعہ اون خطوط متوازیہ سے مساوی اجزاء قطع کرینگے

۲ — اگر ایک خط مستقیم مثلث کے ایک زاویہ کی تنصیف کرے اور ضلع مقابل سے ملے تو جو خطوط مستقیمہ نقطہ تنصیف سے اور اضلاع کے متوازی کھینچے جائین اور اون اضلاع پر منتہی ہون وہ برابر ہون گے

۳ — اگر ایک خط مستقیم دو خطوط متوازیہ سے ملے اور اوسکی تنصیف کیجائے تو جو خط مستقیم نقطہ تنصیف سے نکلکر اون دو خطون سے ملے گا وہ اوسی نقطے پر تنصیف ہو جائے گا

شکل سی ام نظری

جو خطوط ایک ہی خط کے متوازی ہون وہ آپسمین بھی متوازی ہون گے



فرض کرو کہ اب دس د خطوط مستقیمہ ا ی ف

تو اب ا ا س د ہوگا

ج ح خط مستقیم کھینچو کہ وہ اب س د ی ف کو نقاط و ن ق پر قطع کرے

تو ∵ ج ح خطوط ا ا اب د ی ف کو قطع کرتا ہے

∴ ∠ اون = ∠ متبادلہ ن ق ف (ش ۲۹ م ۱)

اور ∵ ج ح خطوط ا ا س د ی ف کو قطع کرتا ہے

∴ ∠ خارجہ ون د = ∠ داخلہ ن ق ف (ش ۲۹ م ۱)

∴ ∠ اون = ∠ ون د

اور یہ زوایاے متبادلہ ہین

∴ اب ا ا س د (ش ۲۷ م ۱)

ہب

اشکال نظریہ مرقومہ ذیل اہم و ضروری ہین اور بآسانی ثابت ہو سکتے ہین اس لیے انہین طالب علم کے واسطے بطور مثالون کے بے ثابت کیے چھوڑ دیا۔

۱ — اگر دو خطوط مستقیمہ اور دو مستقیم خطون کے متوازی ہون ہر ایک اپنی نظیر کے تو جو زاویے پہلے دو خطون سے پیدا ہون گے وہ ویسے ہی ہونگے جیسے پچھلے خطونکے زاویے ہین

۲ — اگر دو خطوط مستقیمہ اور دو مستقیم خطون پر عمود ہون ہر ایک اپنی نظیر پر تو جو زاویے پہلے دو خطون سے پیدا ہون گے وہ ویسے ہی ہونگے جیسے پچھلے خطون کے زاویے ہین

شکل سی و یکم نظری

نقطۂ معلومہ سے خط مستقیم ایک خط مستقیم معلوم کے متوازی کھینچو

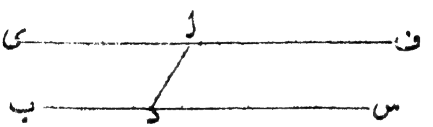

فرض کرو ا نقطہ معلومہ ہے اور ب س خط مستقیم معلوم ہے مطلوب یہ ہے کہ نقطہ ا سے ایک خط مستقیم ا ب س کھینچو

ب س مین ایک نقطہ د فرض کرو اور ا د کو ملا دو

∠ د ا ی = ∠ ا د س بنا لو (ش ۲۳ م ۱)

ی ا کو ف تک خارج کرو تو ی ف ا ب س ہوگا

کیون ∵ ا د ی ف و ب س سے ملکر برابر زاویے متبادل پیدا کرتا ہے یعنے ∠ ی ا د = ∠ ا د س

∴ ی ف ا ب س (ش ۲۷ م ۱)

∴ نقطہ ا سے خط مستقیم ا ب س کھینچا گیا — ہب

مثالین

۱ — نقطہ معلومہ سے ایسا خط مستقیم کھینچو جو خط مستقیم معلوم سے زاویہ معلومہ کے برابر زاویہ پیدا کرے

۲ — ا نقطہ معلومہ سے اب س خط مستقیم کھینچو جو دو خطوط مستقیمہ متوازیہ سے ب س پر اس طرح سے ملے کہ ب س ایک خط مستقیم معلوم کے برابر ہو جائے

شکل سنی ۳ و دوم نظری

اگر مثلث کا ایک ضلع خارج کیا جائے تو زاویہ خارجہ برابر ہوتا ہے دو مقابل کے داخلے زاویوں کے اور ہر مثلث کے تین داخلے زاویے ملکر دو قائموں کے برابر ہوتے ہیں

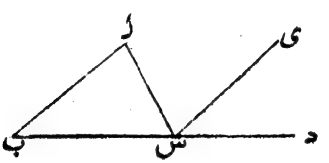

فرض کرو کہ اب س ایک △ ہے اسکی ایک ضلع ب س کو د تک خارج کرو

تو ۱ — ∠ اس د = مجموع ∠ اب س و ∠ ب اس

۲ — مجموع ∠ اب س و ∠ ب ا س و ∠ اس ب = دو قائمو نکر

س سے س ی ∥ اب کے کھینچو (ش ۳۱ م ۱)

تو ۱ — ∵ ب د خطوط ∥ ی س اب سے ملتا ہے

∴ ∠ خارجہ ی س د = ∠ داخلہ اب س (ش ۲۹ م ۱)

اور اس خطوط ا ی س ا ب سے ملتا ہے

∴ ∠ ا س ی = ∠ متبادلہ ب ا س (ش ۲۹ م ۱)

∴ مجموع ∠ ی س د و ∠ ا س ی = مجموع ∠ ا ب س ∠ ب ا س

∴ ∠ ا س د = مجموع ∠ ا ب س ∠ ب ا س

اور ۲ ∴ مجموع ∠ ا ب س ∠ ب ا س = ∠ ا س د

انمین سے ہر ایک پر ∠ ا س ب زیادہ کر دو

تو اب مجموع ∠ ا ب س و ∠ ب ا س و ا س ب = مجموع ∠ ا س د و ا س ب

∴ مجموع ∠ ا ب س ∠ ب ا س ∠ ا س ب = دو قائمون کے (ش ۱۳ م ۱)

ہب

مثالین

۱ — مثلث حاد الزاویہ کے دو زاویے ملکر تیسرے زاویہ سے بڑے ہوتے ہین

۲ — جو خط مستقیم کہ مثلث متساوی الساقین کی راس الزاویہ خارجہ کی تنصیف کرے وہ قاعدہ کے متوازی ہوگا

۳ — اگر مثلث ا ب س کا ضلع ب س د تک خارج کیا جاے اور ا ی کھینچا جاے کہ وہ زاویہ ب د س کی تنصیف کرکے ب س سے ی پر ملے تو ثابت کرو کہ زاویہ ا ب د و ا س د ملکر زاویہ ا ی د کے دگنے ہین

۴ — اگر خطوط مستقیمہ مثلث متساوی الساقین کے قاعدہ کے زاویون کی تنصیف کرین اور اونہین خارج کرکے ملادین تو یہ ثابت کرو کہ ان خطوط کا درمیانی زاویہ مثلث کے زاویہ خارجہ کے برابر ہوگا

۵ — اگر خط مستقیم مثلث کے زاویہ خارجہ کی تنصیف کرے اور قاعدہ کے متوازی ہو تو ثابت کرو کہ وہ مثلث متساوی الساقین ہوگا

ش ۳۲ کے نتائج صریحہ جو ذیل مین مرقوم ہین بیشتر انہین سمسن صاحب نے اپنی تحریر اقلیدس مین لکھا تھا

نتیجہ اوّل

ہر شکل مستقیم الاضلاع کے زوایاے داخلہ کا مجموع مع چار قائمون کے اوتنے قائمون کا دوچند ہوتا ہے جتنے اوس شکل کے ضلعے ہین

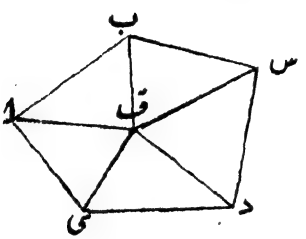

فرض کرو کہ ا ب س د ی ایک شکل مستقیم الاضلاع ہے
اس شکل کے اندر ایک نقطہ ف فرض کرو اور ف سے خطوط مستقیمہ ف ا ف ب
ف س ف د ف ی نقاط الزوایا تک کھینچو
تو اوتنے مثلث پیدا ہوے جتنے کہ اس شکل کے ضلعے ہین
ان مثلثون مین سے ہر ایک کے تین زاویے ملکر = دو قائمون کے
∴ ان مثلثون کے سب زاویے ملکر = اوتنے قائمون کے دوچند کہ جتنے مثلث ہین
یعنی اوتنے قائمون کے دوچند کے جتنے اس شکل کے ضلعے ہین
تو اب سب مثلثون کے زاویے = ∠ ا ف ب و ب ف س و د ف ی اور اون زاویون کے جو ف پر ہین
یعنی = زوایاے شکل و ف کے زاویون کے

∴ = زوایاے شکل و چار قائمون کے (نتیجہ صریح ۲ ش ۱۵ م ۱)

∴ سب زاویے اس شکل کے اور چار قائمے = اوتنے قائمون کے دوچند کے جتنے اس شکل کے ضلعے ہین — ہب

نتیجہ دوم

ہر شکل مستقیم الاضلاع محدب کے زوایاے خارجہ جو اضلاع شکل کے علی الترتیب خارج کرنے سے پیدا ہون وہ چار قائمون کے برابر ہوتے ہین

ہر زاویہ داخلہ جیسے اب س ہو اپنے متصل زاویہ خارجہ اب د سے ملکر = دو قائمونکے

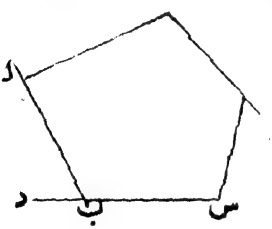

∴ سب زاویے داخلے اور کل زوایاے خارجہ ملکر = اوتنے قائمون کے دوچند کے جتنے کہ اس شکل کے ضلعے ہین

لکن سب زاویے داخلے مع چار قائمون کے = اوتنے قائمون کے دوچند کے جتنے کہ اس شکل کے ضلعے ہین —

∴ سب زاویے داخلے مع سب زوایاے خارجہ کے = تمام زوایاے داخلہ مع چار قائمونکے

∴ سب زاویے داخلے = چار قائمون کے — ہب

تنبیہ

جاننا چاہیے کہ نتیجہ دوم ش ۳۲ مین فقط اشکال محدبہ سے بحث ہے یعنی وہ شکلین جنمین ہر زاویہ داخلہ دو قائمون سے کم ہوتا ہے۔ جب کسی شکل مین ایک زاویہ دو قائمون سے بڑا ہو

جیسے اس شکل مین نقطہ دار زاویہ ہے تو اوسے زاویہ **متداخلہ** کہتے ہین

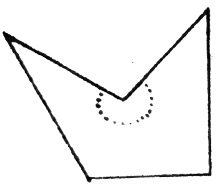

مثالین

۱ — جو زاویے خارجے شکل ذو اربعۃ الاضلاع کے ضلعون کو علی الترتیب خارج کرنے سے پیدا ہون وہ ملکر زوایاے داخلہ کے برابر ہوتے ہین

۲ — یہ ثابت کرو کہ شکل مسدس کے زوایاے داخلہ ملکر آٹھہ قائمون کے برابر ہوتے ہین

۳ — یہ ثابت کرو کہ شکل مخمس متساوی الزوایا کا زاویہ قائمہ کا $\frac{6}{5}$ ہے

۴ — اوس شکل مستقیم الاضلاع کے کتنے ضلعے ہوتے ہین جسکے زاویے داخلے ملکر زوایاے خارجہ کے دو چند ہون —

۵ — اوس شکل کثیر الاضلاع متساوی الزوایا کے کتنے ضلعے ہوتے ہین جسکے چار زاوے ملکر سات قائمون کے برابر ہون

شکل سی و سوم نظری

اگر دو خطوط مستقیمہ متوازیہ متساویہ کی ایک ایک جہت کے اطراف مین خطوط مستقیمہ وصل کرین تو وہ بھی باہم متساوی و متوازی ہون گے

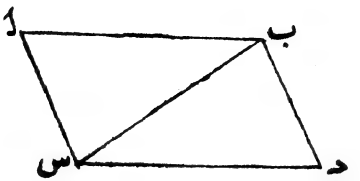

فرض کرو کہ اب و س د خطوط متساویہ متوازیہ کی ایک ایک جہت مین اس و ب د خط مستقیم وصل کئے

تو اس و ب د متساوی و متوازی ہون گے

ب س کو ملا دو

تو ∵ اب ∥ س د

∴ ∠ اب س = ∠ متبادلہ د س ب (ش ۲۹ م ۱)

تو △ اب س و ب س د مین

∵ اب = س د اور ب س مشترک ہے اور ∠ اب س = ∠ د س ب

∴ اس = ب د اور ∠ اس ب = ∠ د ب س (ش ۴ م ۱)

تو اب ∵ ب س اب ب د سے ملکر ∠ متبادلہ اس ب و د ب س برابر پیدا کرتا ہے

∴ اس ∥ ب د کے اور یہ ثابت ہو چکا ہے کہ اس = ب د — ہب

متفرق مثالین متعلق بہ فصل اول و دوم

۱ — اگر مثلث کے دو خارجے زاویون کی تنصیف خطوط مستقیمہ سے ہو اور وہ نقطہ و پر ملین تو یہ ثابت کرو کہ جو عمود نقطہ و سے اضلاع مثلث پر بدون اخراج

یا بعد الاخراج واقع ہون گے وہ برابر ہون گے

۲ — زاویہ قائمہ کی تثلیث کرو

۳ — خطوط منصفہ ہر سہ زوایائے مثلث ایک نقطہ پر ملتے ہین

۴ — اگر اضلاع مثلث کے نقاط وسطا سے اونپر عمود کھینچے جائین تو یہ عمود ایک نقطہ پر ملین گے

۵ — جو زاویہ کہ مثلث ا ب س کے زاویہ ب اس کے خط منصف کو اور اسے ب س پر جو عمود نکالا جاے اوسکے درمیان مین واقع ہوگا وہ زاویہ ب و س کے نصف تفاوت کے برابر ہوگا

۶ — اگر مثلث ا ب س کے زاویہ ا کی تنصیف آ د خط مستقیم سے ہو اور ب د ی آ د پر عمود کھینچا جاے اور اس سے بغیر اخراج یا بعد الاخراج نقطہ ی پر ملے تو یہ ثابت کرو کہ ب د د ی کے برابر ہے

۷ — ایک مثلث قائم الزاویہ کے دو مثلث متساوی الساقین بناؤ

۸ — آ ب و س د دو خطوط مستقیمہ معلومہ ہین اونکے بیچ کی نقطہ ی سے ج ی ح خط مستقیم ایسا کھینچو کہ ج ح جزء مقطوع نقطہ ی پر تنصیف ہو جاے

۹ — مثلث و ن ق کا راس الزاویہ و زاویہ قائمہ ہوگا یا حادہ یا منفرجہ موافق مقدار خط و د کے جو ن ق کی تنصیف کرے اور ن ق کے برابر ہو یا اوس سے بڑا ہو یا چھوٹا ہو —

۱۰ — مثال ۹ سے ثابت کرو کہ خط مستقیم معلوم کے ایک طرف سے بغیر اوسکے اخراج کے عمود اوسپر کھنچ سکتا ہے

فصل سوم

دربیان مساواۃ اشکال مستقیمۃ الاضلاع و رقبہ

جتنی جگہ کو شکل گھیرے ہو اوسے اوسکا رقبہ کہتے ہین
اقلیدس کے نزدیک دو شکلین اوسوقت برابر ہوتی ہین جبکہ وہ برابر جگہ کو
گھیرے ہون اور اگرچہ وہ صورت مین مشابہ نہون لکن جو رقبے اون دونون کے
حدود مین محصور ہین اگر وہ برابر ہون تو اقلیدس کے نزدیک وہ دونون شکلین برابر
ہین مثلاً وہ مثلث کو یہ سمجھتا ہے کہ ایک شکل ہے کہ اوسکے ضلعے اور زاویے
اور رقبہ ہوتا ہے اور اس فصل مین وہ یہ ثابت کرتا ہے کہ دو مثلثون کا رقبہ برابر ہوسکتا
ہے اگرچہ اونکے اضلاع اور زاویے غیر مساوی ہون
تمام مقادیر ہندسیہ کی مساواۃ انطباق حدود سے معلوم ہوتی ہے جیساکہ ہمنے
فائدہ اول مین بیان کیا بلکہ خط اور زاویون کی مساواۃ دریافت کرنا تو فقط
انطباق حدود پر منحصر ہے اور اشکال کی مساواۃ بھی اس سے معلوم ہوتی ہے
لکن فقط اسی پر منحصر نہین ہے بلکہ اور دلائل سے بھی اشکال کی مساواۃ ثابت ہوسکتی
ہے جیساکہ اس فصل مین عرض کیا جائے گا
جب دو علامات اشکال کے درمیان مین = یہ علامت لکھی ہو تو اسکے معنی یہ
سمجھنی چاہیین کہ اس شکل کا رقبہ برابر ہے اسکے
جو اشکال اس فصل مین مذکور ہین اونھین ثابت کرنے سے پیشتر ہمین چاہیئے
کہ مقالہ اول کے حدود ضروریہ جو باقی رہ گئے ہین اونھین لکھین اور جہان تک
اونھین سابق مین لکھا تھا اوسکے بعد سے شروع کرین۔

بقیہ حدود

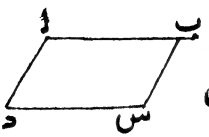

۲۷ — شکل متوازی الاضلاع وہ شکل ہے جسکے چار ضلعے ہون اور مقابل کے ضلعے متوازی ہون

اختصار کے واسطے اکثر شکل متوازی الاضلاع کو فقط دو حرفون سے تعبیر کرتے ہین جو مقابل کے زاویون پر ہوتے ہین مثلاً شکل مرقوم بالا کو بلحاظ اختصار فقط اس سے تعبیر کیا ہے



۲۸ — شکل متوازی الاضلاع قائم الزاویہ وہ شکل ہے جسکے مقابل کے ضلعے متوازی ہون اور اوسمین ایک زاویہ قائمہ ہو

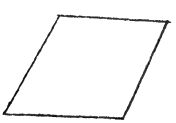

۲۹ معین وہ شکل متوازی الاضلاع ہے جسکے سب اضلاع برابر ہون



۳۰ - مربع وہ شکل متوازی الاضلاع ہی جسکے سب اضلاع برابر ہون اور سب زاویے قائمے ہون



۳۱ — منحرف وہ شکل ذو اربعۃ الاضلاع ہے جسمین فقط دو ضلعے متوازی ہون

۳۲ — قطرِ شکلِ ذو اربعۃ الاضلاع وہ خط مستقیم ہے جو دو نقاط زوایای مقابل کو اوسکے ملا دے

۳۳ — ارتفاع شکل متوازی الاضلاع اوس بُعد مستقیم کا نام ہے جو اوس شکل کے ایک ضلع کو ضلع مقابل سے ہو جو قاعدہ تصور کیا جاتا ہے

ارتفاع مثلث اوس بُعد مستقیم کو کہتے ہین جو مثلث کے ایک زاویہ کو ضلع مقابل سے ہو جسے قاعدۂ مثلث سمجھتے ہین

مثلاً فرض کرو کہ اب س د شکل متوازی الاضلاع ہے اور ای ایک عمود اسے س د تک کھینچا تو ای شکل اب س د و مثلث اس د دونونکا ارتفاع ہے

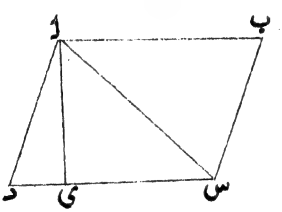

لکن اگر ب سے ایک عمود د س تک بعد الاخراج کھینچا جاے اور وہ د س سے ف پر ملے تو ب ف شکل مذکور کا ارتفاع ہوگا

مثالین

حدود مرقومۂ بالا سے یہ اشکال نظریہ ثابت کرو

۱ — مربع کے سب زاویے قائمے ہوتے ہین

۲ — شکل متوازی الاضلاع قائم الزاویہ کے سب زاویے قائمے ہوتے ہین

۳ — اقطار مربع اوسکے ہر ایک ضلع سے نصف قائمہ کے برابر زاویہ پیدا کرتے ہین

۴ — اگر دو خط مستقیم ایک دوسرے کی تنصیف کرین تو جو خطوط اونکے اطراف

کو وصل کرین اوسنسے شکل متوازی الاضلاع پیدا ہوگی

۵ — جو خط مستقیم کہ شکل متوازی الاضلاع کے زوایاے متصلہ کی تنصیف کرین وہ باہم تقاطع کرکے زاویے قائمے پیدا کرینگے

۶ — اگر خطوط مستقیمہ شکل متوازی الاضلاع کے دو مقابل کے زاویون کو وصل کرین اور اونکی تنصیف کرین تو وہ شکل متوازی الاضلاع معین ہوگی

۷ — اگر شکل ذو اربعۃ الاضلاع کے مقابل کے ضلعے باہم برابر ہون تو وہ شکل متوازی الاضلاع ہوگی

۸ — اگر شکل ذو اربعۃ الاضلاع کے دو مقابل کے ضلعے باہم برابر ہون اور باقی دو ضلعے بھی باہم برابر ہون تو وہ شکل متوازی الاضلاع ہوگی

۹ — اگر شکل معین کا ایک زاویہ برابر ہو دو قائمون کے دو ثلث کے تو جو قطر کہ اوس زاویہ کے نقطہ راس سے کھینچا جائے گا وہ شکل معین کو دو مثلث متساوی الاضلاع مین تقسیم کردے گا

شکل سی و چہارم نظری

شکل متوازی الاضلاع کے مقابل کے ضلعے اور زاویے باہم برابر ہوتے ہین اور قطر اوسکی تنصیف کرتا ہے

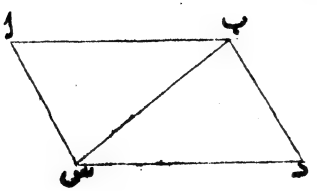

فرض کرو کہ اب د س ▱ ہے اور ب س اوسکا قطر ہے

تو ضرور ہے کہ اب = د س اور اس = ب د

اور ∠ ب اس = ∠ س د ب او ∠ اب د = ∠ اس د

اور △ اب س = ∠ د س ب

کیون ∵ اب ∥ اس د اور ب س اونسے وصل ہوا ہے

∴ ∠ اب س = ∠ متبادلہ د س ب (ش ۲۹ م ۱)

اور ∵ اس ∥ اب د اور ب س اونسے وصل ہوا ہے (ش ۲۹ م ۱)

∴ ∠ اس ب = ∠ متبادلہ د ب س

تو اب △ اب س و د س ب مین

∵ ∠ اب س = ∠ د س ب اور ∠ اس ب = ∠ د ب س

اور ب س ضلع مشترک دونون مثلثون کے زوایاے متساویہ سے متصل ہے

∴ اب = د س اور اس = د ب اور ∠ ب اس = ∠ س د ب

اور △ اب س = △ د س ب (شکل ۴ م ۱)

ونیز ∵ ∠ اب س = ∠ ب س د اور ∠ س ب د = ∠ اس ب

∴ مجموع ∠ اب س و ∠ س ب د = مجموع ∠ ب س د و ∠ اس ب

یعنے ∠ اب د = ∠ اس د ہب

مثالین

۱ — یہ ثابت کرو کہ شکل متوازی الاضلاع کے قطر ایک دوسرے کی تنصیف کرتے ہین

۲ — یہ ثابت کرو کہ شکل متوازی الاضلاع قائم الزاویہ کے قطر ایک دوسرے کے برابر ہوتے ہین

۳ — یہ ثابت کرو کہ اقطار مربع شکل متوازی الاضلاع کو چار مثلثون پر تقسیم کر دیتے ہین

وہ مثلث باہم برابر ہین

شکل سی و پنجم نظری

جو اشکال متوازی الاضلاع کہ ایک ہی قاعدے پر اور ایک ہی خطوط متوازیہ کے درمیان واقع ہون وہ برابر ہین

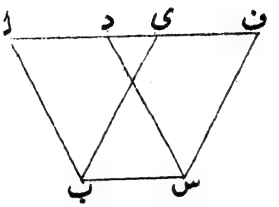

فرض کرو کہ ▱ ا ب س د و ▱ ی ب س ف ایک ہی قاعدہ ب س پر اور ایک ہی || مستقیمہ ا ف و ب س کے درمیان واقع ہین

تو ▱ ا ب س د = ▱ ی ب س ف ہوگا

صورت اوّل - اگر ا د و ی ف کے درمیان فاصلہ ہو تو د ی کو وصل کر دو

تو △ ف د س و ی ا ب مین

∵ ∠ خارجہ ف د س = ∠ داخلہ ی ا ب (ش ۲۹ م ۱)

اور ∠ داخلہ د ف س = ∠ خارجہ ا ی ب (ش ۲۹ م ۱)

اور د س = ا ب (ش ۳۴ م ۱)

∴ △ ف د س = △ ی ا ب (ش ۲۶ م ۱)

تو اب ▱ ا ب س د مع △ ف د س کے = شکل ا ب س ف

اور ▱ ی ب س ف مع △ ی ا ب کے = شکل ا ب س ف

∴ ▱ ا ب س د مع △ ف د س کے = ▱ ی ب س ف مع △ ی ا ب

∴ ▱ ا س د = ▱ ی ب س ف

صورت دوم- اگر ا د و ی ف کسی قدر ایک دوسرے کے اوپر واقع ہون جیسے اس شکل مین ہے

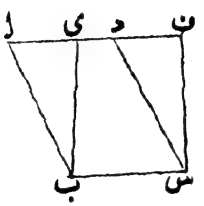

تو بھی وہی ثبوت جاری ہوگا جو صورت اوّل مین ہوا

صورت سوم اگر ب س کے مقابل کے ضلعے ایک ہی نقطہ د پر منتہی ہون جیسے اس شکل مین ہے

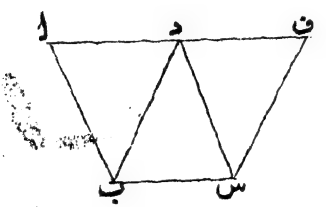

تو بھی وہی ثبوت جاری ہوتا ہے مگر یہ طریقہ استدلال اوس سے سہل تر ہے

ہر ایک دونون ▱ مین سے △ ب د س کا دوچند ہے (ش ۳۴ م ۱)

∴ ▱ ا ب س د = ▱ د ب س ف — ہب

شکل سی و ششم نظری

جو اشکال متوازی الاضلاع کہ برابر قاعدون پر اور ایک ہی خطوط متوازیہ کے درمیان واقع ہون وہ باہم برابر ہوتے ہین

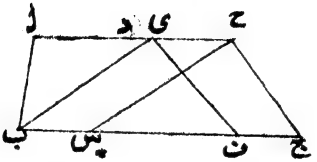

فرض کرو کہ ▱ اب س د و ▱ ی ف ج ح برابر قاعدون ب س و ف ج پر اور درمیان ایک ہی ∥ اح و ب ج کے واقع ہین

تو ▱ اب س د = ▱ ی ف ج ح ہوگا

ب ی و س ح کو وصل کر دو

تو ∵ ب س = ف ج بموجب فرض کے

اور ی ح = ف ج (ش ۳۴ م ۱)

∴ ب س = ی ح

اور ب س ∥ ی ح بموجب فرض کے

∴ ی ب = اور ∥ س ح (ش ۳۳ م ۱)

∴ ی ب س ح شکل متوازی الاضلاع ہے

تو اب ∵ ▱ ی ب س ح = ▱ اب س د (ش ۳۵ م ۱)

∵ یہ دونون ایک ہی قاعدہ ب س پر اور ایک ہی ∥ کے درمیان واقع ہین

اور ▱ ی ب س ح = ▱ ی ف ج ح (ش ۳۵ م ۱)

∵ یہ دونون ایک ہی قاعدہ ی ح پر اور ایک ا ا کے درمیان واقع ہین

∴ ▱ ا ب س د = ▱ ی ف ج ح — ہب

شکل سی و ہفتم نظری

جو مثلث کہ ایک ہی قاعدہ پر اور ایک ہی خطوط متوازیہ کے درمیان واقع ہون وہ باہم برابر ہوتے ہین

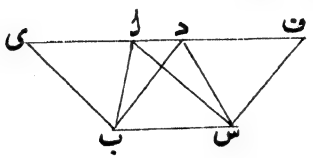

فرض کرو کہ △ ا ب س و د ب س ایک ہی قاعدہ ب س پر اور ایک ہی ا ا د و ب س کے درمیان واقع ہین

تو △ ا ب س = △ د ب س ہوگا

ب سے ب ی ا ا س ا کے کھینچو کہ وہ د ا سے بعد الاخراج ی پر ملے اور س سے س ف ا ا ب د کے کھینچو کہ وہ ا د سے بعد الاخراج ف پر ملے تو اب ی ب س ا و ف س ب د اشکال متوازی الاضلاع ہین

اور ▱ ی ب س ا = ▱ ف س ب د (ش ۳۵ م ۱)

∵ یہ دونون ایک ہی قاعدے پر اور ایک ہی ا ا کے درمیان واقع ہین

لکن △ ا ب س نصف ہے ▱ ی ب س ا کا (ش ۳۴ م ۱)

اور △ د ب س نصف ہے ▱ ف س ب د کا (ش ۳۴ م ۱)

∴ △ ا ب س = △ د ب س (ح ۷) — ہب

مثالین

۱ — اگر شکل متوازی الاضلاع اب س د کے ضلع اب مین ایک نقطہ ف فرض کرین اور ف س ف د کو ملا دین تو مثلث ف ا د و ف ب س ملکر برابر ہونگے مثلث ف د س کے

۲ — اب س د دو خطوط مستقیمہ نقطہ ی پر متقاطع ہین اور مثلث ا ی س برابر ہے مثلث ب ی د کے تو اب ثابت کرو کہ ب س ا د کے متوازی ہے

۳ — اگر دو خطوط مستقیمہ متوازیہ مین سے ایک مین نقطہ ا و ب اور دوسری مین نقطہ س و د فرض کرین اور خطوط ا د و ب س نقطہ ی پر متقاطع ہون تو مثلث ا ی س و ب ی د باہم برابر ہون گے

شکل سی و ہشتم نظری

جو مثلث برابر قاعدون پر اور ایک ہی خطوط متوازیہ کے درمیان واقع ہون وہ باہم برابر ہوتے ہین —

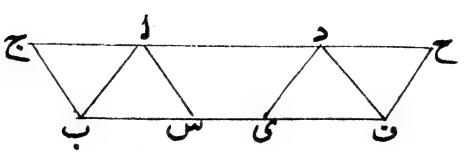

فرض کرو کہ △ اب س و د ی ف مساوی قاعدون ب س و ی ف پر اور ایک ہی ا ب ف و ا د کے درمیان واقع ہین

تو △ اب س = △ د ی ف ہوگا

ب سے ب ج ∥ اس ا کے کھینچو کہ وہ د ا سے بعد الاخراج ج پر ملے
ف سے ف ح ∥ ی د کے کھینچو کہ وہ ا د سے بعد الاخراج ح پر ملے
تو اب س ج د ی ح اشکال متوازی الاضلاع ہین اور باہم برابر ہین
∴ وہ برابر قاعدون ب س و ی ف پر اور ایک ہی ∥ ب ف و ج ح
کے درمیان واقع ہین (ش ۳۶ م)

اور △ ا ب س نصف ہے ▱ س ج کا

اور △ د ی ف نصف ہے ▱ ی ح کا

∴ △ ا ب س = △ د ی ف (ح ۷)

ہب

مثالین

۱ — یہ ثابت کرو کہ اگر ایک خط مستقیم راس المثلث سے نکلکر اوسکی قاعدہ کی تنصیف کرے تو وہ مثلث کو دو مساوی جزون پر تقسیم کر دے گا

۲ — اگر شکل مذکور مین دونون مثلث ایک ہی جہت مین نہون تو ثابت کرو کہ جو خط مستقیم کہ رؤس المثلث کو وصل کرے وہ اوس خط سے تنصیف ہو جائیگا جس مین ان مثلثون کے قاعدے ہین

۳ — ا ب س مثلث متساوی الساقین کے اضلاع مساوی ا ب و ا س مین نقط د و ی ایسے فرض کیے کہ ب د = ا ی پس ثابت کرو کہ مثلث س ب د و ا ب ی بہم برابر ہین

شکل سی و نہم نظری

برابر مثلث جو ایک ہی قاعدے پر ایک ہی جانب مین ہون وہ درمیان ایک ہی خطوط متوازیہ کے ہوتے ہین

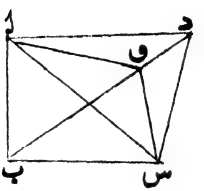

فرض کرو کہ برابر △ اب س و د ب س ایک ہی قاعدہ ب س پر ایک ہی جانب ہین مین

اد کو ملا دو

تو اد ا ا ب س ہوگا

اس واسطیکہ اگر ایسا نہین ہے تو ا و ا ا ب س کے کھینچو اس طرح سے کہ وہ ب د سے بغیر اخراج یا بعد الاخراج و پر ملجاے اور و س کو ملا دو

تو ∵ △ اب س و و ب س ایک ہی قاعدہ پر اور ایک ہی خطوط متوازیہ کے درمیان واقع ہین

∴ △ اب س = △ و ب س (ش ۳۷ م ۱)

لکن △ اب س = △ د ب س بموجب فرض کے

∴ △ و ب س = △ د ب س

یعنے چھوٹا = بڑے کے یہ غیر ممکن ہے

∴ ا و ا ا ب س نہین ہے

اسی طرح سے یہ بھی ثابت ہو سکتا ہے کہ سوا اد کے اور کوئی خط ا ا ب س نہین ہے

∴ اد ا ا ب س — ہب

مثالین

۱ — ا د متوازی ہے ب س کے اور ا س و ب د ی پر ملے ہین اور ب س کو ف تک خارج کیا اس طرح کہ مثلث ف ی ب برابر ہوگیا مثلث ا ب س کے تو ثابت کرو کہ ف د متوازی ہے ا س کے

۲ — اگر شکل ذو اربعۃ الاضلاع کے قطر اوسے چار مثلثون پر تقسیم کردین اور انمین سے دو مقابل کے مثلث باہم برابر ہون تو ثابت کرو کہ اوس شکل ذو اربعۃ الاضلاع کے دو مقابل کے ضلعے متوازی ہین

شکل چہلم نظری

مثلثات متساویہ جو برابر قاعدون پر ایک سیدہ ہین اور قاعدون کی ایک جہت مین ہون وہ ایک ہی خطوط متوازیہ کے درمیان واقع ہوتے ہین

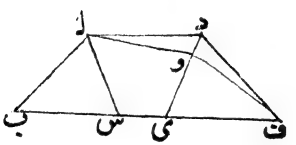

فرض کرو کہ △ ا ب س و د ی ف باہم برابر ہین اور برابر قاعدون ب س و ی ف پر ایک ہی خط مستقیم ب ف مین اور قاعدون کی ایک جہت مین واقع ہین

ا د کو ملا دو

تو ا د ا ا ب ف ہوگا

اسواسطے کہ اگر ایسا نہین ہے تو اسے ا د ا ا ب ف کھینچو اس طرح سے کہ

ی د سے بغیر اخراج یا بعد الاخراج و پر ملے اور د ف کو ملا دو

تو △ ا ب س = △ و ی ف ∴ وہ برابر قاعدون پر اور ایک ہی ا ا کے درمیان واقع ہین (ش ۳۸ م ۱)

لکن △ ا ب س = △ د ی ف بموجب فرض کے

∴ △ و ی ف = △ د ی ف

یعنے چھوٹا = بڑے کے یہ غیر ممکن ہے

∴ ا و ا ب ف نہین ہے

اسیطرح سے یہ بھی ثابت ہو سکتا ہے کہ سوا ا د کے اور کوئی خط مستقیم ب ف کا متوازی نہین ہو سکتا

∴ ا د ا ب ف ہے

ہب

مثالین

۱ — اگر اس شکل مین مثلث قاعدون کی ایک ہی جہت مین نہون تو ثابت کرو کہ جو خط مستقیم کہ اونکے راس کو وصل کریگا وہ اوس خط سے تنصیف ہو جائیگا جسمین قاعدے ہین

۲ — جو خط مستقیم کہ مثلث کے دو ضلعون کے نقاط تنصیف کو ملا دے وہ متوازی ہوگا قاعدہ مثلث کے

۳ — جو خطوط مستقیم کہ اضلاع مثلث کے نقاط وسط کو ملا دین وہ اوس مثلث کو چار مساوی مثلثون مین تقسیم کر دیتے ہین

شکل چہل و یکم نظری

اگر شکل متوازی الاضلاع اور مثلث ایک ہی قاعدہ پر اور ایک ہی خطوط متوازیہ کے درمیان واقع ہون تو شکل متوازی الاضلاع مثلث کی دوچند ہوگی

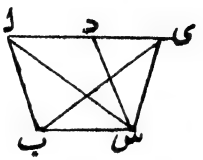

فرض کرو کہ ▱ ا ب س د اور △ ی ب س ایک ہی قاعدہ ب س پر اور ایک ہی خطوط متوازیہ ا ی و ب س کے درمیان واقع ہین

تو ▱ ا ب س د دوچند ہوگا △ ی ب س کا

اس کو ملا دو

تو △ ا ب س = △ ی ب س

∵ وہ ایک ہی قاعدہ پر اور ایک خطوط متوازیہ کے درمیان واقع ہین

(ش ۳۷ م ۱)

اور ▱ ا ب س د دوچند ہے △ ا ب س کا ∴ اس قطر ہی ا ب س د کا

(ش ۳۴ م ۱)

∴ ▱ ا ب س د دوچند ہے △ ی ب س کا — ہب

مثالین

۱ — اگر شکل متوازی الاضلاع کے باہر ایک نقطہ سے دو خطوط مستقیمہ اوسکے دو مقابل

کے ضلعون کے اطراف تک کھینچے جائین اور اگر یہ ضلعے خارج کیے جائین تو وہ نقطہ اونکے درمیان نہ واقع ہو تو جو مثلث کہ اسطرح سے پیدا ہون گو اونکا تفاوت نصف شکل متوازی الاضلاع کے برابر ہوگا

۲ — جو مثلث اس طرح سے پیدا ہون کہ شکل متوازی الاضلاع کے اندر ایک نقطے سے خطوط مستقیمہ اوسکے اضلاع مقابل کے اطراف تک کھینچے جائین وہ مثلث ملکر اوس شکل متوازی الاضلاع کے نصف ہون گے

شکل چہل و دوم عملی

ایسی شکل متوازی الاضلاع بناؤ کہ وہ مثلث معلوم کے برابر ہو اور اوسکا ایک زاویہ زاویہ معلومہ کے برابر ہو

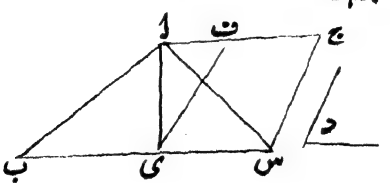

فرض کرو کہ ا ب س △ معلوم ہے اور د ∠ معلومہ ہے

مطلوب یہ ہے کہ ایک ▱ برابر △ ا ب س کے بناؤ جسکا زاویہ = ∠ د کے ہو ب س کو ی پر تنصیف کرو اور ا ی کو ملا دو

ی پر ∠ س ی ف = ∠ د کے بناؤ

ا ف ج متوازی ب س کے کھینچو اور س سے س ج متوازی ی ف کے کھینچو

تو ف ی س ج شکل متوازی الاضلاع ہے

کیونکہ △ ا ی ب = △ ا ی س

∵ وہ برابر قاعدون پر اور ایک ہی ∥ کے درمیان واقع ہین (س ۳۸ م ۱)

∴ △ ا ب س دو چند ہے △ ا ی س کا

لکن ▱ ف ی س ج دو چند ہے △ ا ی س کا

∵ وہ ایک ہی قاعدہ پر اور ایک ہی ∥ کے درمیان واقع ہین (ش ۴۱ م ۱)

∴ ▱ ف ی س ج = △ ا ب س (ح ۶)

اور ف ی س ج کا ایک زاویہ س ی ف = ∠ د

∴ ▱ ف ی س ج موافق مطلوب کے بنایا گیا۔ ہب

مثالین

۱ — ایسا مثلث بناؤ کہ وہ شکل متوازی الاضلاع معلوم کے برابر ہو اور اوسکا ایک زاویہ زاویہ معلومہ مستقیمہ الخطین کے برابر ہو

۲ — ایسی شکل متوازی الاضلاع بناؤ کہ وہ مثلث معلوم کے برابر ہو اور اوسکی اضلاع کا مجموع مجموع اضلاع مثلث کے برابر ہو

۳ — مثلث متساوی الساقین کا محیط اوس شکل متوازی الاضلاع قائم الزاویہ کے محیط سے بڑا ہوتا ہے جو مثلث معلوم کے برابر ہو اور اوسکا ارتفاع اوسکے ارتفاع کے برابر ہو

شکل چہل و سوم نظری

متممات اشکالِ متوازی الاضلاع جو کسی شکل متوازی الاضلاع کے گرد واقع ہون باہم برابر ہوتے ہین

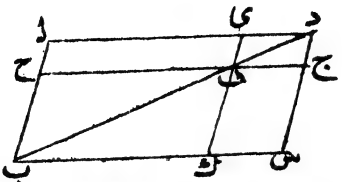

فرض کرو کہ اب س د ایک ▱ ہی اور ب د اوسکا قطر ہے اور ی ج و ح ك ▱ ہین گرد ب د کے یعنے ان مین سے ب د گذرتا ہے

اور ا ف و ف س اور ▱ ہین جنسے کل شکل ا ب س د تمام ہوتی ہے اور ∵ اونھین متمم کہتے ہین

تو متمم ا ف = متمم ف س کے ہے

کیونکہ ∵ ب د قطر ہے ▱ ا س کا

∴ △ ا ب د = △ س د ب (ش ۳۴ م ۱)

اور ∵ ب ف قطر ہے ▱ ح ك کا

∴ △ ح ب ف = △ ك ف ب

اور ∵ ف د قطر ہے ▱ ی ج کا

∴ △ ی ف د = △ ج د ف

لہذا مجموع △ ح ب ف و ی ف د = مجموع △ ك ف ب و ج د ف

یہ مثلثات متساویہ ہر ایک △ ا ب د و س د ب مین سے نکال ڈالو

تو باقی ▱ ا ف = باقی ▱ ف س — ہب (ح ۳)

مثالین

۱— اگر شکل متوازی الاضلاع ا ب س د کے اندر نقطہ و سے دو خط مستقیم اوسکے اضلاع کے متوازی کھینچے جائین اور ہر دو اشکال متوازی الاضلاع و ب و د برابر ہون تو نقطہ و قطر ا س مین واقع ہوگا

۲ — اب س د ایک شکل متوازی الاضلاع ہے اور ام ن ایک خط مستقیم اضلاع ب س س د سے (جنمین سے ایک خارج کیا گیا ہے) نقطہ م و ن پر ملتا ہے تو ثابت کرو کہ مثلث م ب ن برابر ہے مثلث م د س کے —

شکل چہل و چہارم عملی

خط مستقیم معلوم پر شکل متوازی الاضلاع مساوی مثلث معلوم کو بناؤ کہ اوسکے زاویون مین سے ایک زاویہ زاویہ معلومہ کے برابر ہو

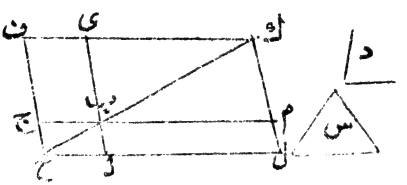

فرض کرو کہ اب خط مستقیم معلوم ہے اور △ س معلوم اور د ∠ معلومہ ہے

مطلوب یہ ہے کہ اب پر ایک ▱ = △ س کو بناؤ جسکا ایک زاویہ = ∠ د کے ہو

ایک ▱ = △ س کو بناؤ جسکا ایک زاویہ = ∠ د کے ہو (ش ۴۲ م ۱)

اور فرض کرو کہ اس شکل متوازی الاضلاع کو اتنے مقام پر اوٹھا کے رکھدیا کہ اوسکے ضلعون مین سے ایک ضلع جسمین یہ زاویہ مصنوعہ ہو ایک ہی خط مستقیم اب مین رہا اور اس ▱ کا نام ب ی ف ج رکھا

ف ج کو ح تک خارج کرو اور ا ح ∥ ب ج یا ی ف کے کھینچو اور ب ح کو ملاؤ

تو ب ح و ا ح و ی ف خطوط ∥ سے ملتا ہے

∴ مجموع ∠ ا ح ف و ح ف ی = دو قائمون کے

∴ مجموع ∠ ب ح ج و ح ف ی کم ہے دو قائمون سے

∴ اگر ح ب و ف ی ب ی کیطرف خارج کیے جائین تو وہ باہم ملجائین گے (عد ۱۶)

فرض کرو کہ وہ نقطہ ك پر ملے

ك مین سے ك ل ا ا ی ا یا ف ح کے کھینچو

اور ح ا و ج ب کو خارج کرو کہ وہ ك ل سے نقاط ل و م پر ملجائین

تو ح ف ك ل ایک ▱ ہے اور ح ك اوسکا قطر ہے

اور ا ج و م ی ▱ ہین گرد ح ك کے

∴ متمم ب ل = متمم ب ف

∴ ▱ ب ل = △ س

ونیز ▱ ب ل کا ایک زاویہ ا ب م = ∠ ی ب ج

∴ = ∠ د - ہب

شکل چہل و پنجم عملی

ایک شکل متوازی الاضلاع مساوی شکل مستقیم الاضلاع معلوم کے بناؤ جسکا ایک زاویہ زاویہ معلومہ کے برابر ہو

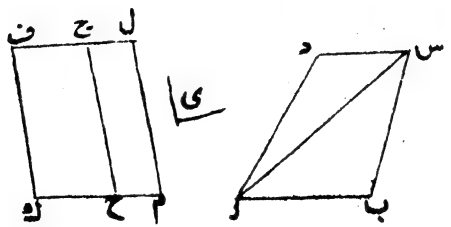

فرض کرو کہ اب س دو شکل مستقیم الاضلاع معلوم ہے اور ی زاویہ معلومہ ہے
اس کو ملا دو

مطلوب یہ ہے کہ ایک ▱ = اب س د کے بناؤ جسکا ایک زاویہ = ∠ ی کے ہو

▱ ف ج ح ك = △ اب س بناؤ جسکا ∠ ف ك ح = ∠ ی کے ہو

(ش ۴۲ م)

ج ح پر ▱ ج ح م ل = △ س د ل کے بناؤ جسکا ∠ ج ح م = ∠ ی کے ہو (ش ۴۴ م ۱)

تو ف ك م ل ▱ مطلوب ہے

کیونکہ ∵ ∠ ج ح م اور ∠ ف ك ح ہر ایک = ∠ ی

∴ ∠ ج ح م = ∠ ف ك ح

∴ مجموع ∠ ج ح م و ج ح ك = مجموع ∠ ف ك ح و ج ح ك

= دو قائمونکے (ش ۲۹ م ۱)

∴ ك ح م ایک خط مستقیم ہے (ش ۱۴ م ۱)

پھر ∵ ح ك خطوط ∥ ف ج و ك م سے ملتا ہے

∠ ف ج ح = ∠ ج ح م

∴ مجموع △ ف ج ح و ل ج ح = مجموع ∠ ج ح م و ل ج ح

= دو قائمونکے (ش ۲۹ م ۱)

∴ ف ج ل ایک خط مستقیم ہے (ش ۱۴ م ۱)

پس ∵ ك ف ∥ ح ج

اور ح ج ∥ ل م (ش ۳۰ م ۱)

∴ ك ف ∥ ل م

اور یہ ثابت ہو چکا ہے کہ ک م ا ف ل

∴ ف ک ل م شکل متوازی الاضلاع ہے

اور ∴ ف ح = △ ا ب س اور ج م = △ س د ا

∴ ▱ ف م = کل شکل مستقیم الاضلاع ا ب س د

اور ▱ ف م کا ایک ∠ ف ک م = ∠ ی

اسی طرح سے ایک ▱ مساوی شکل مستقیم الاضلاع معلوم کے جسکے کتنے ہی ضلع ہون بن سکتی ہے اور اوسکا ایک زاویہ برابر زاویہ معلومہ کے ہو سکتا ہے

ہب

متفرق مثالین

۱ — اگر شکل ذو اربعۃ الاضلاع کا ایک قطر دوسرے قطر کی تنصیف کرے تو شکل مذکور دو مساوی مثلثون مین تقسیم ہو جائے گی

۲ — اگر شکل متوازی الاضلاع کے قطر مین کسی نقطہ سے بدون اخراج یا بعد الاخراج خطوط مستقیمہ زوایای مقابل تک کھینچے جائین تو وہ مساوی مثلث قطع کرین گے

۳ — شکل منحرف مین جو خط مستقیم کہ اوسکے اضلاع متوازیہ کے نقاط وسط کو وصل کرتا ہے وہ منحرف مذکور کی تنصیف کرتا ہے

۴ — شکل متوازی الاضلاع کے قطر ا ی و ب د نقطہ ف پر متقاطع ہین اور نقطہ ف مثلث ا د ب کے اندر واقع ہے تو ثابت کرو کہ مثلث ا ف ب و س ف د کا تفاوت برابر ہے مجموع مثلث ا ف س و ب ف د کے

۵ — اگر شکل متوازی الاضلاع کے دو قطرون مین سے ایک قطر اوسکے ایک ضلع کے برابر ہو تو دوسرا قطر بڑا ہوگا اوسکے ہر ایک ضلع سے

۶ — اگر شکل متوازی الاضلاع کے زاویون سے چار خطوط مستقیمہ متوازی اوسکے

قطرون کے کھینچے جائین تو ایک اور شکل متوازی الاضلاع بنجائیگی جسکا رقبہ پہلے شکل متوازی الاضلاع کا دوچند ہوگا

۷ — اگر دو مثلثون کے دو ضلعے برابر ہون ہر ایک اپنے نظیر کے اور اونکے درمیانی زاویے بھی برابر ہون تو وہ مثلث باہم برابر ہون گے

۸ — مثلث معلوم کی تنصیف ایک خط مستقیم سے کرو جو اوسکے ایک ضلع مین نقطہ معلومہ سے کھینچا جائے

۹ — اگر مثلث اب س کا واحد نقطہ د تک اس طرح خارج کیا جائے کہ ب د برابر اب کے ہو اور خطوط مستقیمہ اسے د اور ی تک جو ب س کا نقطہ وسط ہے کھینچے جائین تو ثابت کرو کہ مثلث ا د ی برابر ہے مثلث اب س کے

۱۰ — یہ ثابت کرو کہ جو اشکال متوازی الاضلاع کہ کسی شکل متوازی الاضلاع کے قطر کے گرد ہون اونکے دو قطر باہم متوازی ہوتے ہین

شکل چہل و ششم عملی

خط مستقیم معلوم پر مربع بناؤ

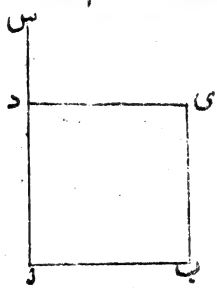

فرض کرو کہ اب خط مستقیم معلوم ہے

مطلوب یہ ہے کہ اب پر ایک مربع بناؤ

آ سے اس اب پر عمود کھینچو

اس مین سے اد = اب قطع کرلو

د سے د ی ∥ اب کھینچو

ب سے ب ی ∥ اد کھینچو

تو ا ی شکل متوازی الاضلاع ہے

اور ∵ اب = ی د اور اد = ب ی

لکن اب = اد

∴ اب ب ی ی د د ا سب آپسمین برابر ہین

∴ ا ی متساوی الاضلاع ہے

اور ∠ ب ا د قائمہ ہے

∴ ا ی مربع ہے (ح ۲۶)

اور یہ اب پر بنا ہے — ہب

مثالین

۱ — ایک[1] شکل متوازی الاضلاع قائم الزاویہ ایسی بناؤ جسکے ضلع دو خطوط مستقیمہ معلومہ کے برابر ہون

۲ — یہ ثابت کرو کہ جو مربعات خطوطِ مستقیمہ متساویہ پر ہون وہ باہم برابر ہون گے

۳ — یہ ثابت کرو کہ مربعات متساویہ خطوطِ مستقیمہ متساویہ پر ہوتے ہین —

[1] واضح ہو کہ مثال ۲ و ۳ کہ اشکال نظریہ ہین انھین اقلیدس نے شکل ۴۸ کے ثبوت مین مسلم کرلیا ہے ش الف م ۲ بھی ملاحظہ طلب ہے ۱۲ منہ

شکل چہل و ہفتم نظری

مثلث قائم الزاویہ کے وتر قائمہ پر جو مربع بنایا جاے وہ برابر ہوتا ہے اون مربعون کے جو اون اضلاع پر ہون جنکے درمیان زاویہ قائمہ ہے

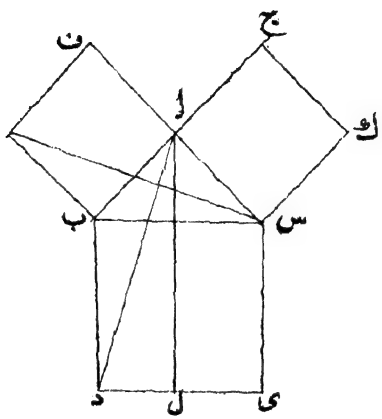

فرض کرو کہ اب س مثلث قائم الزاویہ ہے اور اوسمین ب ا س زاویہ قائمہ ہے

تو ب س کا مربع = مجموع مربع ب ا و ا س

ب س س ا ا ب پر مربعات ب د ی س س ك ج ا ج ف ب بناؤ

اسے ا ل ا ب د یا س ی کھینچو اور ا د ف س کو ملادو

تو اب ∵ ∠ ب ا س و ∠ ب ا ج دونون قائمے ہین

∴ س ا ج ایک خط مستقیم ہے ش ۱۴ م ۱

اور ∵ ∠ ب ا س و ∠ س ا ح دونون قائمے ہین

∴ ب ا ح ایک خط مستقیم ہے (ش ۱۴ م ۱)

تو اب ∵ ∠ د ب س = ∠ ف ب ا کیونکہ انمین سے ہر ایک قائمہ ہے

انمین سے ہر ایک پر ∠ اب س زیادہ کردو

∴ ∠ اب د = ∠ ف ب س

تو △ اب د و ف ب س مین

∵ اب = ف ب اور ب د = ب س اور ∠ اب د = ∠ ف ب س

∴ △ اب د = △ ف ب س (ش ۴ م ۱)

اب دیکھیے کہ ▱ ب ل دوچند ہے △ اب د کا کیونکہ وہ ایک ہی قاعدہ ب د پر اور ایک ہی خطوط متوازیہ ا ل ب د کے درمیان واقع ہین (ش ۴۱ م ۱)

اور مربع ب ج دوچند ہے △ ف ب س کا کیونکہ یہ بھی ایک ہی قاعدہ ف ب پر اور ایک خطوط متوازیہ ف ب ج س کے درمیان واقع ہین (ش ۴۱ م ۱)

∴ ▱ ب ل = مربع ب ج

اسی طرح سے ا ی ب ك کے ملا دینے سے یہ ثابت ہو سکتا ہے کہ

▱ س ل = مربع ا ك

تو اب مربع ب س کا = مجموع ▱ ب ل و ▱ س ل

= مجموع مربع ب ج و مربع ا ك

= مجموع مربعین ب ا و ا س — ہب

مثالین

۱ — ثابت کرو کہ جو مربع کہ مربع معلوم کے قطر پر بنایا جائے وہ برابر ہوتا ہے دوچند مربع معلوم کے

۲ — ایسا خط بتلاؤ جسکا مربع برابر ہو مجموع مربعات کے جو تین خطوط مستقیمہ

معلومہ پر بنائے جائین

۳ — اگر مثلث کا ایک زاویہ اور دو زاویون کے مجموع کی برابر ہو اور اوس کا ایک ضلع جو اس زاویہ کو محیط ہے چار اجزاء متساویہ مین تقسیم کیا جائے تو دوسرا ضلع ان اجزاء متساویہ مین سے تین جزؤن کو محیط ہوگا اور باقی ضلع اوس مثلث کا ایسے پانچ جزؤن کو محیط ہوگا

۴ — مثلث[1] اب س و دی ف مین زاویہ اس ب و دف ی قائمہ ہین اور اضلاع اب اس اضلاع دی دف کے برابر ہین ہر ایک اپنی نظیر کے تو ثابت کرو کہ یہ مثلث بہمہ وجوہ برابر ہین

۵ — خط مستقیم معلوم کو دو جزؤن مین اس طرح تقسیم کرو کہ ایک جزء کا مربع دوچند ہو دوسرے جزء کے مربع کے

۶ — اگر مثلث قائم الزاویہ کے حاوتین مین سے ایک حادہ سے ایک خط ضلع مقابل تک کھینچا جائے تو اس ضلع کا مربع اور اس خط کا مربع ملکر برابر ہون گے مجموع اون مربعات کے جو زاویہ قائمہ کے متصل قطعہ پر اور وتر قائمہ پر ہون

۷ — اگر مثلث کے راس الزاویہ سے اوسکے قاعدے پر عمود کھینچا جائے تو ضلعون پر کے مربعون کا تفاوت برابر ہوگا اون مربعات کے تفاوت کے جو قطعات قاعدہ پر ہین

[1] یہ شکل نظری شکل ی کا نتیجہ صریح ہے اور اوس سے مستنبط ہو چکی ہے ۱۲ منہ

شکل چہل و ہشتم نظری

اگر مثلث کے ایک ضلع کا مربع برابر ہو اوسکے اور دو ضلعون کے مربعون کو تو ان ضلعون کا زاویہ درمیانی زاویہ قائمہ ہوگا

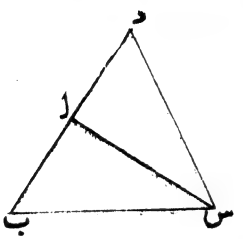

فرض کرو کہ △ اب س کے ایک ضلع ب س کا مربع برابر ہے مجموع مربعین ا ب و ا س کے

تو ∠ ب ا س زاویہ قائمہ ہوگا

نقطہ ا سے ا د عمود ا س پر کھینچو

ا د = ا ب کے کرلو اور د س کو ملا دو

تو ∵ ا د = ا ب

∴ مربع ا د = مربع ا ب (ش ۴۶ مثال ۲ م ۱)

ان مین سے ہر ایک پر مربع ا س زیادہ کرو

تو مجموع مربعین ا د و ا س = مجموع مربعین ا ب و ا س

لکن مربع د س کا = مجموع مربعین ا د و ا س (ش ۴۷ م ۱)

مربع ب س = مربعین ا ب و ا س بموجب فرض کے

∴ مربع د س کا = مربع ب س

∴ د س = ب س (ش ۴۶ مثال ۱۴۳)

تو اب △ اب س اد س مین

∵ اب = اد اور اس مشترک ہے اور ب س = د س

∴ ∠ ب اس = ∠ د اس (شکل ش ۱۲)

اور ∠ د اس زاویہ قائمہ ہے بموجب عمل کے

∴ ∠ ب اس زاویہ قائمہ ہے — ہب

تمّت

تمام شد مقالہ اوّل

مقالہ دوم

مقدمہ

واضح ہو کہ اس مقالہ مین اشکال ہندسیہ مین سے خاص کر کے شکل متوازی الاضلاع قائم الزاویہ سے بحث کی ہے۔ شکل متوازی الاضلاع قائم الزاویہ کو کہتے ہین کہ وہ اپنے دو متصل ضلعون سے محاط ہے یعنے گھرے ہے

مثلاً اگر اب س د شکل متوازی الاضلاع قائم الزاویہ ہے تو کہتے ہین کہ وہ اب و اد سے یا اور دو متصل ضلعون سے گھری ہے

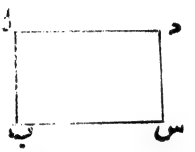

ہم شکل متوازی الاضلاع قائم الزاویہ کا مخفف لکھ اب اد لکھین گے اور اس سے ہماری مراد یہ ہوگی کہ شکل متوازی الاضلاع قائم الزاویہ جو اب و اد سے گھری ہے

یہ شکل نظری جسے ہم ذیل مین ثابت کرتے ہین اقلیدس نے استعمال کی ہے لکن ثابت نہین کیا ہم اس سے اکثر استدلال کرینگے

شکل الف نظری

اگر ایک شکل متوازی الاضلاع قائم الزاویہ کے متصل ضلعی برابر ہون دوسری کے متصل ضلعون کے ہر ایک اپنی نظیر کے تو اون دونون کا رقبہ برابر ہوگا

فرض کرو کہ اب س د اور ی ف ج ح دو متوازی الاضلاع قائمۃ الزاویہ ہین

اور فرض کرو کہ اب = ی ف اور ب س = ف ج

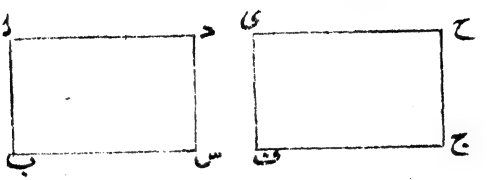

تو لع اب س د = لع ی ف ج ح ہے

اسواسطے کہ اگر لع ی ف ج ح لع اب س د پر اس طرح رکھدیا جاے کہ

ی ف اب پر منطبق ہوجاے

تو ف ج ب س پر واقع ہوگا ∵ ی ف ج = ∠ اب س

اور ج س پر منطبق ہوجائیگا ∵ ب س = ف ج

اسی طرح سے یہ ثابت ہوسکتا ہے کہ ح د پر منطبق ہوگا

∴ لع ی ف ج ح لع اب س د پر منطبق ہوگا

∴ اوسکے برابر ہوگا — ہب

شکل اوّل نظری

اگر دو خطوط مستقیمہ مین سے ایک خط کئی جزون پر منقسم ہو تو سطح[1] اون دو خطوط مستقیمہ کی برابر ہوگی اون سب سطحون کے جو خط غیر منقسم اور خط منقسم کے ہر جزو سے بنتی ہے

[1] شکل متوازی الاضلاع قائم الزاویہ کو اصطلاح اہل ہندسہ مین سطح بھی کہتے ہین یہ تغایر لفظی موجب تشویش و اشتباہ نہو ۱۲

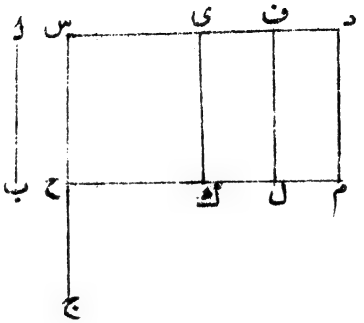

فرض کرو کہ اب و س د دو خط مستقیم ہین

اور س د کو کئی جزون مین ی اور ف پر تقسیم کیا

تو لع اب س د = مجموع لع اب س ی اور لع اب ی ف اور لع اب ف د

س سے س ج س د پر عمود کھینچو اور س ج مین سے س ح = اب کے قطع کرلو

ح سے ح م ا ا س د کھینچو (ش ا ۳ م ا)

ی و ف و د سے ی ك و ف ل و د م ا ا س ح کھینچو

تو س م = مجموع س ك و ی ل و ف م

اور س م = لع اب س د ∵ س ح = اب

س ك = لع اب س ی ∵ س ح = اب

ی ل = لع اب ی ف ∵ ی ك = اب

ف م = لع اب ف د ∵ ف ل = اب

∴ لع اب س د = مجموع لع اب س ی اور لع اب ی ف اور لع اب ف د

ہب

مثال اگر دو خطوط مستقیمہ مین سے ہر ایک خط کئی جزؤن مین منقسم ہو تو سطح ان دو خطون کی برابر ہوگی اون سطوح کے جو تمام اجزا خط اول اور کل اجزا خط ثانی سے فرداً فرداً حاصل ہون

شکل دوم نظری

اگر ایک خط مستقیم دو جزون مین منقسم ہو تو وہ سطحین جو کل خط اور اوسکے ہر جزء سے بنی ہین برابر ہون گے کل خط کے مربع کے

فرض کرو کہ اب خط مستقیم س پر دو جزون مین تقسیم کیا گیا

تو مربع اب کا = مجموع لع اب اس اور لع اب س ب

اب پر مربع ا د ی ب بناؤ (ش ۴۶ م ۱)

س سے س ت ا ا ب د کھینچو (ش ۳۱ م ۱)

تو ا ی = مجموع ا ف و س ی

اور ا ی مربع ہے اب کا

ا ف = لع اب اس ، ا د = اب

س ی = لع اب س ب ، ب ی = اب

∴ مربع اب کا = مجموع لع اب اس اور لع اب س ب - ہب

مثال ہر خط مستقیم کا مربع چوگنا ہوتا ہے اوسکے نصف کے مربع کے

شکل سوم نظری

اگر ایک خط مستقیم دو جزون مین تقسیم کیا جاے تو سطح کل خط اور اوسکے ایک جزء کی برابر ہونگی اوس سطح کے جو اون دونون جزون سے حاصل ہو مع مربع جزء مذکور کے

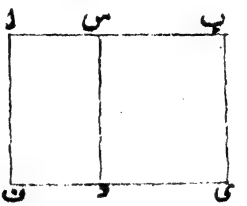

فرض کرو کہ اب خط مستقیم س پر دو جزون مین تقسیم کیا گیا

تو لع اب س ب = مجموع لع اس س ب و مربع س ب

س ب پر مربع س د ی ب بناؤ (ش ۴۶ ا ۱)

اسے اف اس د کھینچو جو ی د سے بعد الاخراج ف پر ملے

تو ا ی = مجموع اد و س ی

اور ا ی = لع اب س ب ∴ ب ی = س ب

اد = لع اس س ب ∴ س د = س ب

س ی = مربع س ب

∴ لع اب س ب = مجموع لع اس س ب و مربع س ب — ہب

تنبیہ

جب کوئی خط مستقیم ایک نقطہ پر قطع ہوتا ہے تو نقطہ تقاطع اور اطراف خط مذکور کے درمیان جو ابعاد ہین اونھین اوس خط کے **قطعات** کہتے ہین مثلاً — اگر خط اب نقطہ س پر تقسیم کیا جاے تو اس اور س ب قطعات

داخلہ اب کے کھلائین گے

اور اگر خط اس ب تک خارج کیا جاے تو اب و س ب قطعات خارجہ اس کے کھلائین گے

شکل چہارم نظری

اگر ایک خط مستقیم دو جزون مین تقسیم کیا جائے تو کل خط کا مربع برابر ہوگا دونون جزون کے مربعون کے مع دو چند اوس سطح کے جو اون جزون سے حاصل ہو

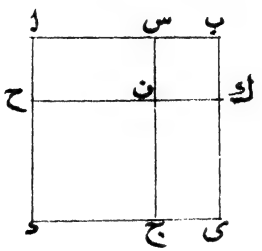

فرض کرو کہ اب خط مستقیم س پر دو جزون مین تقسیم کیا گیا

تو مربع اب کا = مجموع مربعین اس و س ب اور دو چند لع اس س ب

اب پر مربع ا د ی ب بناؤ (ش ۴۶ م ۱)

اد مین سے اح = س ب قطع کرلو تو ح د = اس

س ج ااا ا د کھینچو اور ح ك ااا اب جو س ج سے ف پر ملے

تو ∵ ب ك = اح ∴ ب ك = س ب

∵ ب ك ك ف ف س س ب سب برابر ہین اور ك ب س زاویہ قائمہ ہے

∴ س ك س ب پر مربع ہے (ح ۳۰)

ونیز ح ج = مربع اس ∴ ح ف و ح د ہر ایک = اس

اور ز ی = مجموع ح ج و س ك و ف ی

اور ا ی = مربع ا ب
ح ج = مربع ا س
س ك = مربع س ب

ف ف = لع ا س س ب ∴ س ف = س ب
ف ی = لع ا س س ب ∴ ف ج = ا س اور ف ك = س ب

∴ ز ی ا ب کا = مجموع مربعین ا س و س ب مع دو چند لع ا س س ب

ہب

مثال ایک مثلث کا راس الزاویہ قائمہ ہے اوسکے اندر ایک خط مستقیم راس الزاویہ سے قاعدہ پر عمود کھینچا تو ثابت کرو کہ قطعات قاعدہ کی سطحین برابر ہین عمود کے مربع کے

شکل پنجم نظری

اگر ایک خط مستقیم دو مساوی اور دو غیر متساوی جزون مین تقسیم کیا جاے تو اجزا غیر متساویہ کی سطح مع اوس خط کے مربع کے جو نقاط تقطیع کے درمیان مین ہے برابر ہوگی نصف خط مذکور کے مربع کے

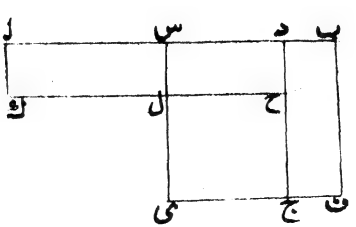

فرض کرو کہ اب خط مستقیم س پر اجزاء متساویہ اور د پر اجزاء غیر متساویہ مین تقسیم کیا گیا

تو لع ا د د ب مع مربع س د کے = مربع س ب

س ب پر مربع س ی ف ب بناؤ (ش ۴۶ م ۱)

د ج ا ا س ی کھینچو اور د ج مین سے د ح = د ب قطع کرلو

ح ل ك ا ا د کھینچو اور ا ك ا ا د ح

تو لع د ف = لع ا ل ∵ ب ف = ا س اور ب د = س ل

ونیز ل ج = مربع س د ∵ ل ح = س د اور ح ج = س د

تو لع ا د د ب مع مربع س د

= ا ح مع ل ج

= مجموع ا ل و س ح و ل ج

= مجموع د ف و س ح و ل ج

= س ف

= مربع س ب — ہب

شکل ششم نظری

اگر ایک خط مستقیم کی تنصیف کی جاے اور وہ کسی نقطے تک خارج کیا جاے تو ہو سطح کہ کل خط مخرج اور اوسکے جزء مخرج سے گھری ہے وہ مع مربع نصف خط منصف کے برابر ہوگی اوس خط مستقیم کے مربع کے جو اوس نصف اور جزء مخرج سے مرکب ہے

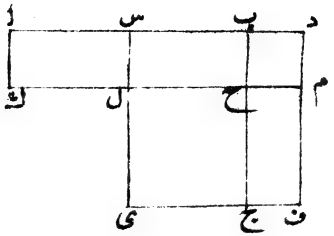

فرض کرو کہ اب خط مستقیم س پر تنصیف کیا گیا اور د تک خارج کیا گیا

تو لع اد دب مع مربع س ب کے = مربع س د ہے

س د پر مربع س ی ف د بناؤ (ش ۴۶ م ۱)

ب ج اا س ی کھینچو اور اوسمین سے ب ح = ب د قطع کرلو

ح مین سے ك ل م اا د کھینچو

ا مین سے اك اا س ی کھینچو

تو اب ∵ ب ج = س د اور ب ح = ب د

∴ ح ج = س ب (قضیہ ۳)

∴ لع م ج = لع ا ل (شکل الف م ۲)

تو لع اد دب مع مربع س ب کے

= مجموع ا م و ل ج

= مجموع ا ل و س م و ل ج

= مجموع م ج و س م و ل ج

= س ف

= مربع س د —— ہب

تنبیہ

اس مقام پر ہم ایک ضروری شکل نظری کو ثابت کرتے ہین اس شکل کو اکثر بمنزلہ نتیجہ صریح ش ۵ کے لکھتے ہین

شکل ب نظری

دو خطوط مستقیمہ کے مربعون کا تفاوت برابر ہے اوس سطح کے جو اون خطوط کے مجموع اور اونکے تفاوت سے حاصل ہو

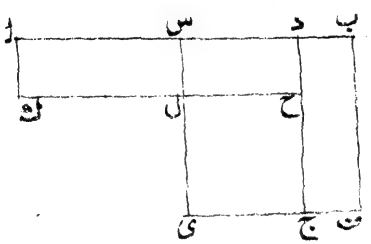

فرض کرو کہ اس وس د دو خط مستقیم ہین انمین سے اس بڑا ہے اور فرض کرو کہ یہ دونون خط اس طرح واقع ہوے ہین کہ انسے ایک خط مستقیم اد بنگیا ہے

اد کو ب تک خارج کرو اور س ب کو = اس کر لو

تو اد = مجموع خطوط اس وس د

اور ب د = تفاوت خطوط اس وس د

تو تفاوت مربعین اس وس د کا = لع اد د ب ہوگا

س ب پر مربع س ی ف ب بناؤ

دج ∥ س ی کھینچو اور اوس مین سے د ح = د ب قطع کرو

ح ل ك ∥ ا د کھینچو اور ا ك ∥ د ح

تو ل ع د ف = ل ع ا ل ۔ ب ف = ا س اور ب د = س ل

ونیز ل ج = مربع س د ۔ ل ح = س د اور ح ج = س د

تو مربعین ا س و س د کا تفاوت

= تفاوت مربعین س ب و س د

= مجموع س ح و د ف

= مجموع س ح و ا ل

= ا ح

= ل ع ا د د ح

= ل ع ا د د ب — ہب

مثال — ثابت کرو کہ ش ۵ و ش ۱۶ اس شکل سے مستنبط ہو سکتی ہین

شکل ہفتم نظری

اگر ایک خط مستقیم دو جزون مین تقسیم کیا جاے تو کل خط اور ایک جزو کے مربعے برابر ہین دو چند اوس سطح کے جو کل خط اور اوس جزو سے گھری ہو مع دوسرے جزو کے مربع کے

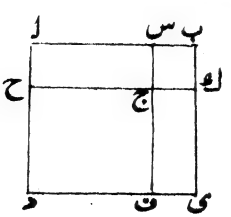

فرض کرو کہ اب خط مستقیم س پر دو جزون مین تقسیم کیا گیا

تو مربع مجموع اب و ب س = دو چند مع اب ب س مع مربع اس

اب پر مربع ا د ی ب بناؤ (ش ۴۶ م ۱)

ا د سے ا ح = س ب قطع کرلو

س ف ‖ ا د اور ح ج ك ‖ اب کھینچو

تو ح ف = مربع اس و س ك = مربع س ب

تو مربع مجموع اب و ب س = مجموع ا ی و س ك

= مجموع ا ك و ح ف و ج ی و س ك

= مجموع ا ك و ح ف و س ی

اب ا ك = مع اب ب س

س ی = مع اب ب س ب ی = اب

ح ف = مربع اس

∴ مربع مجموع اب و ب س = دو چند مع اب ب س مع مربع اس —

ہب

مثال — اگر خطوط مستقیم ج سے ب تک اور ج سے د تک کھینچے جائین تو ثابت کرو کہ ب ج د ایک خط مستقیم ہے

شکل ہشتم نظری

اگر ایک خط مستقیم دو جزون مین تقسیم کیا جائے تو چہار چند سطح کل خط اور ایک جزو کے مع دوسرے جزو کے مربع کے برابر ہے اوس خط کے مربع کے جو کل خط مذکور اور پہلے جزو سے مرکب ہے

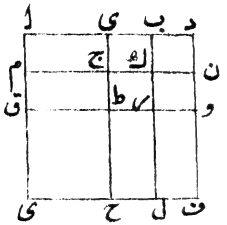

فرض کرو کہ اب خط مستقیم س پر دو جزون مین تقسیم کیا گیا

اب کو د تک خارج کرو اسطرح سے کہ ب د = ب س

تو چار چند لع اب ب س مع مربع اس کے = مربع اد ہوگا

اد پر مربع ا ی ف د بناؤ (ش ۴۶ م ۱)

ا ی سے ام و م ق ہر ایک = س ب قطع کرلو

س و ب سے س ح و ب ل ا ا ی کھینچو

م و ق سے م ج ك ن و ق ط ر و ا ا د کھینچو

تو اب ∵ ق ی = اس اور ق ط = اس ∴ ق ح = مربع اس

ونیز لج = م ط = طا ل = ر ف (شکل الف م ۲)

اور س ك = ج ر = ب ن = ك و (شکل الف م ۲)

∴ مجموع ان آٹھ سطحون کا

= چہار چند مجموع لع اج س ك

= چہار چند ا ك

= چہار چند لع اب ب س

تو چہار چند لع اب ب س اور مربع اس

= مجموع ان آٹھ سطحون اور ق ح

= ای ف د

= مربع اد - ہب

شکل نہم نظری

اگر ایک خط مستقیم دو مساوی اور دو غیر متساوی جزؤن مین تقسیم کیا جاے تو دو غیر متساوی جزؤن کے مربعے ملکر دو چند ہوتے ہین نصف خط کے مربع کے اور اوس خط کے مربع کے جو درمیان نقاط تقطیع کے ہے

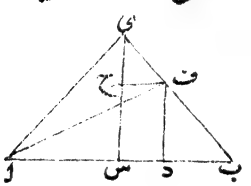

فرض کرو کہ اب خط مستقیم س پر اجزاء متساویہ مین اور د پر اجزاء غیر متساویہ مین تقسیم کیا گیا

تو مجموع مربعین اد و دب کا = دو چند مجموع مربعین اس و س د ہوگا

س ی = اس اب پر عمود کھینچو اور ی ا و ی ب کو ملا دو

د ف اب پر عمود کھینچو کہ وہ ی ب سے ف پر ملے

ف ج ی س پر عمود کھینچو اور ا ف کو ملا دو

تو ∵ ∠ اس ی ایک قائمہ ہے (ش ۳۲ م ۱)

∴ مجموع ∠ ای س و ∠ ی اس = ایک قائمہ

اور ∵ ∠ ای س = ∠ ی اس (شکل الف م ۱)

∴ ∠ ای س = نصف قائمہ

اسی طرح سے ∠ ب ی س و ∠ ی ب س ہر ایک = نصف قائمہ

لہذا ∠ ا ی ف ایک قائمہ ہے

ونیز ∵ ∠ ج ی ف نصف قائمہ ہے اور ∠ ی ج ف ایک قائمہ ہے

∴ ∠ ی ف ج نصف قائمہ ہے ∴ ی ج = ج ف (نتیجہ صریح ش ۳۲ ا)

اسی طرح سے ∠ ب ف د نصف قائمہ ہے اور ب د = د ف

تو اب مجموع مربعین ا د و د ب

= مربع ا د مع مربع د ف

= مربع ا ف

= مربع ا ی مع مربع ی ف

= مربعین ا س و ی س مع مربعین ی ج و ج ف (ش ۴۷ ا)

= دوچند مربع ا س مع دوچند مربع ج ف

= دوچند مربع ا س مع دوچند مربع س د — ہب

مثال — اگر ایک مثلث ب ا س مین ایک خط مستقیم ا د اس طرح کھینچا جاے کہ وہ ب س کو د پر تنصیف کرے تو یہ ثابت کرو کہ مجموع مربعین ا ب و ا س کا برابر ہے دوچند مجموع مربعین ا د و ب د کے

شکل دہم فطری

اگر ایک خط مستقیم تنصیف کیا جاے اور کسی نقطہ تک خارج کیا جاے تو مربع کل خط مخرج کا مع مربع جزء مخرج کے دوچند ہوتا ہے مربع نصف خط منصف کا اور اوس خط کے مربع کا جو اس نصف اور جزء مخرج سے مرکب ہے

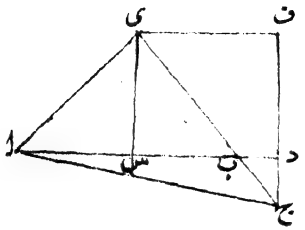

فرض کرو کہ اب خط مستقیم س پر تنصیف کیا گیا اور د تک خارج کیا گیا
تو مجموع مربعین ا د و ب د کا = دو چند مجموع مربعین ا س و س د ہوگا
اب پر س ی عمود کھینچو اور س ی کو = اس کر لو
ی ا و ی ب کو ملا دو اور ی ف ∥ ا د اور د ف ∥ اس ی کھینچو
تو ∵ ∠ ف ی ب و ی ف د ملکر دو قائموں سے کم ہیں
∴ اگر ی ب و ف د ب د کیطرف خارج کئے جائیں تو وہ کسی نقطہ ج پر ملجائینگے
ا ج کو ملا دو
تو ∵ ∠ ا س ی قائمہ ہے
∴ ∠ ی ا س و ا ی س ملکر = ایک قائمہ
اور ∵ ∠ ی ا س = ∠ ا ی س (شکل الف م ۱)
∴ ∠ ا ی س = نصف قائمہ
اسی طرح سے ∠ ب ی س = نصف قائمہ
لہذا ∠ د ب ج جو = ∠ ی ب س کو ہے نصف قائمہ ہے
∴ ∠ ب ج د نصف قائمہ ہے
∴ ب د = د ج

پھر ∵ ∠ ف ج ی = نصف قائمہ اور ∠ ی ف ج قائمہ ہے

∴ ∠ ف ی ج = نصف قائمہ اور ی ف = ف ج

∴ مجموع مربعین ا د و د ب

= مجموع مربعین ا د و د ج

= مربع ا ج (ش ۴۷ م ۱)

= مربع ا ی مع مربع ی ج

= مربعین ا س و ی س مع مربعین ی ف و ف ج (ش ۴۷ م ۱)

= دو چند مربع ا س مع دو چند مربع ی ف

= دو چند مربع ا س مع دو چند مربع س د — ہب

شکل یازدہم عملی

خط مستقیم معلوم کو ایسے دو جزوں میں تقسیم کرو کہ سطح کل خط اور ایک جزو کی برابر ہو دوسرے جزو کے مربع کے

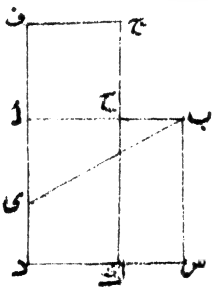

فرض کرو کہ ا ب خط مستقیم معلوم ہے

ا ب پر مربع ا د س ب بناؤ (ش ۴۶ م ۱)

ا د کو ی پر تنصیف کرو اور ی ب کو ملا دو

د ا کو ف تک خارج کرو اور ی ف کو = ی ب کر لو

ا ف پر مربع ا ف ج ح بناؤ

تو ا ب ح پر اس طرح تقسیم ہو گیا کہ لع ا ب ب ح = مربع ا ح

ج ح کو ك تک خارج کرو

تو ∵ د ا ی پر منصف ہوا ہے اور ف تک خارج کیا گیا ہے

∴ لع د ف ف ا مع مربع ا ی

= مربع ی ف (ش ۲ م ۶)

= مربع ی ب ∴ ی ب = ی ف

= مجموع مربعین ا ب و ا ی (ش ۴۷ م ۱)

انمین ہر ایک سے مربع ا ی نکال ڈالو

تو لع د ف ف ا = مربع ا ب

لکن ف ك = لع د ف ف ا ∵ ف ج = ف ا

∴ ف ك = ا س

ہر ایک مین سے ا ك جزء مشترک نکال ڈالو

تو ف ح = ح س

یعنی مربع ا ح = لع ا ب ب ح ∴ ب س = ا ب

پس ا ب ح پر موافق مطلوب کے تقسیم کیا گیا — ہب

مثال یہ ثابت کرو کہ مربع کل خط اور ایک جزء کے برابر ہو تو انمین سے چند مربع دوسرے جزو کی

شکل دوازدہم نظری

اگر مثلثات منفرجۃ الزاویہ مین احد الحادثین سے ضلع مقابل پر بعد الاخراج عمود کھینچا جائے تو زاویہ منفرجہ کے ضلع مقابل کا مربع بڑا ہو گا اوسکے اضلاع

محیط کے مربعون سے بقدر دو چند اوس سطح کے جو اوس ضلع سے گھری ہے جسپر بعد الاخراج عمود واقع ہوا ہے اور اوس خط مستقیم سے جو مثلث کے باہر عمود اور زاویہ منفرجہ کے درمیان مین واقع ہے

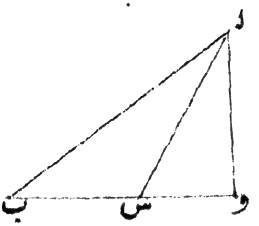

فرض کرو کہ ا ب س △ منفرج الزاویہ ہی اور اسمین ∠ ا س ب زاویہ منفرجہ ہے
ا سے ا د ب س پر بعد الاخراج عمود کھینچو
تو مربع ا ب کا بڑا ہوگا مجموع مربعین ب س و س ا سے بقدر دو چند ا ع ب س س د کے
کیون ب د س پر دو جزون مین تقسیم کیا گیا ہے
∴ مربع ب د = مجموع مربعین ب س و س د اور دو چند ع ب س س د (ش ۴ م ۲)

انمین سے ہر ایک پر مربع د ا زیادہ کر دو
تو مجموع مربعین ب د و د ا = مجموع مربعات ب س و س د و د ا اور دو چند ع ب س س د
لکن مربعین ب د و د ا = مربع ا ب (ش ۴۷ م ۱)
اور مربعین س د و د ا = مربع س ا (ش ۴۷ م ۱)
∴ مربع ا ب = مجموع مربعین ب س و س ا اور دو چند ع ب س س د

∴ مربع اب بڑا ہے مجموع مربعین ب س و س د سے بقدر دو چند
لع ب س س د — ہب

مثالین

۱— شکل منحرف کے قطرون پر کے مربعے ملکر برابر ہوتے ہین اوسکے اون دو ضلعون کے مربعون کے جو متوازی نہین ہین اور دو چند سطح اون ضلعون کے جو متوازی ہین —

۲— اگر اب س مثلث متساوی الاضلاع ہو اور اد وب ی عمود اضلاع مقابل پر جو نقطہ ف پر متقاطع ہین واقع ہون تو یہ ثابت کرو کہ مربع اب برابر ہے سہ چند مربع اف کے

شکل سیزدہم نظری

ہر مثلث مین مربع اوس ضلع کا جو زوایائے حادہ مین سے کسی زاویے کے مقابل ہو کم ہوتا ہے بہ نسبت اون ضلعون کے مربعون کے جو زاویہ مذکورہ پر محیط ہین بقدر دو چند اوس سطح کے جو ان مین سے ایک ضلع سے گھری ہو اور اوس خط مستقیم سے جو درمیان عمود کے کہ زاویہ مقابل سے اوسپر کھینچا جاکر اور اوس زاویہ حادہ کے واقع ہو

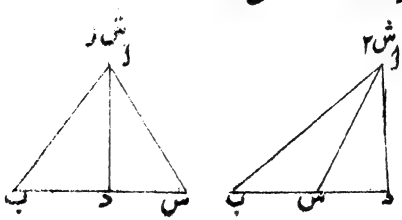

فرض کرو کہ اب س ایک △ ہے اور اوسمین ∠ اب س حادہ ہے
اسے اد ب س پر بدون اخراج یا بعد الاخراج عمود کھینچو
تو مربع اب کم ہوگا مجموع مربعین اب و ب س سے بقدر دو چند لع ب س
ب د کے

اسواسطیکہ ش۱ مین ب س د پر دو جزون مین منقسم ہوا ہے
اور ش۲ مین ب د س پر دو جزون مین منقسم ہوا ہے

∴ دونون صورتون مین
مجموع مربعین ب س و ب د = مجموع دو چند لع ب س ب د اور مربع س د
(ش ۷ م ۲)

انمین سے ہر ایک پر مربع د ا زیادہ کردو
تو مجموع مربعات ب س ب د د ا = مجموع دو چند لع ب س ب د و
مربعین س د و د ا
∴ مجموع مربعین ب س و ا ب = مجموع دو چند لع ب س ب د
و مربع ا س (ش ۷ م ۴۷)
∴ مربع ا س کم ہے بہ نسبت مجموع مربعین ا ب و ب س کے بقدر
دو چند لع ب س ب د کے

جس صورت مین کہ عمود ا د ا س پر منطبق ہوجاے اوسکے ثابت
کرنے کی کچھ ضرورت نہین ہے - ہب

مثال - ثابت کرو کہ مجموع مثلث کے دو ضلعون کے مربعون کا برابر ہوتا ہے
دو چند مجموع مربع نصف قاعدہ کے اور اوس خط کے مربع کے جو راس الزاویہ
کو نقطہ وسط سے وصل کرتا ہے

شکل چہاردہم عملی

ایسا مربع بناؤ جو شکل مستقیم الاضلاع معلوم کے برابر ہو

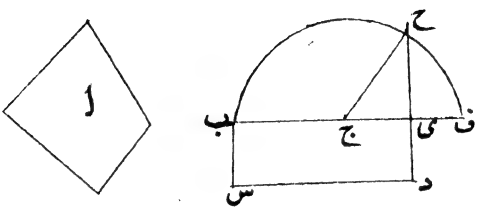

فرض کرو کہ ا شکل مستقیم الاضلاع معلوم ہے

مطلوب یہ ہے کہ ایسا مربع بناؤ جو = شکل ا کے ہو

ب س د ی ▭ قائم الزوایہ = ا بناؤ (ش ۴۵ م ۱)

تو اگر ب ی = ی د کے ہے تو ▭ ب س د ی مربع ہے

پس مطلوب حاصل ہے

لکن اگر ب ی = ی د کے نہین ہے تو ب ی کو ف تک خارج کرو اور

ی ف کو = ی د کرلو

ب ف کو ج پر تنصیف کرو اور مرکز ج سے ج ب کے بعد پر

ب ج ف نصف دائرہ بناؤ

د ی کو ح تک خارج کرو اور ج ح کو ملا دو

تو اب ∵ ب ف ج پر اجزاء متساویہ مین منقسم ہوا ہے اور ی پر اجزاء غیر متساویہ مین

∴ لع ب ی ی ف مع مربع ج ی کے

= مربع ج ف (ش ۵ م ۱)

= مربع ج ح

= مجموع مربعین ی ح و ج ی (ش ۴۷ م ۱)

ان مین ہر ایک سے مربع ج ی نکال ڈالو

تو لع ب ی ی ف = مربع ی ح

لکن لع ب ی ی ف = ب د ∴ ی ف = ی د

∴ مربع ی ح = ب د

∴ مربع ی ح = شکل مستقیم الاضلاع ا۔ ہب

مثالین

۱۔ ایسی شکل متوازی الاضلاع قائم الزاویہ بناؤ جو مربع معلوم کے برابر ہو اور اوسکا ایک ضلع خط مستقیم معلوم کے برابر ہو

۲۔ خط مستقیم معلوم کو دو جزون مین اس طرح تقسیم کرو کہ جو سطح اون سے گھری ہے وہ برابر ہو اوس خط مستقیم کے مربع کے جو نصف خط مقسم سے چھوٹا ہے

متفرق مثالین متعلق بہ مقالہ دوم

۱۔ ایک مثلث مین جسکا راس الزاویہ قائمہ ہے ایک خط مستقیم راس المثلث سے قاعدہ پر عمود کھینچا تو ثابت کرو کہ مربع احد الاضلاع متصلہ زاویہ قائمہ کا برابر ہے اوس سطح کے جو مثلث کے قاعدہ سے اور اوسکے اوس قطعہ سے جو اوس ضلع سے متصل ہے گھری ہے

۲۔ متوازی الاضلاع قائم الزاویہ کے قطرون پر کے مربعے ملکر برابر ہوتے ہین

اوسکے چارون ضلعون کے مربعون کے

۳ — ا ب س د ایک شکل متوازی الاضلاع قائم الزاویہ ہے اور نقطہ د اوسکے اندر یا اوسکے باہر واقع ہے تو ثابت کرو کہ مجموع مربعین و ا و س کا برابر ہے مجموع مربعین و ب و د کے

۴ — اگر احد الاقطار شکل متوازی الاضلاع برابر ہو اون ضلعون مین سے ایک ضلع کے جو شکل مذکور کے زاویہ مقابل کے گرد واقع ہین تو اوس قطر کا مربع چھوٹا ہوگا دوسری قطر کے مربع سے بقدر دو چند اوس مربع کے جو دوسرے ضلع پر کہ اوسی زاویہ مقابل کے گرد ہے واقع ہو

۵ — ا ب خط مستقیم معلوم کو س تک اسطرح خارج کرو کہ جو سطح مجموع ا ب و ا س اور اونکے تفاوت سے حاصل ہو وہ ایک مربع معلوم کے برابر ہو

۶ — ثابت کرو کہ ذوار بعۃ الاضلاع کے قطرون پر کے مربعون کا مجموع کم ہوتا ہے اوسکے چار ضلعون کے مربعون سے بقدر چار چند اوس خط کے مربع کے جو نقاط وسط اقطار مین واصل ہو

۷ — اگر راس المثلث سے ایک عمود کھینچین اور اوسکا مربع برابر ہو اوس سطح کے جو قطعات قاعدہ مثلث سے گھری ہے تو راس الزاویہ قائمہ ہوگا

۸ — ایک خط مستقیم معلوم کو اس طرح خارج کرو کہ سطح کل خط مخرج کی اور ایک اور خط مستقیم معلوم کی برابر ہو مربع جزء مخرج کے —

۹ — ا ب س مثلث قائم الزاویہ مین ا قائمہ ہے اور د تر قائمہ مین دو نقطے د و ی ایسے فرض کئے کہ ب د = ب ا اور س ی = س ا تو ثابت کرو کہ مربع د ی کا برابر ہے دو چند سطح ب ی س د کے

۱۰ — ذو اربعۃ الاضلاع کے قطرون پر کے مربعے ملکر برابر ہوتے ہین دو چند مجموع مربعات اون خطوط مستقیمہ کے جو شکل مذکور کے اضلاع مقابل کے نقاط وسط مین واصل ہون —

۱۱ — اگر مثلث کے ہر زاویہ سے خطوط مستقیمہ نکلکر اضلاع مقابل کی تنصیف کرین تو چار چند اون مربعات کا جو ان خطوط پر ہون برابر ہوگا سہ چند مجموع مربعات اضلاع مثلث کے

۱۲ — س د اب پر جو مثلث اب س کا ایک ضلع ہے عمود کھینچا اور ضلع اس = اب تو ثابت کرو کہ مربع س د کا برابر ہے مربع ب د کے مع دو چند سطح ا د د ب کے فقط

شکل ۲۵ کا دوسری طرح سے ثبوت

فرض کرو کہ △ اب س و دی ف مین اب = دی اور اس = دف

مگر ∠ ب اس بڑا ہے ∠ ی دف سے

تو ب س بڑا ہوگا ی ف سے

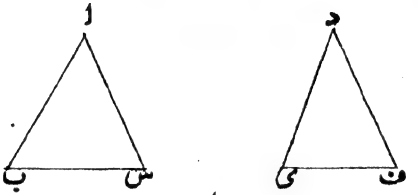

△ دی ف کو △ اب س پر چسپان کرو

اسطرح سے کہ دی اب پر منطبق ہو جائے

تو ∵ ∠ ی دف چھوٹا ہے ∠ ب اس سے

دف درمیان ب ا و اس کے واقع ہوگا

اور ف یا عین ب س پر واقع ہوگا یا اوسکے اوپر یا اوسکے نیچے

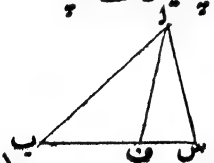

۱- اگر ف عین ب س پر واقع ہو

تو ب ف چھوٹا ہو ب س سے

∴ ی ف چھوٹا ہے ب س سے

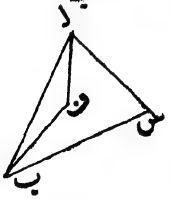

۲- اگر ب ف س کے اوپر واقع ہو

تو ب ف و ف ا ملکر چھوٹے ہین ب س و س ا سے

اور ف ا = س ا

∴ ب ف چھوٹا ہے ب س سے

∴ ی ف چھوٹا ہے ب س سے

۳ — اگر ف ب س کے نیچے واقع ہو

تو فرض کرو کہ ا ف ب س کو و پر قطع کرتا ہے

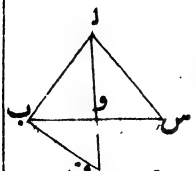

(ش ۲۰ م ۱)

تو ب و و ف ملکر بڑے ہین ب ف سے

اور و س و ا و ..... ا س سے (ش ۲۰ م ۱)

∴ ب س و ا ف ..... ب ف و ا س کے مجموع سے

اور ا ف = ا س

∴ ب س بڑا ہے ب ف سے

اور ∴ ی ف چھوٹا ہے ب س سے — ہب

ثبوت شکل بست و ششم بر طبق اقلیدس

اگر دو مثلثون مین سے ایک مثلث کے دو زاویے برابر ہون دوسرے مثلث کے دو زاویون کے ہر ایک اپنے نظیر کے اور ایک ایک ضلع ہر ایک کا برابر ہو یعنے یا وہ ضلعے برابر ہون جو برابر زاویون سے متصل ہین یا وہ ضلعے جو زاویے متساویہ کے مقابل ہین تو اور ضلعے بھی باہم برابر ہون گے ہر ایک اپنے نظیر کے اور تیسرا زاویہ ایک مثلث کا برابر ہوگا دوسرے مثلث کے تیسرے زاویے کے

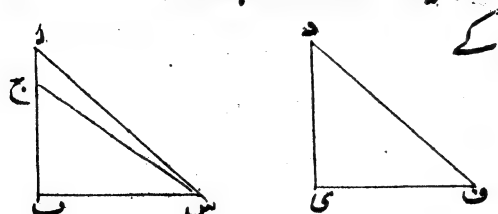

فرض کرو کہ △ اب س و دی ف مین

∠ اب س = ∠ دی ف اور ∠ اس ب = ∠ دف ی

اور اولاً فرض کرو کہ

زوایاے متساویہ کے مقابل ضلعے برابر ہین

یعنے ب س = ی ف

تو اب = دی اور اس = دف اور ∠ ب اس = ∠ ی دف

اسواسطیکہ اگر اب = دی نہین ہے تو ان مین سے ایک بڑا ہوگا

فرض کرو کہ اب بڑا ہے اور ج ب کو = دی کرلو اور ج س کو ملادو

تو △ ج ب س و دی ف مین

∵ ج ب = دی اور ب س = ی ف اور ∠ ج ب س = ∠ دی ف

∴ ∠ ج س ب = ∠ دف ی (ش ۴ م ۱)

لکن ∠ اس ب = ∠ دف ی بموجب فرض کے

∴ ∠ ج س ب = ∠ اس ب

یعنی چھوٹا = بڑے کے یہ غیر ممکن ہے

∴ اب دی سے بڑا نہین ہے

اسی طرح سے یہ بھی ثابت ہوسکتا ہے کہ اب دی سے چھوٹا نہین ہے

∴ اب = دی

تو اب △ اب س و دی ف مین

∵ اب = دی اور ب س = ی ف اور ∠ اب س = ∠ دی ف

∴ اس = دف اور ∠ ب اس = ∠ ی دف (ش ۴ م ۱)

ثانیاً۔ فرض کرو کہ ہر مثلث مین زوایاے متساویہ کے مقابل کے ضلعے برابر ہین

یعنے ا ب = د ی

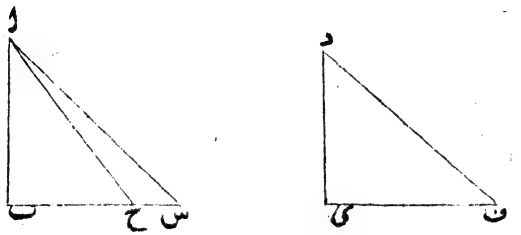

تو ا س = د ف اور ب س = ی ف اور ∠ ب ا س = ∠ ی د ف

اس واسطیکہ اگر ب س = ی ف نہین ہے تو فرض کرو کہ ب س بڑا ہے

اور ب ح کو = ی ف کرلو اور ا ح کو ملا دو

تو △ ا ب ح و د ی ف مین

∵ ا ب = د ی اور ب ح = ی ف اور ∠ ا ب ح = ∠ د ی ف

∴ ∠ ا ح ب = ∠ د ف ی (ش ۴ م ۱)

لکن ∠ ا س ب = ∠ د ف ی بموجب فرض کے

∴ ∠ ا ح ب = ∠ ا س ب

یعنی زاویہ خارجہ △ ا ح س کا برابر ہے مقابل کے زاویہ داخلہ ∠ ا س ب کو

یہ غیر ممکن ہے (ش ۱۶ م ۱)

∴ ب س ی ف سے بڑا نہین ہے

اسی طرح سے یہ بھی ثابت ہو سکتا ہے کہ ب س ی ف سے چھوٹا نہین ہے

∴ ب س = ی ف

تو اب △ ا ب س و د ی ف مین

∵ ا ب = د ی اور ب س = ی ف اور ∠ ا ب س = ∠ د ی ف

∴ ا س = د ف اور ∠ ب ا س = ∠ ی د ف — ہب

متفرق مثالین متعلق بہ مقالۂ اول و دوم

۱ — ا ب و س د خطوط مستقیمہ متساویہ ایک دوسرے کی تنصیف کرکے زاویے قائمہ پیدا کرتے ہین تو یہ ثابت کرو کہ ا س ب د مربع ہے

۲ — شکل متوازی الاضلاع کے ایک ضلع مین ایک نقطہ فرض کرکے اوس سے ایسا خط کھینچو کہ وہ اوسے دو مساوی جزون مین تقسیم کردے

۳ — دو خطوط متقاطعہ کے درمیان مین ایک نقطہ واقع ہے اوس سے ایک ایسا خط کھینچو کہ وہ خطوط معلومہ پر منتہی ہو جاے اور نقطہ معلومہ پر تنصیف ہو جاے

۴ — مثلث متساوی الساقین قائم الزاویہ کے وتر قائمہ پر کا مربع برابر ہوتا ہے چہار چند اوس مربع کے جو ایسے عمود پر ہو جو زاویہ قائمہ سے وتر قائمہ پر کھینچا جاے

۵ — ایسی شکل معین بناؤ جو مثلث معلوم کے برابر ہو اور اوسکا ہر ایک ضلع اوس مثلث کے ایک ضلع کے برابر ہو

۶ — مربع کے قطر اور ایک ضلع مین طولاً تفاوت معلوم ہے سارا مربع بناؤ

۷ — دو خط مستقیم نقطہ و پر تقاطع کرکے زاویے قائمہ پیدا کرتے ہین اور اوس نقطہ پر ایک میخ گڑی ہے اور اوس مین دو چھلے ایسے ڈورے سے بندھے ہین کہ وہ گھٹ بڑھ نہین سکتا پس اگر چھلون کو اون دونون خطون پر پھسلائین تو یہ ثابت کرو کہ جب یہ چھلے نقطہ و سے متساوی البعد ہون گے جب یہ باہم بہت قریب ہو جائین گے —

۸ — ا ب س د شکل متوازی الاضلاع ہے اور ا س و ب د اوسکے قطر نقطہ

و پر متقاطع ہین تو یہ ثابت کرو کہ اگر شکل متوازی الاضلاع ا و ب ف و د و س ق پوری بنائی جائین تو جو خط مستقیم کہ ف و ق مین واصل ہو وہ و مین سے گذرے گا

۹ — ا ب س د و ی ب س ف دو شکل متوازی اضلاع ایک ہی قاعدہ ب س پر اس طرح واقع ہین کہ س ف ا مین سے گذرا ہے د ف کو ملا دو اور اسے خارج کرکے ب ی سے ملا دو جو ك سے خارج ہوا ہے اور ف ب کو ملا دو اب ثابت کرو کہ مثلث ف ا ب برابر ہے مثلث ف ی ك کے

۱۰ — ذوالاضلاع الکثیرہ کے اضلاعِ متبالہ کو خارج کرکے ملا دیا تو ثابت کرو کہ سب زاویے نقاطِ تقاطع پر کے مع چار قائمون کے برابر ہین تمام زوایاے داخلہ ذو اضلاع کثیرۂ مذکورہ کے

۱۱ — ثابت کرو کہ شکل متوازی الاضلاع قائم الزاویہ کا محیط ہمیشہ بڑا ہوتا ہے اوسکے برابر مربع کے محیط سے

۱۲ — ثابت کرو کہ مسدس متساوی الزوایا کے اضلاع مقابل باہم متوازی ہوتے ہین اگرچہ وہ مساوی نہون اور دو متصل ضلعے اوسکے ملکر برابر ہوتے ہین ضلعین متوازیین کے

۱۳ — اگر دو خطوطِ مستقیمہ متساویہ کسی مقام پر تقاطع کرکے زاویے قائمے پیدا کرین تو ثابت کرو کہ رقبہ اوس دوار بعۃ الاضلاع کا جو ان خطوط کے اطراف کے ملا دینے سے پیدا ہو موافق اور مساوی ہے نصف مربع احد الخطین کے

۱۴ — ا س ب و ا د ب ذو مثلث ایک ہی قاعدہ ا ب کی ایک ہی جہت مین بنائے تو ثابت کرو کہ اگر ا س = ب د اور ا د = ب س تو س د متوازی ہے ا ب کے لکن اگر ا س = ب س اور ا د = ب د تو س د عمود ہے ا ب پر

۱۵ — اب س مثلث قائم الزوایہ کے وتر قائمہ اب مین ایک نقطہ د ایسا بناؤ کہ د ب برابر ہو اوس عمود کے جو د سے اس پر کھینچا جائے

۱۶ — یہ ثابت کرو کہ مثلث متساوی الساقین کا محیط چھوٹا ہوتا ہے اوس مثلث کے محیط سے جسکا رقبہ اوسکے مساوی ہو اور جو ایک ہی قاعدہ پر ہو

۱۷ — اگر مثلث متساوی الساقین کے برابر زاویون مین سے ہر زاویہ برابر ہو ایک ربع زاویۃ الراس کے اور اون مین سے ایک زاویہ سے عمود قاعدہ تک کھینچا جاے اور وہ ضلع مقابل سے بعد الاخراج ملے تو ضلع مخرج اور عمود اور ضلع باقی سے ایک مثلث متساوی الاضلاع پیدا ہوگا

۱۸ — اگر ایک خط مستقیم ایک مثلث کے اضلاع پر منتہی ہو اور تنصیف کیا جاے تو ثابت کرو کہ اور کوئی خط جو اونھین دو ضلعون پر منتہی ہو اوسی نقطہ پر تنصیف نہین ہوسکتا

۱۹ — ایک نقطہ معینہ سے دو خطوط مستقیمہ متوازیہ تک دو خطوط مستقیمہ متساویہ کھینچو کہ وہ باہم زاویے قائمے پیدا کرین

۲۰ — شکل معین کے دو قطرون کا طول معلوم ہے ساری شکل معین بناؤ

۲۱ — اب س د شکل ذو اربعۃ الاضلاع ہے پس ایک مثلث بناؤ کہ اوسکا قاعدہ خط اب مین ہو اور اوسکا ارتفاع ایک خط معلوم کے برابر ہو اور اوسکا رقبہ ذو اربعۃ الاضلاع مذکور کے رقبہ کے برابر ہو

۲۲ — اگر مثلث اب س مین س زاویہ قائمہ ہو تو ثابت کرو کہ کیونکر ایسا خط مستقیم کھنچ سکتا ہے جو ایک خط مستقیم معلوم کے متوازی ہو اور س اور ب پر منتہی ہو اور اب پر تنصیف ہو جاے

۲۳ — اگر مثلث ا ب س مین س زاویہ قائمہ ہو اور اس مین ایک نقطہ د سے د ی ا ب پر عمود کھینچا جاے تو ثابت کرو کہ سطح ا ب ا ی اور سطح ا س ا د باہم برابر ہین —

۲۴ — ایک ایسا خط کھینچا کہ وہ ا ب س د شکل متوازی الاضلاع کی تنصیف کرکے ا د اور ب س سے ی و ف پر مل گیا تو ثابت کرو کہ مثلث ی ب ف و س ی د باہم برابر ہین

۲۵ — ا ب س مثلث قائم الزاویہ کے وتر قائمہ ب س پر اور ضلع س ا و ا ب پر مربعات ب د و ی س و ا ف و ا ج بنائے تو ثابت کرو کہ مربعین د ج و ی ف ملکر برابر ہین چہار چند مربع ب س کے

۲۶ — اگر مثلث کے راس الزاویہ سے تین خطوط مستقیمہ کھینچے جائین اور اور اونمین سے ایک خط اوس زاویہ کی تنصیف کرے دوسرا قاعدہ کی تنصیف کرے اور تیسرا قاعدہ پر عمود ہو تو ثابت کرو کہ پہلا خط وضعًا و مقدارًا دونون طرح سے باقی دو خطون کے درمیان واقع ہوگا —

۲۷ — یہ ثابت کرو کہ شکل معین کا رقبہ برابر ہوتا ہے نصف اوس سطح کے جو اوسکے قطرون سے گھری ہو

۲۸ — فرض کرو کہ ا س ب و ا د ب دو مثلث قائم الزاویہ ایک ہی قاعدہ ا ب پر واقع ہین س د کو ملا دو اور س د کو دونون طرف خارج کرکے اوسپر ا ی و ب ف عمود کھینچو اب یہ ثابت کرو کہ س ی و س ف پر کے مربعون کا مجموع برابر ہے د ی و د ف پر کے مربعون کے مجموع کے

۲۹ — ایک مثلث کی قاعدہ اس مین ایک نقطہ د فرض کرو اور ا د و د س و ا ب و ب س کو نقاط ی و ف و ج و ح پر تنصیف کرو اب یہ ثابت کرو کہ ی ج متوازی اور برابر ہے ف ح کے

۳۰ — اگر اب س مثلث متساوی الساقین کے راس الزاویہ سے خط ا د قاعدے کے ایک نقطہ د تک کھینچا جائے تو ثابت کرو کہ سطح ب د د س برابر ہے تفاوت مربعین اب و ا د کے

۳۱ — اگر مربع کے ضلعون مین چار نقطے ایسے فرض کرین کہ اوسکے چار زاویون کے نقطون سے متساوی البعد ہون تو جو شکل کہ ان نقطون مین خطوط مستقیمہ ملنے سے پیدا ہو وہ بھی مربع ہوگی

۳۲ — اگر مثلث اب س کے نقاط الزوایا سے اوسکے اضلاع پر اف و ب ق و س د عمود کھینچے جائین تو ثابت کرو کہ یہ عمود مثلث ف ق ر کے زاویون کی تنصیف کرتے ہین

۳۳ — ذو اربعۃ الاضلاع کے قطر جو اوسے چار مثلثون مین تقسیم کر دیتے ہین اگر انمین سے دو مقابل کے مثلث باہم برابر ہون تو ذو اربعۃ الاضلاع مذکور شکل منحرف ہوگی

۳۴ — اب س د و ا ی س ف دو اشکال متوازی الاضلاع ہین اور ی ا و ا د ایک ہی خط مستقیم مین ہین اور ف ج کو اس کے متوازی کھینچکر ب ا سے جو ج تک کھینچا گیا ہے ملا دیا تو مثلث ا ب ی برابر ہے مثلث ا د ج کے

۳۵ — مربع اب س د کے قطر اس سے ا ی برابر ایک ربع اس کے قطع کرو اور ب ی و د ی کو ملا دو اب ثابت کرو کہ شکل ب ا د ی برابر ہے دو چند مربع ا ی کے

۳۶ — اگر مثلث اب س مین زاویہ ب و زاویہ س ہر ایک دو چند ہو زاویہ ا کا تو ثابت کرو کہ مربع اب کا برابر ہے مربع ب س مع دو چند سطح اب ب س کے

۳۷ — اگر ذوار بعۃ الاضلاع کے دو ضلعے باہم متوازی ہون تو جو مثلث کہ اوسکے اور دو ضلعون مین سے ایک ضلع کے اور اون دو خطوط مستقیمہ کے درمیان مین واقع ہو جو اوسکے اطراف سے ضلع مقابل کے نقطہ وسط تک کھینچے ہین تو وہ مثلث ذوار بعۃ الاضلاع مذکور کا نصف ہوگا —

۳۸ — اگر ذوار بعۃ الاضلاع کے دو مقابل زاویے قائمے ہون تو جو زاویے کہ اونکے ضلعون مین سے ہر ایک ضلع کے مقابل ہون وہ برابر ہون گے

۳۹ — اگر مثلث کے ضلعے اپنے طول اصلی سے دو چند طول تک علی الترتیب خارج کیے جائین اور اوسکے اطراف خارجیہ وصل کر دیے جائین تو جو مثلث کہ اب پیدا ہوگا وہ پہلے مثلث کا ہفت چند ہوگا

۴۰ — اگر مثلث متساوی الساقین قائم الزاویہ کے زاویون مین سے ایک زاویہ حادّہ تنصیف کیا جائے تو اوسکا ضلع مقابل خطِ منصف سے ایسے دو جزؤن مین تقسیم ہو جائے گا کہ ایک جزء کا مربّع دو چند ہوگا دوسری جزء کے مربع کے

۴۱ — مثلث ا ب س مین زاویہ ب قائمہ ہے اور ب د عمود قاعدہ پر کھینچا گیا اور ی تک خارج کیا گیا یہان تک کہ ی س ب زاویہ قائمہ پیدا ہوا تو ثابت کرو کہ مربع ب س کا برابر ہے مجموع سطوح ا د د س و ب د د ی کے

۴۲ — ثابت کرو کہ مجموع دو خطون کے مربعون کا زیادہ ہوتا ہے دو چند اوس سطح سے جو اون خطون سے گھری ہو

۴۳ — ہر مثلث مین مجموع اون خطوط مستقیمہ کے مُربّعات کا جو زاویون سے اضلاعِ مقابل کے نقاط وسط تک کھینچے جائین برابر ہوتا ہے تین ربع مجموع مربعات اضلاع مثلث کے

۴۴ — اگر کئی اشکال متوازیۃُ الاضلاع بنائی جائین اور اونکے اضلاع کا طول

معلوم ہو تو ثابت کرو کہ اونمین سے ہر ایک شکل کے اقطار کے مربعونکا مجموع ایک ہی ہوگا

۴۵ — اب س د شکل متوازی الاضلاع قائم الزاویہ ہی اور اب دو چند ہے ب س کا اور اب پر ایک مثلث متساوی الاضلاع بنایا تو ثابت کرو کہ اس مثلث کا رقبہ شکل مذکور کے رقبہ سے چھوٹا ہوگا

۴۶ — مثلث ا ب س کے اندر ایک نقطہ و فرض کیا اس طرح سے کہ زاویے ب و س و س و ا و ا و ب باہم برابر ہین تو ثابت کرو کہ مربعات ب س و س ا و ا ب کے ملکر برابر ہین سطوح و ب و س و و س و ا و و ا و ب کے اور دو چند مجموع مربعات و ا و و ب و و س کے فقط

تمام شد مقالہ دوم مع امثلہ

پانچوین شکل کا ثبوت جسطرح سے اقلیدس نے لکھا ہے

مثلث متساوی الساقین کے قاعدہ پر کے زاویے باہم برابر ہوتے ہین اور اگر ضلعین متساوین خارج کیے جائین تو قاعدہ کے دوسری طرف زاویے بھی برابر ہون گے

فرض کرو کہ اب س △ متساوی الساقین ہے

اور اوسمین اب = اس

اب و اس کو د و ی تک خارج کرو

تو ∠ اب س = ∠ اس ب

اور ∠ د ب س = ∠ ی س ب

ب د مین ایک نقطہ ف فرض کرو

ای سے اج = اف قطع کرو

ف س و ج ب کو ملادو

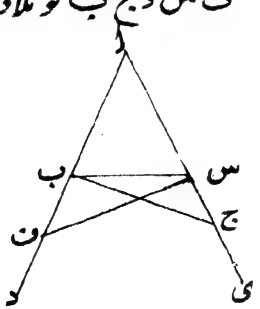

تو △ اف س و اج ب مین

∵ ف ا = ج ا اور ا س = ا ب اور ∠ ف ا س = ∠ ج ا ب

∴ ف س = ج ب اور ∠ ا ف س = ∠ ا ج ب اور ∠ ا س ف

= ∠ ا ب ج (ش ۴ م ۱)

پھر ∵ ا ف = ا ج

اور اونکے اجزا ا ب و ا س برابر ہین

∴ باقی ب ف = باقی س ج (ع ۳)

تو اب △ ب ف س و س ج ب مین

∵ ب ف = س ج اور ف س = ج ب اور ∠ ب ف س = ∠ س ج ب

∴ ∠ ف ب س = ∠ ج س ب اور ∠ ب س ف = ∠ س ب ج (ش ۴ م ۱)

اور یہ ثابت ہو چکا ہے کہ ∠ ا س ف = ∠ ا ب ج

اور انکے اجزاء ∠ ب س ف و ∠ س ب ج باہم برابر ہین

∴ باقی ∠ ا س ب = باقی ∠ ا ب س (ع ۳)

اور یہ بھی ثابت ہو چکا ہے کہ ∠ ف ب س = ∠ ج س ب

یعنے ∠ د ب س = ∠ ی س ب

ہب

چھٹی شکل کا ثبوت جسطرح اقلیدس نے لکھا ہے

اگر مثلث کے دو زاویے باہم برابر ہون تو جو ضلعے ان مساوی زاویون کے مقابل ہین وہ بھی آپس مین برابر ہون گے

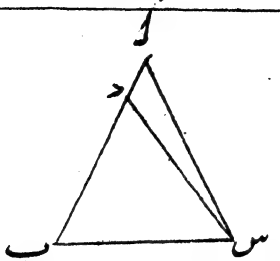

فرض کرو کہ △ اب س مین ∠ اس ب = ∠ اب س

تو اب = اس

اسواسطے کہ اگر ایسا نہین ہے تو اب یا اس سے بڑا ہی یا اوس سے چھوٹا ہی

فرض کرو کہ اب اس سے بڑا ہے

اب مین سے ب د = اس قطع کرو

تو △ د ب س و اس ب مین

∵ د ب = اس اور ب س مشترک ہی اور ∠ د ب س = ∠ اس ب

∴ △ د ب س = △ اس ب (ش ۴ م ۱)

یعنی چھوٹا = بڑے کے یہ خلاف عقل ہے

∴ اب اس سے بڑا نہین ہے

اسی طرح سے یہ بھی ثابت ہو سکتا ہے کہ اب اس سے چھوٹا نہین ہے

∴ اب = اس

ہب

ثبوت شکل ہفتم مقالہ اول بر طبق اقلیدس

ایک ہی قاعدہ پر اور اوسکی ایک ہی طرف ایسے دو مثلث نہین بن سکتے جنکے ضلعے کہ قاعدہ کی ایک طرف پر منتہی ہون باہم برابر ہون اور جو ضلعے کہ قاعدہ

کے دوسری طرف پر منتہی ہوں وہ بھی باہم برابر ہوں

اگر ایسا ممکن ہو تو فرض کرو کہ ایک ہی قاعدہ ا ب پر اور اوسکے ایک ہی طرف دو مثلث ا س ب و ا د ب ایسے بنائے کہ ا س = ا د و نیز ب س = ب د

س د کو ملا دو

اوّلاً — جبکہ ہر ایک مثلث کا راس دوسرے کے باہر واقع ہو جیسے ش ا مین ہے

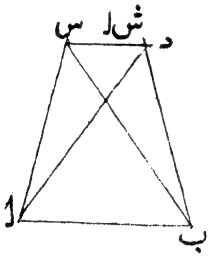

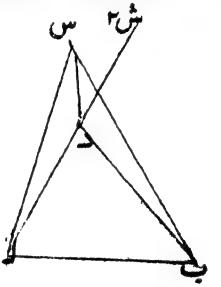

∵ ا د = ا س

∴ ∠ ا س د = ∠ ا د س (ش ۵ م ۱)

لیکن ∠ ا س د ∠ ب س د سے بڑا ہے

∴ ∠ ا د س ∠ ب س د سے بڑا ہے

∴ ∠ ب د س ∠ ب س د سے بہت بڑا ہے

پھر ∵ ب س = ب د

∴ ∠ ب د س = ∠ ب س د

یعنی ∠ ب د س ∠ ب س د کے برابر بھی ہے اور اوس سے بڑا بھی ہے یہ خلاف عقل ہے

ثانیاً — جبکہ ایک مثلث کا راس د دوسریکے اندر واقع ہو جیسے ش ۲ مین ہے

اس اور ا د کو ی اور ف تک خارج کرو

تو ∵ اس = ا د

∴ ∠ ی س د = ∠ ف د س (ش ۵ م ۱)

لیکن ∠ ی س د ∠ ب س د سے بڑا ہے

∴ ∠ ف د س ∠ ب س د سے بڑا ہے

تو ∠ ب د س ∠ ب س د سے بہت بڑا ہے

پھر ∵ ب س = ب د

∴ ∠ ب د س = ∠ ب س د

یعنی ∠ ب د س ∠ ب س د کے برابر بھی ہے اور اوس سے بڑا بھی ہے یہ محال ہے

ثالثاً — جب ایک مثلث کا راس د دوسرے کے ضلع ب س پر واقع ہو تو ظاہر ہے کہ ب س اور ب د باہم برابر نہین ہو سکتے

ہب

ثبوت شکل ہشتم مقالہ اول موافق اقلیدس

اگر دو مثلثون مین سے ایک کے دو ضلعے دوسرے کے دو ضلعون کے برابر ہون کُلٌّ لِنَظیرہ اور اونکے قاعدے بھی برابر ہون تو ایک مثلث کے اون دو ضلعون کا درمیانی زاویہ برابر ہوگا دوسری کے ضلعون کے درمیانی زاویہ کے خوب

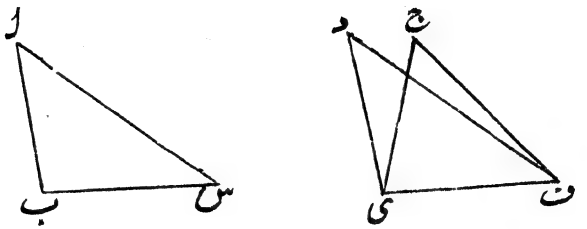

فرض کرو کہ △ اب س و د ی ف کے ضلعے برابر ہین کُلٌّ لِنَظِیرہ

یعنی اب = د ی اور اس = د ف اور ب س = ی ف

تو ∠ ب اس = ∠ ی د ف

△ اب س کو △ د ی ف پر چسپان کرو

اس طرح سے کہ نقطہ ب نقطہ ی پر واقع ہو اور ب س ی ف پر

تو ب س = ی ف

∴ س ف پر منطبق ہو جاے گا

اور ب س ی ف پر منطبق ہو جاے گا

تو اب اور اس دی اور دف پر منطبق ہو جائین گے

اس واسطے کہ اگر اب اور اس علیحدہ علیحدہ واقع ہون جیسے ج ی اور ج ف

تو یہ لازم آئیگا کہ ایک ہی قاعدہ پر اور اوسکے ایک ہی طرف دو ایسے مثلث بنین جنکے دو

ضلعے کہ قاعدہ کے ایک ہی طرف پر منتہی ہین باہم برابر ہون اور وہ دو ضلعے بھی جو قاعدہ

کی دوسری طرف پر منتہی ہین باہم برابر ہون یہ محال ہے (ش ۷ م ۱)

اب چونکہ قاعدہ ب س قاعدہ ی ف پر منطبق ہو گیا ہے

∴ اب دی پر اور اس دف پر ضرور منطبق ہوگا

∴ ∠ ب ا س ∠ ی د ف پر منطبق ہوگا اور اوسکے برابر ہوگا

ہب

۵۱۳ ھ - أ

آخری درج شدہ تاریخ پر یہ کتاب مستعار
لی گئی تھی مقررہ مدت سے زیادہ رکھنے کی
صورت میں ایک آنہ یومیہ دیرانہ لیا جائے گا۔

۴۳۷۸

کتب خانہ
جامعہ عثمانیہ

۱۔ اراکین مجلس اعلیٰ مجلس تعلیم مجلس انتظامی
مجالس شعبہ جات نصاب پنج کتابیں ایک وقت ایک استاد ایک امتحان ایک مکمل
۲۔ اساتذہ جامعہ عثمانیہ مکمل جات تحقیق دو کتابیں عہدہ داران جامعہ
اور اراکین دارالترجمہ دس کتابیں ایک پاس ایک اپنے پاس رکھ سکیں گے
۳۔ طلبا تین جو شرح وہ کتابیں بی اے ایل ایل بی اور تحقیقاتی جماعتوں کے
طلبہ تین کتابیں ایم اے کے طلبہ تین کتابیں دو مختصر پاس رکھ سکیں گے
طلبہ پانچ کتابیں دو مختصر پاس رکھ سکیں گے
۴۔ مدت مقررہ پر کتابیں واپس نہ ہوں تو طلبہ سے جواب
طلب کیا جائیگا۔
ایک آنہ یومیہ فی کتاب دیرانہ لیا جائیگا۔
۵۔ بشرط موقع کتابیں کرجاتی کی جاسکینگی مگر اس شرط کے
ساتھ کہ کتاب کا لانا لازم ہے۔
۶۔ کتابیں گم ہو جائیں تو مستعیر ذمہ دار
ضامن ہوگا۔
۷۔ کتابوں پر کسی قسم کا نشان بنانا یا پنسل سے
دھبا پانا۔
۸۔ قلمی نسخے اور رسالے کی کتابیں
جاری نہ کیجائینگی۔ فقط